2018-AYT/Sosyal Bilimler-2

SOSYAL BİLİMLER-2 TESTİ

1. Bu testte sırasıyla, Tarih-2 (1-11), Coğrafya-2 (12-22), Felsefe Grubu (23-34), Din Kültürü ve Ahlak Bilgisi (35-40), Din Kültürü ve Ahlak Bilgisi dersini yasal olarak almak zorunda olmayan veya farklı müfredat ile alanlar için Felsefe Grubu (41-46) alanlarına ait toplam 46 soru vardır.
2. Cevaplarınızı, cevap kâğıdının Sosyal Bilimler-2 Testi için ayrılan kısmına işaretleyiniz.

1.
- Konya'nın Çumra ilçesinin 10 km güneydoğusunda yer alır.
- MÖ 7000'li yıllardan kalma bir yerleşim yeridir.
- Neolitik Çağ'a ait buluntulara rastlanmıştır.
- Penceresiz ve girişleri çatıdan olan kerpiç evler bulunmaktadır.

Tarih öncesi döneme ait bu yerleşim yeri, aşağıdakilerden hangisidir?

A) Alacahöyük B) Göbeklitepe C) İkiztepe

D) Çatalhöyük E) Alişar

2. Göçebe Türklerde bozkır hayatı içerisinde, taşınabilir mesken ihtiyacına cevap verdiği söylenebilecek unsur aşağıdakilerden hangisidir?

A) Kurgan B) Tuğ C) Otağ

D) Balbal E) Ongun

3. Aşağıdakilerden hangisi, Büyük Selçuklu Devleti'nin hüküm sürdüğü yıllarda, ortaya çıkan kollarından biri <u>değildir</u>?

A) Irak B) Kirman C) Horasan

D) Suriye E) Türkiye

4. Osmanlı Devleti'nin Haçlılarla imzaladığı Edirne-Segedin Antlaşması öncesinde Haçlılarla ittifak yaparak Osmanlıları zor durumda bırakan beylik aşağıdakilerden hangisidir?

A) Aydınoğulları B) Ramazanoğulları

C) Dulkadiroğulları D) Karamanoğulları

E) Candaroğulları

5. Aşağıdakilerden hangisi Kanuni Sultan Süleyman Dönemi'nde Osmanlı Devleti'nin, Avrupalılar karşısında üstünlük sağlamasında etkili olan gelişmelerden biri <u>değildir</u>?

A) Osmanlıların Akdeniz'de deneyimli korsanlarla iş birliği yapması

B) Osmanlı Devleti'nin Fransa'ya kapitülasyonlar vermesi

C) Osmanlıların, Şarlken'in Avrupa'yı egemenliği altına almasına engel olması

D) Avrupa'da Reform hareketlerinin etkili olması

E) Portekizlilerin Hint Okyanusu'ndaki faaliyetlerini artırması

6. Aşağıdakilerden hangisi Avrupalı devletlerin isteğiyle 1841 yılında, Londra Boğazlar Antlaşması'nın imzalanma nedenlerinden biri olarak gösterilemez?

A) Avusturya'nın, Rusya ile Balkanlarda nüfuz mücadelesine girmesi

B) Rusya'nın Akdeniz'de güç kazanmasının, İngiltere ve Fransa'nın ekonomik ve siyasi çıkarlarına ters düşmesi

C) Avrupalı devletlerin Boğazlar'ın kapalılığı ilkesini, uluslararası bir statüye bağlamak istemeleri

D) Hünkâr İskelesi Antlaşması ile Rusya'nın Boğazlar üzerinde elde ettiği gücün ortadan kaldırılmak istenmesi

E) Mehmet Ali Paşa İsyanı'nın da etkisiyle Osmanlı Devleti'nin Avrupalı devletlerin desteğini araması

7. Aşağıdakilerden hangisi Osmanlı Devleti'nin Balkan savaşlarında kaybettiği yerler arasında gösterilemez?

A) Arnavutluk
B) Bosna-Hersek
C) Makedonya
D) Ege Adaları
E) Batı Trakya

8. Sivas Kongresi'ne katılan delegelerin İttihat ve Terakki Fırkasının yeniden canlandırılmasına çalışılmayacağı ve var olan siyasi partilerden hiçbirinin siyasi emellerine hizmet edilmeyeceği konusunda yemin etmelerinin amacı aşağıdakilerden hangisidir?

A) Mustafa Kemal Paşa'nın başkanlığı konusundaki tartışmaları önlemek

B) Yeni partilerin kurulması için uygun zemin oluşturmak

C) Hürriyet ve İtilaf Fırkasının desteğini almak

D) Siyasi bölünmelerin önüne geçerek bütünlüğü sağlamak

E) Yeni siyasi liderlerin ortaya çıkmasına ortam hazırlamak

9. Cumhuriyet'in ilanından sonra Mustafa Kemal Atatürk'ün cumhurbaşkanı seçilmesiyle başlayan yeni dönemde Türkiye Cumhuriyeti'nin ilk Başbakanı ve ilk Meclis Başkanı aşağıdakilerin hangisinde verilmiştir?

	Başbakan	Meclis Başkanı
A)	İsmet İnönü	Ali Fethi Okyar
B)	Ali Fethi Okyar	Rauf Orbay
C)	Kâzım Karabekir	Ali Fethi Okyar
D)	İsmet İnönü	Ali Fuat Cebesoy
E)	Rauf Orbay	İsmet İnönü

10. ABD; Orta Doğu'nun SSCB'nin kontrolüne girmesini engellemek ve bölge halkını kendi yanına çekmek için Orta Doğu ülkelerine ekonomik ve askerî yardım yapmak, bu ülkelere komünist bloktan bir saldırı gelmesi hâlinde silahlı kuvvetleriyle onları savunmak amacıyla çalışmalar yapmış, böylece Orta Doğu ile ilişkilerini geliştirmiştir.

Bu politikaların dayanağı aşağıdakilerden hangisidir?

A) Balfour Deklarasyonu

B) Eisenhower Doktrini

C) Marshall Planı

D) Truman Doktrini

E) Schuman Bildirgesi

11. 1996 yılında "Dolly**" adlı koyunun kopyalanmasıyla gerçekleştirilen canlı kopyalama uygulamasının;**

I. soyları tükenmekte olan canlı türlerinin varlığını sürdürebilme,

II. doku ve organ nakli gerektiren hastalıkların tedavisine katkıda bulunma,

III. nanoteknoloji uygulamalarının tıp dışındaki alanlarda da yaygınlaşmasını sağlama

beklentilerinden hangilerine yönelik olarak gerçekleştirildiği söylenebilir?

A) Yalnız I B) Yalnız III C) I ve II

D) II ve III E) I, II ve III

12. Aşağıdaki haritada bazı alanlar numaralandırılarak koyu renkle gösterilmiştir.

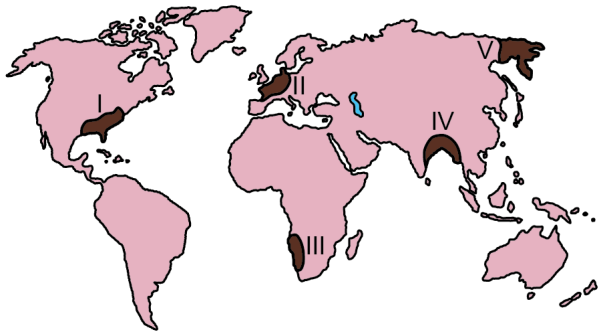

Bu alanların hangilerinde, insan faaliyetlerinin biyoçeşitliliğe olan olumsuz etkilerinin <u>daha az</u> olması beklenir?

A) I ve II B) I ve IV C) II ve III

D) III ve V E) IV ve V

13. İnsan faaliyetlerine bağlı olarak doğal sistemlerdeki bazı değişimler gelecekte birçok olumsuz durumun ortaya çıkmasına neden olacaktır.

Buna göre;

I. küresel ısınmaya bağlı olarak buzulların hızla erimesi,

II. artan nüfusa bağlı olarak yerleşmelerin dikey yönlü büyümesi,

III. orman alanlarının hızla yok edilmesi,

IV. gelişen teknolojiye bağlı yeni araçların yapılması

faaliyetlerinden hangileri bu olumsuz durumlara <u>daha fazla</u> neden olacaktır?

A) I ve II B) I ve III C) II ve III

D) II ve IV E) III ve IV

14. Aşağıdaki şehirlerden hangisinin nüfuslanması ve büyümesinde sanayi fonksiyonunun etkisi belirleyici olmuştur?

A) Roma B) Tokyo C) Hong-Kong

D) Dubai E) Johannesburg

15. Günümüz toplumlarının bir bölümünün gelecek için en önemli hedefleri arasında, bilginin ve nitelikli insan gücünün artırılması ve refah seviyesinin yükseltilmesi bulunmaktadır.

Bu hedeflere ulaşmada;

I. bilgi ve teknolojinin geliştirilmesi,
II. kaynak verimliliğinin artırılması,
III. modern şehirlerin kurulması,
IV. nüfus artışının sağlanması

faaliyetlerinden hangileri daha fazla etkili olacaktır?

A) I ve II B) I ve III C) II ve III

D) II ve IV E) III ve IV

16. Aşağıdaki haritada bazı yerler numaralandırılarak koyu renkle gösterilmiştir.

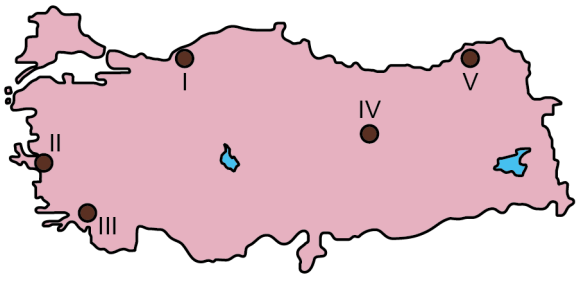

Bu yerlerdeki maden ve enerji kaynaklarıyla ilgili olarak aşağıdaki bilgilerden hangisi yanlıştır?

A) I numaralı yer, Türkiye'de taş kömürü üretiminde büyük bir paya sahiptir.

B) II numaralı yerde Türkiye'nin en büyük doğal gaz çıkarımı yapan tesisi bulunmaktadır.

C) III numaralı yer, Türkiye'nin önemli krom rezervine sahip sahalarından biridir.

D) IV numaralı yer, Türkiye'nin önemli demir cevheri sahalarından biridir.

E) V numaralı yerde Türkiye'nin önemli bakır işletmelerinden biri kurulmuştur.

17. Aşağıdaki haritada bazı turizm merkezleri koyu renkli noktalarla gösterilmiştir.

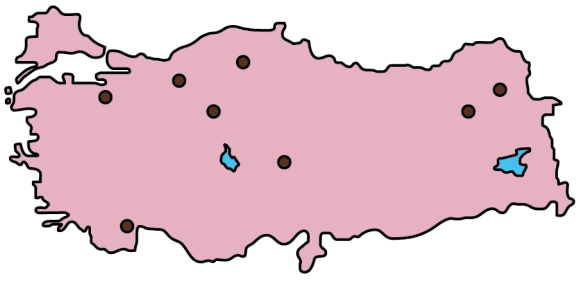

Bu merkezlerin tümü aşağıdaki turizm türlerinden hangisine uygun yerleri göstermektedir?

A) Termal B) Rafting C) Kış

D) Mağara E) Yayla

18. Güneydoğu Anadolu Projesi ile Fırat ve Dicle nehirleri üzerinde kurulacak barajlarla tarım alanlarının sulanması ve hidroelektrik üretimi hedeflenmiştir. Günümüzde projenin büyük bir bölümü tamamlanmış ve bölge ekonomisindeki etkileri görülmeye başlanmıştır.

Bu proje, bölge ekonomisinde aşağıdaki sektörlerden hangisini daha az etkilemiştir?

A) Sanayi B) Ulaşım C) Enerji

D) Tarım E) Turizm

19. XX. yüzyılda yaşanan iki dünya savaşı ve 1950-1990 yılları arasında yaşanan soğuk savaş ya da farklı zamanlarda ekonomik, siyasi veya askerî alanlarda görülen uygulamalar, ülkeleri bölgesel ya da küresel çapta bir araya getirerek iş birliği yapmaya zorlamıştır. Bu iş birliğine bağlı olarak dünya üzerinde farklı ülkelerin oluşturduğu küresel veya bölgesel ölçekte örgütler kurulmuştur.

Aşağıdaki örgütlerden hangisinin böyle bir süreçten geçerek oluştuğu söylenemez?

A) Birleşmiş Milletler B) NATO

C) Greenpeace D) Avrupa Birliği

E) OPEC

20. Tarımda çalışan nüfusun fazlalığı ve üretimin geleneksel yöntemlerle yapılması, az gelişmiş ülkelerin özelliklerinden biridir.

Aşağıdakilerden hangisi, bu ülkelerin tarımsal faaliyet özelliklerine örnek gösterilemez?

A) Modern tarım uygulamalarına dönük yatırımlarının düşük olması

B) Tarımdan elde ettikleri gelirin düşük olması

C) Anız yakma ve nadas uygulamalarına rastlanması

D) Tarımsal üretimlerinin öncelikle dış satıma dönük olması

E) Tarımsal faaliyetlerinin büyük ölçüde iklim koşullarına bağlı olması

21. Son yıllarda yeryüzünde;

- göl alanlarının küçülmesi,
- bitkilerin erken çiçek açması,
- göçmen kuşların göç dönemlerinin değişmesi,
- ilkbaharın erken gelmesi, sonbaharın gecikmesi

gibi çevre sorunları daha sık yaşanmaya başlanmıştır.

Bu sorunların temel nedeni aşağıdakilerden hangisidir?

A) Dünya nüfusunun artması

B) Tarım ilacı kullanımının artması

C) Atmosferdeki sera etkisinin artması

D) Çok sayıda hidroelektrik santral kurulması

E) Yeni maden yataklarının işletmeye açılması

22. Günümüzde çevre sorunlarının küresel boyutlara ulaşması, bütün ülkelerin ortak kararlar alıp bunları uygulamasını zorunlu hâle getirmiştir. Ancak birtakım kaygılar sebebiyle bu kararlar bazı ülkeler tarafından gözardı edilip hâlen çevreye zarar veren faaliyetlerini sürdürmelerine neden olmaktadır. Dünyadaki kimi çevre örgütleri de, bu ülkelerin tutumlarına karşı şiddet içermeyen eylemler yapmaktadır.

Çevre örgütlerinin bu faaliyetlerinin temel amacı aşağıdakilerden hangisidir?

A) Çevre sorunlarına yol açan faaliyetleri engellemek

B) Toplumu çevre sorunlarına karşı bilinçlendirmek

C) Ülkelerin çevre konusunda politika üretmelerini sağlamak

D) Uluslararası düzeyde çevresel iş birliğine öncülük etmek

E) Doğal kaynakların daha verimli kullanılmasını sağlamak

23. Newton olmasaydı veya bilimle ilgilenmeseydi Evrensel Çekim Kanunu hep sır olarak mı kalacaktı veya elbet birisi bu kanunu keşfedecek miydi? Örneğin gazların hacim ve sıcaklık ilişkisiyle ilgili yasalar J. Charles ve ondan daha sonra gelen J. Gay-Lussac tarafından birbirinden bağımsız olarak bulundu. Bu nedenle yasalar Charles veya Gay-Lussac kanunları olarak ifade edilir. Oysa Mimar Sinan Selimiye'yi tasarlayıp yapmasaydı, bu eser hiç olmayacaktı. İşte felsefi eserler de sanat eserleri gibidir. Eğer Hobbes, *Leviathan* adlı eserini yazmasaydı, bu eseri bir başkası yazamayacaktı.

Bu parçadan aşağıdaki yargıların hangisine ulaşılabilir?

A) Felsefeyi, bilim ve sanattan farklı kılan, hayatı sorgulamasıdır.

B) Bilim evreni keşfeder, sanat ise evrendeki güzelliklerin peşindedir.

C) Sanatçı da bilim insanı gibi doğanın evrensel bir tablosunu çizmeye çalışır.

D) Filozofu bilim insanından ayıran nitelik, onun eserlerindeki özgünlüktür.

E) Sanat ve felsefe, duygu temelinde gerçekleştirilen etkinliklerdir.

24. Kant'ın amacı, metafizikte de bilimlerdeki gibi bilgilerin elde edilip edilemeyeceğini göstermektir. Bunun için önce bilginin oluşumunu açıklamaya çalışır. O, aklın kullanımını teorik ve pratik olarak ikiye ayırır. Teorik aklın sınırları içindeki doğa bilgimizin temelinde şekilsiz bir sıvıya benzeyen duyu verileri bulunur. Bu duyu verileri, anlama yetimizde önceden hazır olarak bulunan (apriori) ve bir kap gibi iş gören kategorilere yerleştirilerek bilgi hâline getirilir. Teorik akıl; ruh, tanrı vb. ideler üzerinde düşünmeye başladığındaysa çelişkilere düşer. Çünkü bu ideler duyularla algılanamadığından kategorilerle de biçimlendirilemez. Artık duyular üstüyle ilgili olan pratik aklın alanına girilmiş demektir.

Bu parçadan aşağıdaki yargıların hangisi çıkarılamaz?

A) Metafizik bilgi ancak teorik akıl vasıtasıyla elde edilebilir.

B) Bilginin oluşum sürecinde zihin ve duyum birlikte çalışır.

C) Aklın çeşitli alanlarda geçerli farklı işlevleri vardır.

D) Görünenin dışında akılla kavranan dünyaya pratik akılla geçilir.

E) Doğa ile ilgili bilgilerimizin temelinde duyu verilerinin kategorilerle işlenmesi vardır.

25. Belirlenimcilik (determinizm), evrende meydana gelen bütün olayların daha önce gerçekleşmiş başka olayların sonuçları olduğunu, dolayısıyla olaylar arasında neden sonuç bağıntısı bulunduğunu savunur. Bu bakımdan gelecekte ortaya çıkacak olaylar, geçmişte ortaya çıkan olayların kesinliği ve değiştirilemezliği oranında kesin ve değiştirilemezdir. William James'in "demirden evren" dediği tam da böyle bir evrendir. Evrendeki her şey olması gerektiği gibi olur. Her sonuç, zorunlu ve değiştirilemez olan nedene bağlıdır.

Bu parçadan aşağıdaki yargıların hangisine ulaşılabilir?

A) İnsan demirden evrende özgür iradeye sahip olmadığından eylemlerinden sorumlu tutulamaz.

B) İnsanın hiçbir eylemi özgür seçimlerinin sonuçlarından bağımsız değildir.

C) İnsan, akıl sahibi olması bakımından özgür ve sorumlu bir varlıktır.

D) İnsan eylemleri demirden evrenin dışında gerçekleştiği için önceden öngörülemez.

E) İnsan eylemleri nedensellik dışında olduğu için kişiye seçim sorumluluğu yükler.

26. Birinci sınıf öğrencisi Ceyhun, yazı yazmaktan hoşlanmadığı için öğretmeninin verdiği yazma ödevlerini yaparken çok sıkılıyor ve çoğu zaman ödevlerini tamamlayamıyordu. Bunu fark eden öğretmen, Ceyhun'un eksiksiz tamamladığı her ödevi için defterine bir mutlu yüz çıkartması; tamamlayamadığı her ödev için ise bir üzgün yüz çıkartması yapıştırır. Ailesi;

I. Ceyhun beş mutlu yüz çıkartması topladığında, hafta sonu bilgisayarda oyun oynama süresini otuz dakika uzatır.

II. Ceyhun'un defterinde beş üzgün yüz çıkartması olduğunda, hafta sonu bilgisayarda oyun oynama süresini otuz dakika kısaltır.

Ceyhun'un ödev yapma davranışını artırmak için yapılan bu uygulamalar, aşağıdaki kavramlardan sırasıyla hangisine örnektir?

	I	II
A)	Olumsuz pekiştirme	Ceza
B)	Olumlu pekiştirme	Ceza
C)	Olumlu pekiştirme	Olumsuz pekiştirme
D)	Söndürme	Olumsuz pekiştirme
E)	Olumlu pekiştirme	Söndürme

27. Bir bilgiyi hatırlamak istediğimizde; bilgiyle ilgili ne kadar çok ipucu varsa, bilgiyi hatırlamamız o kadar kolay olur.

Buna göre bir sınavda yer alan;

I. Bilimsel psikolojinin kurucusu aşağıdakilerden hangisidir?

A) W. Wundt B) W. James C) J. B. Watson

II. Bilimsel psikolojinin kurucusu ..... olarak kabul edilir.

III. Bilimsel psikolojinin kurucusu kimdir? Yazınız.

soru tiplerinden hangilerinde, istenen bilgi bellekten daha kolay çağrılır?

A) Yalnız I B) Yalnız II C) Yalnız III

D) I ve II E) II ve III

28. Bir profesör üniversitede geçmişten günümüze popüler kişilik kuramları konusunda ders vermektedir. Öğrencilerinden; Freud'un psikanalitik kuramı bağlamında, kişilik konusunun temel kavramlarını anlatan karakterlere bürünerek kısa bir canlandırma yapmalarını ister. Bu canlandırma için gönüllü olup olmadığını sınıftakilere sorduğunda bir öğrenci "Beni seçin, beni seçin!" diye bağırarak sırasından kalkar. Bunun üzerine profesör "Hadi gel, karakterlerden biri belli oldu." der.

Buna göre profesörün, öğrencisinin canlandırması için uygun gördüğü karakter aşağıdakilerden hangisi olabilir?

A) Çatışma
B) Ego
C) Süperego
D) İd
E) Savunma mekanizmaları

29. Grupların veya toplumların yararlı, cazip, istenilen ve beğenilen olarak benimsedikleri ve kullandıkları kültürel olarak belirlenmiş standartları vardır. Bu standartlar adeta sosyal yaşamın anahtarlarıdır. Kültürel olarak belirlenen kolektif fikirler, toplum olmaktan kaynaklı paylaşılan ortak bazı amaçları kapsar. Buna göre toplumdan topluma farklılık gösteren ve bir kültürü diğerinden ayıran en önemli özellik kültürde nelerin istenilir ve uygun olduğu hakkındaki kolektif onaylamalardır. Örneğin ataerkil sistemde; gençlerin aile rızası olmadan evlenmeleri ya da gencin aile büyüklerinin yanında bacak bacak üstüne atarak oturması hoş karşılanmazken eve gelen konukların ağırlanması ve memnun edilmesi beklenen bir durumdur.

Bu parça aşağıdaki kavramlardan hangisine örnek oluşturur?

A) Toplumsal sapma
B) Toplumsal değer
C) Toplumsal statü
D) Toplumsal etkileşim
E) Toplumsal farklılaşma

30. Toplumun devamı ve istikrarı onu oluşturan birey ve grupların bir arada yaşamasına ve ortak hedeflere yönelmesine bağlıdır. Örneğin bir ülkeden başka bir ülkeye göç eden halkların burada karşılıklı evlilik, komşuluk ve ticaret yapmaları ile hızlı bir şekilde göç ettikleri ülkenin dilini öğrenmeleri o ülkenin millî kimliğini benimsemelerine etki etmiştir.

Bu parçada vurgulanan kavram aşağıdakilerden hangisidir?

A) Toplumsal gelişme
B) Toplumsal ilişki
C) Toplumsal hareketlilik
D) Toplumsal bütünleşme
E) Toplumsal değişme

31. İnsanlığın ilk dönemlerinden bu yana var olan aileyle ilgilenen birçok sosyolog, ailenin evrensel tek bir modeli olamayacağını belirtir. Aile kurumu zaman içinde ve kültürlere göre farklılık gösterir. Örneğin İngiltere'de Viktorya Dönemi'ndeki aile içi ilişkilerde günümüzde kabul edilemez katı kurallara dayalı fiziksel cezalandırmalar, kadının ev ortamına kapatılması ve çocukların çalıştırılması söz konusuyken bugün birçok toplumda aile içi ilişkiler daha demokratikleşmiştir. Günümüzde dünya genelinde farklı toplumlarda geniş aile, çekirdek aile, tek ebeveynli aile gibi çeşitli aile türleri tanımlanmaktadır.

Bu parçada "aile kurumu**"nun hangi özelliği vurgulanmaktadır?**

A) Yetişkin üyelerin çocuklarının bakımından sorumlu olduğu
B) Zaman içinde diğer toplumsal kurumlarla ilişkisinin zayıfladığı
C) Modernleşmeyle birlikte bireylerin ihtiyaçlarına cevap veremediği
D) Ortaya çıktığı zamana göre daha çok işlev yüklendiği
E) Tarihsel süreç içinde değişim geçirse de varlığını koruduğu

32. Özdeşlik ilkesi: “Bir şey ne ise odur.”, “Bir başka ifadeyle A, A’dır.” anlatımıyla ortaya konulabilir.

Buna göre aşağıdakilerden hangisi özdeşlik ilkesine uygun bir ifadedir?

A) Aynı malzemeden aynı şartlarda aynı fabrikada üretilen ürünler özdeştir.

B) Aynı kaynaktan farklı şişelere doldurulmuş sular özdeştir.

C) Aynanın karşısında duran bir kişi ile onun aynadaki görüntüsü özdeştir.

D) Gazi Mustafa Kemal ile Atatürk özdeştir.

E) İnsan ve ağaç birbirinden farklı iki yapı olsa da bunları oluşturan atomlar özdeştir.

33. Aşağıdakilerin hangisinde, kavram çeşitlerine uygun örnekler doğru verilmiştir?

	Kolektif	Olumsuz	Soyut
A)	Doğa	Yerli	Erdem
B)	Tenisçi	Güvensiz	Kitap
C)	Takım	Bulutlu	Toprak
D)	Üniversite	Kararsız	Bardak
E)	Sendika	Kaygısız	Kötülük

34. $(p \vee \sim q) \Rightarrow r$ **önermesinin eş değeri aşağıdakilerden hangisidir?**

A) $(\sim p \vee \sim q) \vee r$

B) $(\sim p \wedge q) \vee r$

C) $(p \Rightarrow q) \vee r$

D) $\sim (p \vee \sim q) \Rightarrow \sim r$

E) $(p \Rightarrow \sim q) \wedge r$

35.-40. soruları Din Kültürü ve Ahlak Bilgisi dersini yasal olarak almak zorunda olanlar ve İmam Hatip Okulları öğrencileri/mezunları cevaplayacaktır.

35. Hz. Muhammed “Sizin en hayırlınız Kur’an’ı öğrenen ve öğreteninizdir.” buyurmuş ve bu konuda Müslümanları teşvik etmiştir. Birçok ayette de Kur’an-ı Kerim’in okunması ve okunduğu zaman dinlenmesi tavsiye edilmiştir. Bu tür ayet ve hadislerin etkisiyle Müslümanlar, Kur’an’ı başından sonuna kadar okumaya ve hatta ezberlemeye özel bir önem vermişler; özellikle Ramazan ayında, bir kişinin okunuşla ilgili kurallara uyarak doğru ve güzel bir şekilde okuması ve diğerlerinin de takip etmesiyle toplu okuma faaliyetleri gerçekleştirmişlerdir.

Bu parçada Kur’an ile ilgili aşağıdaki kavramlardan hangisine <u>değinilmemiştir</u>?

A) Mukabele B) Hafızlık C) Hatim

D) Tefsir E) Tecvit

36. İyilik yapmanın yanı sıra kötülük yapma temayülüne de sahip olan insan, işlediği bir günah veya yaptığı bir hatadan duyduğu pişmanlığı Allah’a arz eder. Bu arz ediş bağışlanma talebidir ve buna tövbe denir. Mümin, Hz. Muhammed’in bir sözünde belirttiği gibi, işlediği küçük bir günahı bile tepesinde dikilip üzerine düşeceğinden korktuğu bir dağ gibi görür. Bu yüzden vakit kaybetmeden, duyduğu pişmanlığı Allah’a arz edip kulluğunun bilincinde olduğunu, sözüne sadık kalacağını ifade ederek bağışlanma talebinde bulunur.

Bu parçadan hareketle tövbe ile ilgili olarak aşağıdakilerin hangisi <u>söylenemez</u>?

A) Ümitsizliğin yansımasıdır.

B) Allah’la yapılan ahdin tazelenmesidir.

C) Nefsi arındırma çabasıdır.

D) Yanlışını düzeltme iradesidir.

E) Affedilme arzusudur.

37. Sünnet çeşitleriyle ilgili olarak Hz. Muhammed'in;

I. herhangi bir mesele hakkında yaptığı açıklamalara,

II. davranış ve uygulamalarıyla ilgili sahabenin nakletmiş olduğu haberlere,

III. sahabe tarafından söylenen bir sözü ya da işlenen bir fiili onaylamasına

verilen isimler aşağıdakilerin hangisinde doğru sıralanmıştır?

	I	II	III
A)	Sözlü	Fiilî	Takrirî
B)	Takrirî	Fiilî	Sözlü
C)	Fiilî	Sözlü	Takrirî
D)	Sözlü	Takrirî	Fiilî
E)	Takrirî	Sözlü	Fiilî

38. Hz. Muhammed; ibadetlere verdiği önemin yanında Allah'a bağlılığıyla örnek olan, sade ve mütevazı bir hayat yaşayan, zaman zaman toplumdan uzaklaşarak tefekküre dalan, ahlaki erdemleri yaşamaya ve yaşatmaya çalışan bir kişidir. İslam kültüründe onun bu yönünü öne çıkaran ve İslam'ın ahlak esasları üzerinde yoğunlaşan bir yorum biçimi, düşünce sistemi ortaya çıkmıştır. Zaman içerisinde sistematik bir yapıya kavuşan bu düşünce sistemi, İslam dininin temel ilkeleri doğrultusunda nefsi arındırmayı, üstün bir ahlaka sahip olmayı ve ibadetleri samimiyetle yapmayı gaye edinmiştir.

Bu parçada bahsedilen düşünce sistemi aşağıdaki kavramlardan hangisiyle ifade edilmektedir?

A) Fıkıh B) Tefsir C) Tasavvuf

D) Kelam E) Hadis

39. "... Şayet onlara karşı kırıcı ve sert olsaydın, doğrusu senden koparlardı. Artık onları bağışla ve affedilmeleri için dua et. Ve toplumu ilgilendiren her konuda onlarla müşavere et; sonra bir hareket tarzına karar verince de Allah'a güven. Zira Allah, kendisine dayanıp güvenenleri sever." (Al-i İmran, 3:159)

Bu ayette aşağıdakilerin hangisine <u>değinilmemiştir</u>?

A) Nezaketli davranmak

B) Tevekkül bilinciyle hareket etmek

C) Merhamet sahibi olmak

D) Danışmaya özen göstermek

E) Emanete riayet etmek

40. Sidharta Gotama, Hindistan'ın kuzeyinde bir sarayda kralın oğlu olarak dünyaya gelir. En iyi öğretmenlerden ders alır, en iyi askerlerden silah kullanmayı öğrenir. Acı, üzüntü ve sıkıntı nedir bilmeden yetişir. Ancak gençliğinde bazı üzücü olaylara tanık olur ve hayatın anlamı üzerine düşünmeye başlar. İçinde bulunduğu durumun kendisini hakikate iletmediğini görüp saraydan ayrılır ve mevcut dinî geleneği sorgulamaya başlar. Bu çerçevede din adamlarının şekilciliğine karşı çıkar. İnsanlara dinî ve ahlaki konularda vaazlar verir. Bu vaazları ölümünden sonra takipçileri tarafından kutsal kabul edilerek *Tipitaka* (*Üç Sepet*) adıyla bir araya getirilir ve kendisinin de heykelleri yapılarak zamanla kutsal bir varlık ve bir din kurucusu olarak kabul edilmeye başlanır.

Bu parçada ortaya çıkış süreci hakkında bilgi verilen din aşağıdakilerden hangisidir?

A) Hinduizm B) Taoizm C) Budizm

D) Sihizm E) Caynizm

41.-46. soruları Din Kültürü ve Ahlak Bilgisi dersini yasal olarak almak zorunda olmayan veya farklı müfredat ile alanlar cevaplayacaktır.

41. Umberto Eco sanat dilinin özelliği nedeniyle hiçbir sanat yapıtının gerçekte "kapalı" olamayacağını; her yapıtın belli bir görüşün ötesinde, sayısız olası "okuma" ya da "yorumlama"ya yatkınlık gösterdiğini söyler. Resimden şiire, müzikten yazına dek her sanat yapıtı, sayısız çoklukta tadıma açık bir nesnedir; kendi başına tükenmek bilmeyen bir deney kaynağıdır. Eğer bir sanat yapıtı, süjenin gözünde anlamlı olabiliyorsa, bu da aynı biçimde, onun daha önceki deneylerinden gelen ve sanat yapıtının sunmuş olduğu niteliklerle eriyip kaynaşabilen değerlerin ve anlamların varlığı sayesindedir.

Bu parçadan aşağıdaki yargıların hangisine ulaşılabilir?

A) Sanat yapıtının yetkinliği, temsil ettiği düşünceyi yansıttığı oranda artar.

B) Sanat yapıtının esas anlamı onu yaratan sanatçının zihnindedir.

C) Sanat yapıtı daima kendisinde nesnel ve evrensel bir anlam taşır.

D) Sanat yapıtının taşıdığı mesaj onu yaratan sanatçının imgeleminde gizlidir.

E) Sanat yapıtının anlamı alımlayıcısıyla kurduğu bitimsiz bir ilişkide açığa çıkar.

42. Diyelim ki okullarda öğretildiği şekliyle, suyun 100 ºC'de kaynadığının bilimsel bir yasa olduğuna inanıyoruz. Sayısı ne kadar çok olursa olsun doğrulayıcı durumlar bu yasayı tam olarak kanıtlamaya yetmez; çünkü yasanın geçerli olmadığı durumların bir araştırması henüz yapılmamıştır. Yasanın geçerli olmadığı durumların araştırılması, örneğin suyun kaynama derecesinin kapalı kaplarda ve deniz seviyesinden yüksek yerlerde daha farklı olduğunun gözlemlenmesi, yasanın "Su deniz seviyesinde ve açık havada 100 ºC'de kaynar." şeklinde yeniden düzenlenmesine yol açacaktır. Bu şekilde bir yasanın geçerli olmadığı durumların araştırılması aslında yasanın hakikate daha çok yaklaştırılması anlamına gelecektir.

Bu parçada bilimsel bir yasanın denetlenmesiyle ilgili aşağıdakilerden hangisi vurgulanmaktadır?

A) Dolaylı doğrulanabilir olması

B) Doğrudan doğrulanabilir olması

C) Yanlışlanabilir olması

D) Bilimsel bir devrime yol açması

E) Bilimsel paradigmayı değiştirmesi

43. I. Doğrudan gözlemlenebilen davranışlar
II. Doğrudan gözlemlenemeyen zihinsel süreçler
III. Fizyolojik tepkiler

Yukarıdakilerden hangileri, günümüz psikoloji araştırmalarının kapsamında yer almaktadır?

A) Yalnız I B) Yalnız II C) I ve II
D) II ve III E) I, II ve III

44. 1950'lerde Türkiye'de başta İstanbul olmak üzere sanayileşen kentlere göçler başlamıştır. Göç edenler, çoğunlukla kamu arazilerine izinsiz ve düşük standartlı evler yaparak barınma ihtiyaçlarını karşılamaya çalışmışlardır. Kentte tutunmaya çalıştıkları mekânlar genellikle akraba ve köylülerine yakın yerler olmuştur. Gecekondu olarak tanımlanan bu yerleşim yerlerine yol, su, elektrik gibi altyapı hizmetleriyle eğitim ve sağlık hizmetleri daha sonraları gelmiştir. Buralarda yaşayan insanlar düşük ücretli işlerde çalışmışlardır.

Bu parçadan aşağıdaki yargıların hangisine ulaşılabilir?

A) Gecekondulaşmayla birlikte kentlerde suç oranı artmıştır.

B) Hızlı kentleşme toplumsal çözülmeyi artırmıştır.

C) Göçlerle birlikte kentlerde eğitim önem kazanmıştır.

D) Kentleşme göç edenlerin uyum sorunlarını ortaya çıkarmıştır.

E) Hızlı ve plansız toplumsal değişme çarpık kentleşmeye neden olmuştur.

45. I. Kuzey Avrupa ülkelerinde görülen kalıtsal Akdeniz anemisi vakalarının Akdeniz ülkelerindekinden az olması
II. Modern yaşamdan uzak bir kabilenin dilinde aynı sözcüğün "böcek", "uçak" ve "pilot" anlamlarına gelmesi
III. ABD'nin bazı eyaletlerinde erkeklerin selamlaşmak için yanaktan yanağa öpüşmelerinin yadırganması

Yukarıdakilerden hangileri kültür kavramı ile ilişkilendirilebilir?

A) Yalnız I B) Yalnız II C) I ve III
D) II ve III E) I, II ve III

46. Aşağıdakilerden hangisi tümdengelime dayalı bir akıl yürütme biçimi <u>değildir</u>?

A) Tüm A'lar B'dir, X bir A'dır. O hâlde X bir B'dir.

B) Şimdiye kadar çalıştığım tüm okul müdürleri erkekti. O hâlde bütün okul müdürleri erkektir.

C) Bütün insanlar ölümlüdür. Ahmet de bir insandır. O hâlde Ahmet de ölümlüdür.

D) Bir şey insan ise o şey kuştur. Ahmet bir insandır. O hâlde Ahmet de kuştur.

E) Başlangıcı olan her şeyin bir sonu vardır. Dünyanın da bir başlangıcı vardır. O hâlde dünyanın da bir sonu vardır.

SOSYAL BİLİMLER-2 TESTİ BİTTİ.
MATEMATİK TESTİNE GEÇİNİZ.

2018 ALAN YETERLİLİK TESTLERİ (AYT)

YKS 2. OTURUM ALAN YETERLİLİK TESTLERİ (AYT)

01-07-2018

SOSYAL BİLİMLER-2 TESTİ

1. D
2. C
3. C
4. D
5. E
6. A
7. B
8. D
9. A
10. B
11. C
12. D
13. B
14. B
15. A
16. B
17. C
18. E
19. C
20. D
21. C
22. A
23. D
24. A
25. A
26. B
27. A
28. D
29. B
30. D
31. E
32. D
33. E
34. B
35. D
36. A
37. A
38. C
39. E
40. C
41. E
42. C
43. E
44. E
45. D
46. B

SOSYAL BİLİMLER-2 TESTİ

1. Bu testte sırasıyla, Tarih-2 (1-11), Coğrafya-2 (12-22), Felsefe Grubu (23-34), Din Kültürü ve Ahlak Bilgisi (35-40), Din Kültürü ve Ahlak Bilgisi dersini yasal olarak almak zorunda olmayan veya farklı müfredat ile alanlar için Felsefe Grubu (41-46) alanlarına ait toplam 46 soru vardır.

2. Cevaplarınızı, cevap kâğıdının Sosyal Bilimler-2 Testi için ayrılan kısmına işaretleyiniz.

1. Tarih bilimi; ferman, berat, vakfiye ve benzeri belgelerin yazılarının okunabilmesi için aşağıdaki bilgi alanlarının hangisinden yararlanır?

A) Paleografi B) Nümizmatik C) Epigrafi

D) Antropoloji E) Etnografya

2. İslamiyet öncesi dönemde Orta Asya'da kurulan Türk devletleri hakkında bilgi almak isteyen bir araştırmacının, aşağıdakilerden hangisinin kaynaklarından faydalanması beklenir?

A) Babil B) Mısır C) Roma

D) Çin E) Hitit

3. Karahanlılar düzenli bir posta teşkilatı kurmuş, kervansaraylar ve hastaneler inşa etmişlerdir. Bunların yanında Türk-İslam kültürüne ait yazılı eserler de ortaya koymuşlardır.

Bu bilgiye dayanarak Karahanlılar ile ilgili aşağıdakilerden hangisine <u>ulaşılamaz</u>?

A) Ticareti geliştirmek istediklerine

B) Haberleşmeye önem verdiklerine

C) Sosyal kurumlar oluşturduklarına

D) Türkçenin gelişimine katkı sağladıklarına

E) İnanç özgürlüğü sağladıklarına

4. Osmanlı Devleti'nin XIV. yüzyılda kısa sürede gelişmesinde;

I. Ahilerin desteğinin sağlanması,

II. hoşgörü politikası izlemeleri,

III. diğer beyliklerin Osmanlı sultanını halife olarak tanımaları

durumlarından hangileri etkili olmuştur?

A) Yalnız I B) Yalnız III C) I ve II

D) I ve III E) II ve III

5. Aşağıdakilerden hangisi, XVI. yüzyılda Martin Luther'in görüşlerinin Avrupa'da hızla yayılmasının nedenlerinden biri <u>değildir</u>?

A) Sanayi Devrimi'nin yaşanması

B) Matbaanın rolü

C) Alman prenslerin desteği

D) İncil'in Almancaya çevrilmesi

E) Hümanizm'in etkisi

6. Fatih Sultan Mehmet, ikinci kez tahta çıktıktan sonra kuruluş yıllarından beri güçlü olan ailelerin etkisini kırmak üzere kul sistemine dayalı bir düzen oluşturmuş, yeniçerileri kontrol altına almış ve yeniçeri ağasını doğrudan kendisine bağlamıştır.

Fatih Sultan Mehmet bu uygulamalarıyla aşağıdakilerden hangisini hedeflemiştir?

A) Aristokrat bir zümre oluşturmak

B) Mutlak ve merkezî bir yönetim kurmak

C) Veraset usulünü sistemleştirmek

D) Devşirme sistemini etkisiz kılmak

E) Eyalet askerlerinin sayısını artırmak

7. Osmanlı Devleti'nde, II. Meşrutiyet'in ilanından saltanatın kaldırılmasına kadar (1908-1922) geçen on dört yıl içinde İstanbul'da yirmi dört hükümet kurulmuştur.

Bu bilgiden hareketle, Osmanlı Devleti'nin sözü edilen dönemiyle ilgili olarak aşağıdakilerden hangisi söylenebilir?

A) Kanunuesasi'nin yürürlükten kaldırıldığı

B) Padişahların sıklıkla değiştiği

C) Çok partili bir siyasal yapının oluşturulduğu

D) Parlamento seçimlerinin sık sık tekrarlandığı

E) Ülke yönetiminde istikrarsızlığın yaşandığı

8. 1914-1918 yılları arasında İttifak Devletleri tarafında Birinci Dünya Savaşı'na katılan Osmanlı Devleti ile ilgili aşağıdakilerden hangisi <u>yanlıştır</u>?

A) Alman subaylar, Osmanlı ordusunda görev almışlardır.

B) Osmanlı ordusu Irak'ta bir İngiliz birliğini esir almıştır.

C) Kafkas Cephesi'nde Ruslarla mücadele edilmiştir.

D) Savaş başladığında padişah VI. Mehmet Vahdettin'dir.

E) Osmanlı Devleti kapitülasyonları tek taraflı olarak kaldırmıştır.

9. Millî Mücadele Dönemi'nde, Bizans İmparatorluğu'nu yeniden kurmak amacıyla faaliyet gösteren cemiyet aşağıdakilerden hangisidir?

A) Makabi B) Mavri Mira C) Taşnak

D) Pontus Rum E) Hınçak

10. Aşağıdakilerden hangisi, İngiltere'nin Doğu Akdeniz politikasının Fransa tarafından eskisi kadar <u>desteklenmediğini</u> gösteren bir gelişmedir?

A) Amiral Bristol Raporu'nun hazırlanması

B) Ankara İtilafnamesi'nin imzalanması

C) Fransa'nın Çukurova'da Ermenilerle iş birliği yapması

D) İstanbul'un resmen işgal edilmesi

E) Milne Hattı'nın sınır olarak düzenlenmesi

11. 1930 yılında çıkarılan Umumi Hıfzıssıhha Kanunu'yla vatandaşlara; kolera, veba, çiçek, kızamık, kuduz, sıtma gibi hastalıkları yerel yönetimlere bildirme mecburiyeti getirilmiş ve devlet tarafından karşılanmak suretiyle bu gibi hastalıkların tedavisinin parasız yapılması için kararlar alınmıştır.

Bu bilgiden hareketle aşağıdakilerden hangisi söylenemez?

A) Koruyucu sağlık hizmetleri konusuna önem verildiği

B) Salgın hastalıklarla mücadelede halktan katkı beklendiği

C) Bütçeden halk sağlığı adına pay ayrıldığı

D) Nüfus artışının kontrol altına alınmasının hedeflendiği

E) Sosyal devlet anlayışına uygun hareket edildiği

12. Tropikal Yağmur Ormanları, bitki ve hayvan türleri bakımından Dünya'nın en zengin alanlarıdır.

Bu alanların tür bakımından zengin olmasının nedenleri arasında aşağıdakilerden hangisi bulunmaz?

A) Mutlak konumları

B) Sürekli yağış almaları

C) Su kaynaklarının bolluğu

D) Tarımın yaygın olması

E) Yıllık sıcaklık farklarının düşük olması

13. İnsan etkisine bağlı olarak doğal sistemlerde meydana gelen değişimler bütün canlı yaşamını ciddi oranda etkiler. Bu etkinin artarak devam etmesi hâlinde doğal sistemlerde geri dönülmez sorunların yaşanacağı öngörülmektedir.

Aşağıdakilerden hangisinin devam etmesi durumunda gelecekte bu sorunlar daha fazla ortaya çıkacaktır?

A) Enerji üretiminde fosil kaynakların kullanımının teşvik edilmesi

B) İhtiyaç duyulduğu kadar tüketim yapılarak israfın önlenmesi

C) Enerji verimliliği yüksek teknolojilere geçilerek enerji tasarrufunun sağlanması

D) Mevcut ormanların korunması ve ağaçlandırma faaliyetlerinin artırılması

E) Atıkların geri dönüştürülerek tekrar kullanımının sağlanması

14. Şehirlerin etki alanları birbirinden farklıdır. Örneğin New York'un günümüzdeki küresel etki alanı Kiev'den daha geniştir.

Aşağıdakilerden hangisi bu durumun temel nedenidir?

A) Mutlak konumları

B) Yüz ölçümleri

C) Fonksiyonları

D) Yeryüzü şekilleri

E) Bulundukları kıta

15. Aşağıda, Türkiye'nin 2017 yılı nüfusu baz alınarak TÜİK tarafından hazırlanan ve Türkiye'nin 2018-2080 yılları arasındaki nüfusunun olası durumunu gösteren bir grafik verilmiştir.

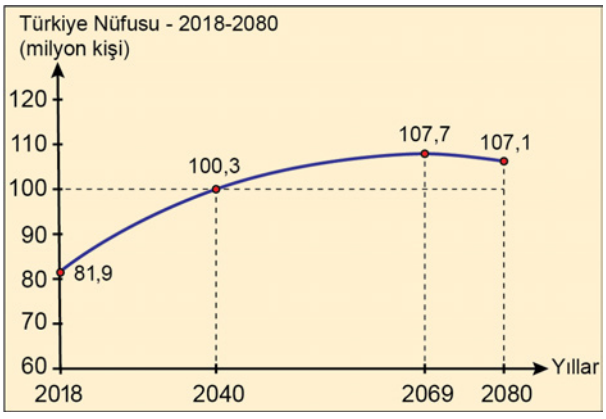

Yalnızca grafikteki bilgiler dikkate alındığında nüfusun geleceğiyle ilgili olarak,

I. 2069 yılından sonra toplam nüfus miktarı azalacaktır.
II. 2040 yılına kadar olan nüfus artışında göçler etkili olacaktır.
III. 2040-2069 yılları arasında nüfus miktarı sürekli artacaktır.

yargılarından hangilerinin gerçekleşmesi beklenir?

A) Yalnız I B) Yalnız II C) Yalnız III

D) I ve II E) I ve III

16. Türkiye'de bölgesel gelişmişlik bakımından bazı farklılıklar bulunmaktadır. Bu gelişmişlik farklılıklarını azaltmak ve kaynakları daha etkin kullanmak için bazı bölgesel kalkınma projeleri geliştirilmiştir.

Aşağıdakilerden hangisi bu projelerden biri <u>değildir</u>?

A) Doğu Karadeniz Projesi

B) Yeşilırmak Havzası Gelişim Projesi

C) Konya Ovası Projesi

D) Doğu Anadolu Projesi

E) Kalkınmada Öncelikli İller Projesi

17. Ülkelerin sahip olduğu nadir doğal ve kültürel varlıklar, UNESCO tarafından Dünya Kültür Mirası Listesi'ne alınmaktadır. Bu listeye girecek değerler belirlenirken, doğal özelliklerin yanında, kültürel varlıklar da dikkate alınmaktadır. Türkiye'de, bu listede bulunan çok sayıda eser ve alan bulunmaktadır.

Bu listede bulunan aşağıdaki alanlardan hangisinde Türk kültürüne ilişkin unsurlar daha baskındır?

A) Pamukkale-Hierapolis (Denizli)

B) Safranbolu Şehri (Karabük)

C) Troya Antik Kenti (Çanakkale)

D) Nemrut Dağı (Adıyaman)

E) Efes (İzmir)

18. Avrupa Birliği'nin ve G-8'in önemli ülkelerinden biri olan Almanya'da sanayileşme XIX. yüzyılın ilk çeyreğiyle birlikte başlamıştır. Almanya bu süreçte günümüzün önemli sanayi ülkelerinden biri hâline gelmiştir.

Aşağıdakilerden hangisi bu ülkenin sanayileşme sürecinde yaşanan özelliklerden biri <u>değildir</u>?

A) Sürecin başında özellikle İngiltere'den ve diğer ülkelerden ithal edilen makineler taklit edilmiştir.

B) Gümrük vergileri yüksek tutularak ülkenin yerli üretimi korunmuş ve sanayileşme geliştirilmiştir.

C) Kömür madenleri kullanılarak demir-çelik üretimine önem verilmiş ve demir yolları geliştirilmiştir.

D) Sanayi teşvik edilerek teknik eğitime önem verilmiş ve teknolojide ilerleme sağlanmıştır.

E) Sürecin başından itibaren sanayi yatırımlarını devlet üstlenmiş, özel sektörün yatırım yapmasına izin verilmemiştir.

19. Uluslararası turizm, ülkeler arası etkileşimde önemli bir rol oynar. Bu etkileşim sonucunda birtakım olumlu sonuçlar ortaya çıkar.

Aşağıdakilerden hangisi bu sonuçlardan biri <u>değildir</u>?

A) Döviz girdisinin artması

B) Kültürel etkileşimin artması

C) İstihdam olanaklarının artması

D) Yoğun yapılaşmanın artması

E) Ülkeler arası ticaretin canlanması

20. Ülkelerin gelişmişlik seviyelerinin belirlenmesinde uluslararası kuruluşlar tarafından çeşitli ölçütler belirlenmiştir. Bu ölçütlerin bir kısmı ekonomik, bir kısmı da sosyal ve kültürel niteliklerle ilgilidir.

Aşağıdakilerden hangisi bu ölçütlerden biri <u>değildir</u>?

A) Ülkelerin yer altı ve yer üstü kaynaklarının rezervi

B) Temel hak ve özgürlüklere sahip olma düzeyi

C) Ülkelerde üretilen mal ve hizmetlerin değeri

D) İhracata konu olan ürünlerin ekonomik değeri

E) Sağlık ve eğitim hizmetlerinin yeterliliği

21. Aşağıdaki haritada bazı yerler numaralandırılarak gösterilmiştir.

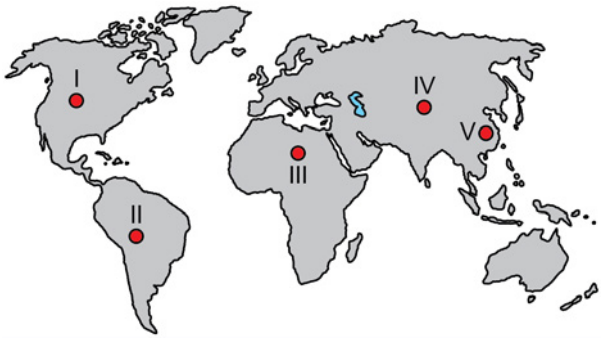

Bu yerlerin hangisinde, sanayide fosil yakıt tüketimine bağlı hava kirliliği yaygın olarak görülür?

A) I B) II C) III D) IV E) V

22. Günümüzde doğal ve kültürel miraslara yönelik tehlikeler devam etmektedir. Her ne kadar doğal ve kültürel mirasların korunmasında devlet yönetimleri sorumluluklarını yerine getirmeye çalışsa da zaman zaman bazı tehditler ortaya çıkmaktadır.

Aşağıdakilerden hangisi bu tehditlerden biri <u>değildir</u>?

A) Tarihî miras alanlarının millî park hâline getirilmesi

B) Doğal ve kültürel miras alanlarındaki madencilik faaliyetleri

C) Sel, kaya düşmesi ve yangın gibi afetlerin tarihî eserlere zarar vermesi

D) Bazı endemik bitki türlerinin yerel pazarlarda gıda maddesi olarak satılması

E) Savaşlarda kültürel miraslara yönelik saldırıların olması

23. Bazı insanlar, kişisel bilgi dağarcığını yalnızca kendi deneyimleriyle oluştururlar ve bunların gerçeklikle uyuşup uyuşmadığını sınamakla pek ilgilenmezler. Bu insanlar herhangi bir yargıyı doğru saymak için başka ölçütleri dikkate alırlar: İlk olarak, karşılarına çıkan yeni yargının önceden sahip olduklarıyla çelişip çelişmediğine bakarlar. Çelişmiyorsa, bu yargıyı benimsemenin işlerini kolaylaştırıp kolaylaştırmayacağını anlamaya çalışırlar. Bunu da başarıyorsa, içinde yaşadıkları toplumun buna karşı çıkıp çıkmayacağını kontrol ederler. Bu ölçütlerin sıralaması zaman zaman değişse de, doğru sayılan yargı kümesinin büyük kısmı işte böyle oluşur.

Bu parçada sözü edilen insanlar bilgilerini oluştururken sırasıyla aşağıdaki ölçütlerden hangilerine başvurmaktadır?

A) Uygunluk - Tutarlılık - Yarar

B) Apaçıklık - Tümel uzlaşım - Yarar

C) Tutarlılık - Yarar - Tümel uzlaşım

D) Uygunluk - Apaçıklık - Tümel uzlaşım

E) Tutarlılık - Uygunluk - Apaçıklık

24. Yapılabilecek bütün üçgen tanımları, üçgenin özünü verir. Bu tanımlar üçgenin varlığı konusunda bize bir bilgi vermez; hatta üçgenin var olmasını zorunlu kılmaz. O hâlde bir şeyin özü sadece “Bu nedir?” sorusunun cevabıdır. Farabi’ye göre de şeyler özünde varlıklarını barındırmaz. Kendisine varlık veren bir varlık olmadıkça her öz, sadece bir kavram olarak kalır ve gerçekleşmez. Dolayısıyla evren, insan, ağaç ve benzeri bütün özler varlığını sonradan elde etmiş varlıklardır. Bu durumda onları varlığa getiren; özünde var olmayı içeren, yani var olmaması düşünülemeyen başka bir varlık olmalıdır. Biricik olan bu varlık da var olmak için başka bir varlığa ihtiyaç duymayan Tanrı’dır.

Farabi’nin varlık anlayışını yansıtan bu parçadan aşağıdaki yargıların hangisine ulaşılabilir?

A) Form kazanmadıkça madde var olamaz.

B) Şeyler, özlerini gerçekleştirdiğinde varlığa gelir.

C) Zorunlu varlığın dışındaki her şey mümkün varlıktır.

D) Töz, özünde değişmeden kalandır.

E) Varlıklar, tek bir gerçekliğin görünüşleridir.

25. Biri size Eyfel Kulesi’nin güzel olup olmadığını sorduğunda, yalnızca durup bakılsın diye yapılmış bir şey veya işe yaramaz bir metal yığını olduğunu söyleyebilirsiniz. Fakat bunlar, sorulan sorunun cevabı değildir. Çünkü bir şeyin güzel olup olmadığı sorulduğunda, nesnenin bizde bir hoşlanma duygusu yaratıp yaratmadığı öğrenilmek istenir, yoksa nesnenin var olmasının gerekliliği değil.

Bu parçadan aşağıdaki yargıların hangisine ulaşılabilir?

A) Objenin estetik değerini onun yapılış amacı belirler.

B) Estetik haz duygusunun kaynağı objenin nesnel varoluşudur.

C) Bir nesneyi güzel yapan şey, o nesnenin biçimsel özellikleridir.

D) Doğadan esinlenerek yapılan nesneler beğeni yaratır.

E) Beğeni, objeyi estetik nesne hâline getirir.

26. Büşra, Kadir ve Can stresin etkilerini araştıran psikologlardır. Büşra, erken yetişkinlikten yaşlılığa kadar stresin yaşa bağlı psikolojik etkilerini incelerken Kadir, yetişkinlerin çevrelerindeki insanlarla ilişkilerinin stresli durumlarda gösterdikleri davranışları nasıl etkilediğini araştırmaktadır. Can ise stresin, yetişkinlikte depresyon gibi duygudurum bozukluklarının ortaya çıkmasındaki etkisine odaklanmaktadır.

Buna göre Büşra, Kadir ve Can’ın araştırmaları psikolojinin aşağıdaki alt dallarından sırasıyla hangilerinin çalışma konusuyla ilgilidir?

A) Klinik - sosyal - gelişim

B) Gelişim - sosyal - klinik

C) Sosyal - gelişim - klinik

D) Gelişim - klinik - sosyal

E) Klinik - gelişim - sosyal

27. Sosyal psikolojide, insan davranışlarının nedenlerini anlamaya çalışma sürecine yükleme adı verilir. Sosyal psikologlar bu süreci "içsel" ve "dışsal" olmak üzere ikiye ayırır. Bir kişinin herhangi bir davranışının, o kişiye ait özelliklerden kaynaklandığını düşünme "içsel yükleme" olarak adlandırılır.

Buna göre, aşağıdaki cümlelerin hangisi "içsel yükleme**"ye örnektir?**

A) O kadar cimri ki garsona bahşiş bırakmadan masadan ayrıldı.

B) Karnı ağrıdığı için bugün yemek yemedi.

C) Sınavda şansı yaver gittiği için tıp fakültesini kazandı.

D) Bugünkü buluşmamızı hava koşullarından dolayı iptal etti.

E) Sorular çok zor olduğu için sınavdan yüksek puan alamadı.

28. Lise öğrencisi Özgür;

I. Beş aylık küçük kardeşi uykusundan uyanıp ağlamaya başladığında annesinin yaptığı gibi kardeşinin başını okşayarak yeniden uyumasını sağlar.

II. Çözmekte zorlandığı bir fizik problemiyle bir süre uğraştıktan sonra çözüm yolunu aniden bulur.

Özgür'ün birinci ve ikinci durumdaki öğrenme biçimi, aşağıdaki öğrenme türlerinden sırasıyla hangisine örnektir?

	I	II
A)	Kavrayarak (Sezgisel)	Örtük (Gizil)
B)	Model alarak	Kavrayarak (Sezgisel)
C)	Model alarak	Örtük (Gizil)
D)	Kavrayarak (Sezgisel)	Model alarak
E)	Örtük (Gizil)	Kavrayarak (Sezgisel)

29. Sosyolog, üyeleri tarafından hâlihazırda anlaşıldığı varsayılan bir dünyayı yeniden anlamaya çalışan kişidir. Fakat o sadece bir gözlemci ya da öznel bakışına göre yorum yapan herhangi bir kişi de değildir. Sosyolog, görünenin, aşikâr olanın altında yatan nedenleri bilimsel dayanaklarıyla araştırır. Sosyoloğun rolü, sosyal yaşama ilişkin gerçeklikleri, hiçbir olguyu mutlaklaştırmadan, bilimsel kuşkuculuk ve değerlendirme ölçütleri çerçevesinde ortaya koymaya çalışmaktır. Sosyolog, düşünsel temeller ve bilimsel pratikler kapsamında tanımlamaya çalıştığı sosyal gerçekliği, onun çok boyutlu yapısını ve değişkenliğini dikkate alarak analiz etme çabasındadır.

Bu parçadan sosyologla ilgili aşağıdaki yargıların hangisine <u>ulaşılamaz</u>?

A) Bilimsel ölçütleri esas alarak hareket etmelidir.

B) Görünene değil, görünenin arkasındaki gerçekliğe odaklanmalıdır.

C) Sosyal yaşamı bireylerin anladığı şekilde anlamaya çalışmalıdır.

D) Sosyal gerçekliği tüm boyutlarıyla ortaya koymalıdır.

E) Olguları mutlaklaştırmadan sorgulayıcı bir biçimde incelemelidir.

30. Bir yetişkin mi, yoksa bir ergen misiniz? Reşit olmak sizi yetişkin yapar mı? ABD'de yapılan bir araştırma, bir genci yetişkin statüsünde tanımlamanın birçok etkene bağlı olduğunu göstermektedir. Bu araştırmaya göre Amerikan toplumunda yetişkin kabul edilmek için en önemli etkenler, lise dengi bir okuldan mezun olmak, tam zamanlı işte çalışmak, aileyi ekonomik yönden desteklemek ve evlenip yuva kurmaktır. Aynı araştırma, görece düşük gelirli ailelere mensup ve üniversiteye gitmeyen gençlerin, 20'li yaşların başında yetişkinlik ölçütlerini karşıladığını, daha yüksek gelir gruplarındaki gençlerden eğitimlerine üniversiteden sonra devam edenlerin ise, ancak 30'lu yaşlarda "yetişkin" olduğunu ortaya koymaktadır.

Bu parçadan aşağıdaki yargıların hangisine ulaşılabilir?

A) Gelişim evrelerinin değişimini belirleyen ölçütler toplumdan topluma farklılık gösterir.

B) Yetişkin olarak kabul edilmek için yasal açıdan reşit olmak yeterlidir.

C) Yetişkinlik için bir işe sahip olunması, eğitime devam etmekten daha önemlidir.

D) Toplumsal sınıf ergenlikten yetişkinliğe geçiş yaşını belirlemede etkilidir.

E) Bireylerin eğitim sürelerinin uzaması yetişkinlik yaşlarını etkilememektedir.

31. Jean Baudrillard, medya egemenliğindeki bir çağda anlamın, TV programlarında olduğu gibi, imajların akışıyla yaratıldığını söyler. Bizim dünyamızın çoğu bir tür yap-inan evreni hâline gelmiştir; bu evren içinde bizler gerçek kişilere ve yerlere değil, medya imajlarına tepki vermekteyiz. Nitekim 1997'de Galler Prensesi Diana öldüğünde sadece Britanya'da değil, dünyanın her tarafında büyük bir üzüntü vardı. Ancak insanlar gerçek bir kişinin yasını mı tutuyorlardı? Baudrillard buna hayır, diyecekti. Çoğu insan için Diana medya yoluyla mevcuttu. Diana'nın ölümü insanların gerçek yaşamda gerçek birinin ölümünü tecrübe etmesi olayından çok, dizi veya filmde meydana gelen bir olay gibiydi. Baudrillard buna "yaşamın TV içine çözülmesi" demektedir.

Bu parçada aşağıdaki yargılardan hangisi vurgulanmaktadır?

A) Medya gerçekleri olduğu gibi yansıtan önemli bir kitle iletişim aracıdır.

B) Televizyon insan davranışı üzerinde en çok etkiye sahip olan kitle iletişim aracıdır.

C) Medya bireyler için farklı bir anlam ve gerçeklik dünyası yaratır.

D) Bireylerin davranışlarındaki tutarsızlık medyanın gücünün yansımasıdır.

E) Medyanın birey davranışlarındaki etkisi kalıcı olmamaktadır.

32. Hafta sonu Kuğulu Park'a gittim. Orada yedi kuğu dolaşıyordu ve yedisi de beyazdı. Parkta otururken çocukluğumda hayvanat bahçesinde gördüğüm kuğuları anımsadım. Onlar da beyazdı. Parktan kalkıp bir kitapçıya gittim. Orada hayvanlar üzerine bir kitap gördüm ve kitapta iki kuğunun resmi vardı. Bu resimdeki her iki kuğu da beyaz renkteydi.

Bu parçadan tümevarım yöntemi kullanılarak akıl yürütülürse aşağıdaki sonuçlardan hangisine ulaşılır?

A) Dünyada en az bir siyah kuğu vardır.

B) Bir şey beyaz ise o kuğudur.

C) Hiçbir kuğu beyaz değildir.

D) Bir şey kuğu ise o beyazdır.

E) Bazı kuğular beyaz değildir.

33. Aşağıdaki ifadelerden hangisi bir önermedir?

A) Bugün hava sıcak olsa da balığa gitsek.

B) Bu çocuğu sevmemek mümkün mü?

C) Zor durumda olanlara yardım etmelisin!

D) Bugün umarım karnım ağrımaz.

E) Dünya dönmemektedir.

34. Bütün yorumlamaları doğru değeri alan önermeye totoloji denir.

Buna göre aşağıdaki önermelerden hangisi bir totolojidir?

A) $\sim p \wedge p$ B) $\sim p \vee p$ C) $\sim p \Rightarrow p$

D) $p \Rightarrow \sim p$ E) $\sim\sim p \wedge p$

35-40. soruları Din Kültürü ve Ahlak Bilgisi dersini yasal olarak almak zorunda olanlar ve İmam Hatip Okulları öğrencileri/mezunları cevaplayacaktır.

35. "...İnsanlardan, 'Ey Rabbimiz! Bize (vereceğini) bu dünyada ver.' diyenler vardır. Bunların ahirette bir nasibi yoktur. Onlardan, 'Rabbimiz! Bize dünyada da, ahirette de iyilik ver ve bizi ateş azabından koru.' diyenler de vardır. İşte onlara kazandıklarından bir nasip vardır. Allah, hesabı pek çabuk görendir." (Bakara, 2:200-202)

Bu ayetlerde aşağıdakilerden hangisi vurgulanmaktadır?

A) Ahiret inancı, insanı ölçülü olmaya yönlendirir.

B) Allah, dünyayı isteyene dünyayı; ahireti isteyene ahireti verir.

C) Ahiret nimetlerini dünyadakilere tercih edenler zararlı çıkar.

D) Hakkından fazlasını istemek elindekini kaybetmeye sebep olur.

E) İslam dini, dünya ve ahiret saadetini bir arada sunar.

36. Lise öğrencisi Safa, tesadüfen açtığı bir televizyon kanalında "İslam'da İmamet" konusunun tartışıldığını görür ve merakla programı izlemeye başlar. Programdaki konuşmacılardan biri, imameti bir inanç esası kabul ettiğini söyler. Ayrıca, Hz. Ali'nin, Hz. Muhammed'den sonra ilk imam (yönetici) olması gerektiğini, bunun ayet ve hadislerden de çıkarılabileceğini ve imametin Hz. Ali'nin soyundan gelenlerin hakkı olduğunu dile getirir.

Bu parçadaki konuşmacının bahsettiği mezhep aşağıdakilerden hangisidir?

A) Hanbelilik B) Maturidilik C) Eşarilik

D) Şia E) Malikilik

37. İslam düşüncesindeki yorum biçimlerinden biri de ahlakla ilgili konular üzerinde yoğunlaşan tasavvufi yorumlardır. Bu yorum biçimlerinin birincil hedefi, İslam dininin kurucu ilkelerine dayanarak ahlakı güzelleştirmek ve bireyi manevi eğitimden geçirmektir. Bu yorumlar dinin ahlakla ilgili esasları üzerinde durur ve insanları Allah'a gönülden bağlanmaya özendirerek onları manevi yönden eğitmeyi ve olgunlaştırmayı amaçlar.

Aşağıdakilerden hangisi bu parçada bahsedilen tasavvufi yorumlara örnek gösterilemez?

A) Ahilik B) Bektaşilik C) Kadirilik D) Nakşibendilik E) Yesevilik

38. Daha doğmadan önce babasını, altı yaşında annesini kaybederek yetim ve öksüz olmanın getirdiği sıkıntılarla karşılaşan ve zor şartlarda yetişen Hz. Muhammed, karşılaştığı zor durumlarda bile haktan uzaklaşmamıştır. İnsanları İslam'a davet ederken haksızlıklara ve zulümlere maruz kalmış, hatta Taif şehrinde taşlanmıştır. Uhud Savaşı'nda mücadele ederken yaralanmış ve dişi kırılmış ancak davasından geri adım atmamıştır. Bütün bu yaşadıklarına rağmen güçlü bir konuma geldikten sonra da intikam alma yoluna gitmemiş ve her daim adaletli davranmıştır.

Bu parçada Hz. Muhammed'in aşağıdaki özelliklerinden hangisine değinilmemiştir?

A) İleri görüşlülük B) Doğruluk C) Sabır D) Merhamet E) Kararlılık

39. Kur'an-ı Kerim'in başlangıç ve bitiş sayfalarında, satır ve sütun kenarlarında, metnin içinde ve dışında kalan zemin boşluklarında çeşitli teknik ve üsluplarla süslemeler yapılmıştır. Bu kapsamda en yaygın örnek altın tozu ve doğal boyalarla yapılan çiçek ve yaprak desenleri şeklindeki süslemelerdir. Bu süslemelerdeki motiflerde, simetri ve renklerin ahengi yansıtılmaya çalışılmakta ve bu şekilde başta Kur'an olmak üzere çeşitli yazma eserler süslenmektedir.

Bu parçada bahsedilen sanat aşağıdakilerden hangisidir?

A) Hat B) Minyatür C) Tezhip D) Ebru E) Çini

40. Hinduizm dinine göre inananlar; dinî ve sosyal olarak din adamları, yöneticiler/askerler, esnaflar, köleler ve toplum dışı sayılanlar olmak üzere beş gruba ayrılır. Kaynağını Hint kutsal metinlerinden alan bu inanca göre sınıflar doğuştandır ve sınıflar arası geçiş mümkün değildir. Ayrıca bu inanç, kişinin mesleğine, yaşayacağı yere ve hatta evleneceği kişiye kadar hayatının her alanındaki seçimlerinde belirleyici bir etkiye sahiptir.

Hinduizmdeki bu inanç aşağıdakilerden hangisiyle isimlendirilir?

A) Nirvana B) Kast C) Karma D) Reenkarnasyon E) Brahma

41-46. soruları Din Kültürü ve Ahlak Bilgisi dersini yasal olarak almak zorunda olmayan veya farklı müfredat ile alanlar cevaplayacaktır.

41. Felsefe tarihine bakıldığında büyük ölçüde İngiliz felsefesinin deneyci karakterinin, Fransız felsefesinin varoluşçu niteliğinin, Alman felsefesinin ise idealist yönünün öne çıktığı görülür. Bu farklı renklere karşın felsefe, örneğin insanı tüm genel özellikleriyle ele alıp inceler. Bir ülkenin insanını başka bir ülkenin insanından ayırmaz. Ne yalnızca Avrupa'daki insanı ne de yalnızca Asya'daki insanı merkeze alır. Felsefe coğrafyadan bağımsız genel olarak "insan" adını verdiğimiz varlığın doğasını araştırır. Başka bir deyişle, yetiştikleri toprakların kokusu sinmiş olsa da, filozoflar tüm insanlığı kapsayacak sonuçlara ulaşmaya çalışırlar.

Bu parçada felsefi düşüncenin aşağıdaki özelliklerinden hangisi vurgulanmaktadır?

A) Eleştirel olma
B) Çözümleyici olma
C) Öznel olma
D) Evrensel olma
E) Refleksif olma

42. *İphigeneia Aulis* adlı tragedyada Menelaos,Truva seferi komutanı olan ağabeyi Agamemnon ile bir tartışmasında ona şunları söyler: "Ben bir şefi veya bir komutanı soyu ya da kraliyet ailesine mensubiyeti nedeniyle bir ülkenin başına getirme fikrinin bütünüyle karşısındayım. Bir devletin ordusunu kumanda edebilmek için akıl ya da siyasi yetenek gerekir. Buna sahip olan her adam baş olmaya layıktır."

Bu parça siyaset felsefesinin aşağıdaki sorularından hangisi ile ilişkilendirilebilir?

A) Sivil toplumun anlamı nedir?
B) Devlet nasıl ortaya çıkmıştır?
C) Egemenliği kullanmanın koşulu nedir?
D) Bürokrasiden vazgeçilebilir mi?
E) Birey devlet ilişkisi nasıl olmalıdır?

43. Aşağıdakilerin hangisinde yaklaşma-yaklaşma çatışması yaşanmıştır?

A) Canı dondurma isteyen Merve'nin kilo almaktan çekindiği için dondurma yemekten vazgeçmesi
B) Yeni bir televizyon almak isteyen Banu'nun istediği ürünün mağazada indirimde olmasına sevinmesi
C) Beğendiği iki araba arasında kararsız kalan Gülşah'ın bir süre düşündükten sonra ucuz olanı alması
D) Engin'in merakla beklediği konsere eski nişanlısıyla karşılaşma korkusuyla gitmekten vazgeçmesi
E) Riskli bir ameliyat ile ciddi yan etkileri olan ilaç tedavisi arasında kalan bir hastanın ameliyatı tercih etmesi

44. Sosyalleşme aracılığıyla öğrenilen değerler ve normlar, insanların toplum hâlinde ve bir düzen içinde nasıl yaşayacaklarını bilmelerini sağlayan sosyal kuralları oluştururlar. Ancak değerlerin ve normların bilinmesi insanların onlara zorunlu olarak uyacağı anlamına gelmez. Bu nedenle resmî ve resmî olmayan kurumlar, bireylerin bu kurallara uymalarını sağlamak adına bir takım yaptırımlar uygular. Böylece toplumsal düzen için tehdit olarak görülen sapmanın ve suçun önlenmesi amaçlanır.

Bu parçadan aşağıdaki yargıların hangisine ulaşılabilir?

A) Norm ve değerlerin etkisinin zayıflaması toplumsal çözülmeye neden olur.
B) Toplumsal kontrol, toplumdaki norm ve değerlere uyulmasını sağlar.
C) Sosyalleşme insan yaşamı boyunca devam eden bir süreçtir.
D) Toplumsal normlar, hukuka uygun olduğunda yaptırım gücü kazanır.
E) Toplumsal değerlere uymayan davranışlar suç olarak değerlendirilir.

45. Son yıllarda İngiltere'de oy kullananların sayısı azalmakta, daha az insan seçimlerde aday olmakta ve siyasi partilere katılmaktadır. Çoğu insan yaşadığı bölgede veya genel olarak ülkede karar mekanizması üzerinde etkisi olduğuna inanmamakta ve seçilmiş temsilcilerle çok az iletişime geçmektedir. İçinde yaşadıkları topluluklarda gönüllü işlere katılanların sayısında da ciddi bir düşüş yaşanmaktadır. Örneğin, 2009'da İngiltere'de yapılan bir araştırmada, nüfusun yarısından fazlasının, bir milletvekiliyle ya da belediye meclis üyesiyle iletişime geçmek veya siyasi bir mitinge gitmek gibi hiçbir siyasi aktiviteye katılmadığı tespit edilmiştir.

Bu parçada aşağıdaki kavramlardan hangisinin eksikliğinden bahsedilmektedir?

A) Katılımcı demokrasi

B) Hümanizm

C) Kuvvetler ayrılığı

D) Doğrudan demokrasi

E) Temsilî demokrasi

46. $((p \Rightarrow q) \vee (r \wedge p)) \Leftrightarrow \sim((q \Rightarrow \sim r) \wedge r)$

bileşik önermesinin ana eklemi aşağıdakilerden hangisidir?

A) $\Rightarrow$ B) $\wedge$ C) $\sim$ D) $\vee$ E) $\Leftrightarrow$

SOSYAL BİLİMLER-2 TESTİ BİTTİ.
MATEMATİK TESTİNE GEÇİNİZ.

2019 ALAN YETERLİLİK TESTİ (AYT)

YKS 2. OTURUM ALAN YETERLİLİK TESTİ (AYT)

16-06-2019

SOSYAL BİLİMLER-2 TESTİ

1. A
2. D
3. E
4. C
5. A
6. B
7. E
8. D
9. B
10. B
11. D
12. D
13. A
14. C
15. E
16. E
17. B
18. E
19. D
20. A
21. E
22. A
23. C
24. C
25. E
26. B
27. A
28. B
29. C
30. D
31. C
32. D
33. E
34. B
35. E
36. D
37. A
38. A
39. C
40. B
41. D
42. C
43. C
44. B
45. A
46. E

SOSYAL BİLİMLER-2 TESTİ

1. Bu testte sırasıyla, Tarih-2 (1-11), Coğrafya-2 (12-22), Felsefe Grubu (23-34), Din Kültürü ve Ahlak Bilgisi (35-40), Din Kültürü ve Ahlak Bilgisi dersini yasal olarak almak zorunda olmayan veya farklı müfredat ile alanlar için Felsefe Grubu (41-46) alanlarına ait toplam 46 soru vardır.

2. Cevaplarınızı, cevap kâğıdının Sosyal Bilimler-2 Testi için ayrılan kısmına işaretleyiniz.

1. "Tarih yazmak, tarih yapmak kadar mühimdir. Yazan yapana sadık kalmazsa değişmeyen hakikat, insanlığı şaşırtacak bir mahiyet alır."

Mustafa Kemal, bu sözüyle tarihçinin aşağıdaki niteliklerinden hangisine işaret etmemiştir?

A) Öznellik
B) Bilimsellik
C) Tarafsızlık
D) Belgelere dayanma
E) Nesnellik

2. Kök Türk Devleti'nin yıkılmasının ardından Karadeniz'in kuzeyi ve Kafkaslar Bölgesi'nde kurulan ve yönetici zümresi Musevi olan Türk devleti, aşağıdakilerden hangisidir?

A) Avar
B) İkinci Kök Türk
C) Bulgar
D) Uygur
E) Hazar

3. Darüşşifalar konusunu işleyecek olan Öykü Öğretmen, öğrencilerine "Darüşşifa deyince aklınıza neler geliyor?" sorusunu yöneltmiştir. Öğrencilerden bazıları aşağıdaki cevapları vermiştir.

I. Hükümdarlar için hazırlanmış anıt mezarlardır.
II. Tıp eğitimi veren kurumlardır.
III. Hastaların müzik ve suyla tedavi edildiği yerlerdir.
IV. Bir caminin etrafında yer alan medrese, kütüphane, hastane, hamam, türbe gibi yapılar topluluğudur.

Öğrencilerin verdiği bu cevaplardan hangileri doğrudur?

A) Yalnız I
B) Yalnız IV
C) I ve II
D) II ve III
E) III ve IV

4. Aşağıdakilerden hangisi Osmanlı toprak rejiminin özelliklerinden biri değildir?

A) Toprak sipahi tarafından ekip biçilir.
B) Timar sisteminin esasını teşkil etmektedir.
C) Toprağın mülkiyeti devlete aittir.
D) Toprak sebepsiz yere boş bırakılmaz.
E) Hem toprak hem ürün üzerinden vergi ödenir.

5. Aşağıdakilerden hangisi XVIII. yüzyılda Avrupa'nın genel durumunu yansıtan gelişmelerden biri değildir?

A) Veraset savaşlarının yaşanması
B) Ulus devlet düşüncesinin temellerinin atılması
C) Feodalitenin hâkim duruma gelmesi
D) Merkantilist ekonomi politikasının uygulanması
E) Mutlakiyete dayalı yönetim anlayışının hâkim olması

6. III. Selim Dönemi'nde İngiltere'den başlayarak Avrupa ülkelerinde daimi elçilikler açılmıştır.

Osmanlı Devleti'nin bu uygulamayla;

I. Avrupa'da İslamiyeti yaymak,
II. diplomatik ilişkileri sağlıklı yürütmek,
III. Avrupa'daki gelişmeleri yakından takip etmek

amaçlarından hangilerini gözettiği savunulabilir?

A) Yalnız I
B) Yalnız III
C) I ve II
D) II ve III
E) I, II ve III

ÖSYM
Bu soruların telif hakları ÖSYM'ye aittir. Sorular ÖSYM'nin yazılı izni olmaksızın hiçbir kişi, kurum veya kuruluş tarafından kullanılamaz.

7. XIX. yüzyılda Osmanlı Devleti'nde uygulanan "millet sistemi" aşağıdaki unsurlardan hangisine dayanır?

A) Coğrafi mekân
B) Ekonomik durum
C) Sosyal statü
D) Dil
E) Din

8. Mustafa Kemal Paşa, 19 Kasım 1918 tarihinde Vakit gazetesine verdiği demeçte; "Millet ve memleketimizin pek muhtaç olduğu sulhü kararlaştıracak hükûmetin, Meclisi Mebusanımıza dayanması kati bir zorunluluktur." demiştir.

Mustafa Kemal Paşa'nın bu demeciyle aşağıdakilerden hangisini amaçladığı söylenebilir?

A) Saltanat Şûrası'nın toplanmasını
B) Hükûmetin imzalayacağı antlaşmanın her durumda desteklenmesini
C) Hükûmetin antlaşma için meclisten yetki alması gerektiğini
D) Antlaşmanın Wilson İlkeleri'ne göre düzenlenmesini
E) Âyan Meclisinin daha aktif bir politika izlemesini

9. Aşağıdaki haberlerden hangisinin, Hâkimiyet-i Millîye gazetesinde yer alması <u>beklenemez</u>?

A) Bugün kutlu bir gün, Büyük Millet Meclisi açıldı!
B) Rauf Bey dün Mondros Mütarekesi'ni imzaladı.
C) Yüreğimiz yanıyor, İstanbul İtilaf Devletleri tarafından işgal edildi!
D) Yunan kuvvetleri İnönü önlerinde geri püskürtüldü!
E) Sevr Antlaşması, Büyük Millet Meclisinde reddedildi.

10. Bir tarih öğretmeni, Batı Cephesi'ndeki savaşları anlatırken şu bilgiyi vermiştir: "Yunanların harekete geçtiği sırada TBMM Hükûmeti bir yandan Pontus çetelerinin saldırıları diğer yandan Koçgiri Aşireti'nin isyanı ile uğraşmak zorundaydı."

Öğretmenin, hakkında bilgi verdiği savaş aşağıdakilerden hangisidir?

A) Birinci İnönü
B) İkinci İnönü
C) Eskişehir-Kütahya
D) Gediz
E) Sakarya

11. Atatürk İlkeleri, Atatürkçü düşünce sisteminin esaslarını belirlemek ve hayata geçirmek için oluşturulmuştur. Türk inkılabı ise Atatürk İlkeleri'nin uygulamaya dönüşmüş şeklidir.

Buna göre, aşağıdaki ilke ve inkılap eşleştirmelerinden hangisi <u>yanlıştır</u>?

A) Cumhuriyetçilik - Saltanatın kaldırılması
B) Halkçılık - Soyadı Kanunu'nun kabul edilmesi
C) Milliyetçilik - Takrir-i Sükûn Kanunu'nun çıkarılması
D) Laiklik - Tekke, zaviye ve türbelerin kapatılması
E) Devletçilik - Birinci Beş Yıllık Sanayi Planı'nın uygulanması

ÖSYM
Bu soruların telif hakları ÖSYM'ye aittir. Sorular ÖSYM'nin yazılı izni olmaksızın herhangi bir kişi, kurum veya kuruluş tarafından kullanılamaz.

12. Denizel ve karasal olmak üzere iki bölüme ayrılan su ekosistemleri biyoçeşitlilik açısından dünyanın önemli alanlarını oluştururlar. Bu ekosistemlerde; suyun fiziksel ve kimyasal özellikleri, durgun veya hareketli olması, sıcaklığı, derinliği, ışık ve besin madde miktarı gibi faktörler biyoçeşitlilik üzerinde önemli bir etkiye sahiptir.

Bu ekosistemlerdeki biyoçeşitlilikle ilgili aşağıdakilerden hangisi doğrudur?

A) Kıyılarda karalardan taşınan besin maddelerinin açık denizlerden daha fazla olması canlı çeşitliliğini artırır.

B) Okyanus ve denizlerde 500 metreden daha derin ortamlarda canlı çeşitliliği daha fazladır.

C) Akarsuların yukarı çığırlarında yatak eğiminin fazla, akış hızının yüksek ve suların soğuk olması biyoçeşitliliği artırır.

D) Akarsuların okyanus veya denize döküldüğü ağız kısmı sıcaklık ve tuzluluk yönünden elverişsiz olduğu için biyoçeşitlilik düşüktür.

E) Kapalı havzalarda bulunan göllerde su sıcaklığının ve seviyesinin mevsimden mevsime değişmesi biyoçeşitliliği artırır.

13. Herhangi bir yerde mevsim normallerinin üzerindeki yüksek sıcaklıkların belirli bir süre yaşanması, başta insanlar olmak üzere tüm canlıları etkilemektedir.

Aşağıdakilerden hangisi bu durumun ortaya çıkardığı bir olumsuzluk <u>değildir</u>?

A) Tarımda verimliliğin azalması

B) Orman yangınlarının artması

C) Evsel enerji tüketiminin artması

D) Barajlardaki su seviyesinin düşmesi

E) Nöbetleşe ekim alanlarının azalması

14. I. Ulaşım sistemleri
II. Temiz su kaynakları
III. Sanayi kuruluşları
IV. Tarım toprakları

Küresel iklim değişikliğinin olumsuz etkileri yukarıdakilerden hangileri üzerinde <u>daha fazla</u> görülmektedir?

A) I ve II B) I ve III C) II ve III D) II ve IV E) III ve IV

15. I. Dağlık ve eğimli alanların fazlalığı tarımsal etkinlikleri kısıtlamaktadır.
II. Topraktaki organik ve mineral madde miktarı her yerde yeterli değildir.
III. İç kesimlerdeki geniş düzlükler önemli tahıl üretim alanlarını oluşturur.
IV. Nadasa bırakılan alanlar giderek azalmaktadır.

Yukarıdakilerden hangileri Türkiye'de yer şekillerinin bitkisel üretim üzerindeki etkisini göstermektedir?

A) I ve II B) I ve III C) II ve III D) II ve IV E) III ve IV

16. Türkiye'de; doğum, ölüm ve göçler sonucu değişen nüfus özelliklerine bağlı olarak belirli dönemlerde farklı nitelikte nüfus politikaları uygulanmıştır. Bunlardan biri de 1923 ile 1963 arası dönem olup bu dönemde nüfusun artırılmasına yönelik politikalar izlenmiştir.

Aşağıdakilerden hangisi bu dönemde uygulanan nüfus politikalarının gerekçelerinden biridir?

A) Doğal kaynakları işleyebilecek nüfusun az olması

B) İstihdam sorunları sebebiyle işsizliğin artması

C) Çok çocuklu ailelerin sayıca fazla olması

D) Nüfusa bağlı yatırımların artması ve tasarrufların azalması

E) Makineleşme sonucu tarım alanında iş gücüne duyulan ihtiyacın azalması

ÖSYM
Bu soruların telif hakkı ÖSYM'ye aittir. Sorular ÖSYM'nin yazılı izni olmaksızın hiçbir kişi, kurum veya kuruluş tarafından kullanılamaz.

17. Aşağıdaki haritada bazı alanlar numaralandırılarak gösterilmiştir.

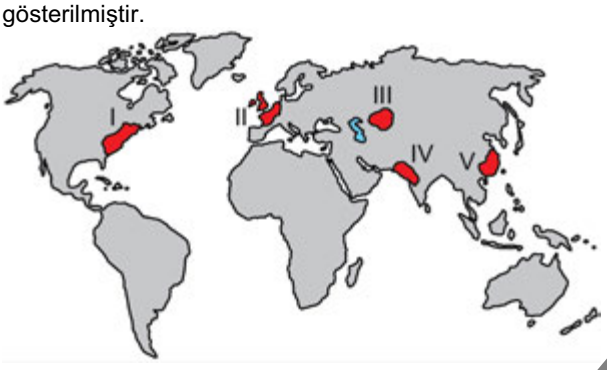

Taş kömürünün sanayide enerji kaynağı olarak kullanımı, ilk olarak bu alanların hangisinde başlamıştır?

A) I B) II C) III D) IV E) V

18. **Sanayileşme sürecine bağlı olarak büyüyen şehirlerde;**

I. şehirlere olan göçün hızlanması,
II. tarımsal üretimin artması,
III. ulaşım hizmetlerine talebin artması

durumlarından hangileri ortak özellik gösterir?

A) Yalnız I B) Yalnız II C) Yalnız III
D) I ve II E) I ve III

19. Günümüzde teknolojik gelişmeler, refah düzeyinin artması, ulaşım sektöründeki gelişmeler gibi durumlar turizme katılan insan sayısını artırarak bu sektörün gelişmesini sağlamıştır. Uluslararası turizmin gelişmesi ülkeler arası etkileşimde önemli bir role sahip olduğu gibi, olumsuz bazı sonuçlar da ortaya çıkarabilmektedir.

Aşağıdakilerden hangisi bu olumsuz sonuçlardan biri <u>değildir</u>?

A) Geleneksel yaşam biçiminde değişim

B) Yerel dilin yapısında bozulma

C) Konukseverliğin yerini ekonomik çıkarların alması

D) Doğal ve kültürel koruma alanlarının sayısının artması

E) Turizm faaliyetlerinin doğal dengede tahribat oluşturması

20. Ekonomik açıdan yeterince kalkınmamış bazı ülkeler çeşitli ham madde kaynaklarına sahip olmalarına rağmen bunları işleyerek mamul maddeye dönüştürecek sanayileri yetersiz olduğu için, ihtiyaç duydukları işlenmiş ürünleri diğer ülkelerden satın alırlar.

Kalkınmamış bazı ülkelerde görülen bu durum üzerinde, aşağıdakilerden hangisinin etkisi <u>daha fazladır</u>?

A) Doğal kaynaklarının yetersiz olması

B) Sahip oldukları nüfus miktarının düşük olması

C) Teknoloji ve nitelikli insan gücünün yetersiz olması

D) Ülke yüzölçümlerinin küçük olması

E) Tarım topraklarının yetersiz olması

ÖSYM
Bu soruların telif hakları ÖSYM'ye aittir. Sorular ÖSYM'nin yazılı izni olmaksızın hiçbir kişi, kurum veya kuruluş tarafından kullanılamaz.

21. Dünya ormanlarındaki aşırı tahribat orman alanlarının daralmasına ve buna bağlı olarak çeşitli çevre sorunlarının ortaya çıkmasına neden olmaktadır.

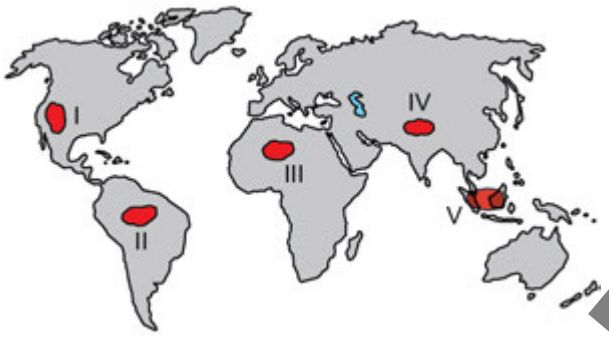

Bu durum, haritada numaralandırılan alanların hangilerinde daha fazla görülmektedir?

A) I ve II B) I ve III C) II ve V

D) III ve IV E) IV ve V

22. Enerji üretiminin sağlandığı doğal kaynaklardan bir bölümü belirli bir rezerve sahip olup bu kaynakların zaman içerisinde tükeneceği öngörülmektedir.

Aşağıdaki enerji kaynaklarından hangisi bu öngörü içerisinde değerlendirilemez?

A) Petrol B) Doğal gaz C) Taş kömürü

D) Jeotermal E) Linyit

23. Hareket ediyormuş gibi görünen bir aslan heykeline bakan Ayşe, hayranlıkla "Ne güzel! Kim yaptı acaba bunu?" der. Sonra merakı daha da artarak "Heykeltraş hareket eden bir aslan biçimini buna nasıl verdi?", "Peki bunu yapmaktaki amacı neydi?", "Bu heykeli yaparken hangi malzemeyi kullandı?" sorularını peşpeşe sorar. Orada bulunan heykeltraş, Ayşe'nin yanına yaklaşıp "Gördüğüm kadarıyla Aristoteles'in varlık anlayışını gayet iyi kavramışsınız." der. Ayşe'nin hayranlığına bir de şaşkınlık ifadesi eklenir.

Bu parçada heykeltraş, Ayşe'nin sorularından hareketle Aristoteles'in hangi düşüncesine gönderme yapmaktadır?

A) Felsefenin başlangıcının hayret olduğu görüşüne

B) Davranışlarda orta olma ilkesine

C) Madde-form öğretisine

D) Bilginin sanıdan (doksa) farklı olduğu görüşüne

E) Dört neden görüşüne

24. Mutluluk erdemli olmanın bir ödülü değil erdemin ta kendisidir. Dünyevi isteklerimizi bastırdığımız için mutluluktan haz almayız; tersine, ondan haz aldığımız için dünyevi isteklerimizi bastırabiliriz.

Spinoza'nın *Etika* adlı eserinden alınan bu parçadan aşağıdaki yargıların hangisine ulaşılabilir?

A) Erdemli olma çabasının hedefi mutluluktur.

B) Erdemli olmak için hazların bastırılması gerekir.

C) Erdemli olmak kendi başına mutluluktur.

D) Mutluluktan haz almak olanaksızdır.

E) Mutluluk hak edilen bir şeydir.

ÖSYM
Bu soruların telif hakları ÖSYM'ye aittir. Soruları ÖSYM'nin yazılı izni olmaksızın hiçbir kişi, kurum veya kuruluş tarafından kullanılamaz.

25. Nietzsche'nin "güç istenci" anlayışı oldukça farklı şekillerde yorumlanmış hatta bu yorumların bazıları onu suçlayacak bir noktaya dahi ulaşmıştır. "Güç istenci"nin, insanın diğer insanlar üzerinde egemenlik kurma isteği olarak yorumlanışına karşı Nietzsche'nin çağdaş yorumcularından Deleuze, kavrama açıklık getirmek amacıyla şunları söyler: "İstencin gücü istemesi, gücü bir erek olarak arzulaması ve ardı sıra gitmesi demek olmadığı gibi, gücün, istencin dürtüsü olması demek de değil. Gücün iradesi özünde yaratıcı ve donandırıcıdır: Bir şeye iç geçirmez, aramaz, arzulamaz ve özellikle de gücü arzulamaz. Verir: Güç, istençte 'verici erdem' olarak vardır; istenç, güç vasıtasıyla bizzat anlam ve değer donatıcıdır."

Buna göre "güç istenci**" için aşağıdakilerden hangisi söylenebilir?**

A) İnsanın ihtiyaçları tarafından belirlenir.

B) İnsanın yeni değerler oluşturabilmesini sağlar.

C) İnsanların birbirleriyle mücadelesinin ürünüdür.

D) Zaman içerisinde egemenlik kurar.

E) İnsanların mutluluğunu amaçlar.

26. I. Bireyin çocukluğunda yaşadığı travmatik olayların, yetişkinliğinde yaşadığı fobilerle ilişkisi var mıdır?

II. Bir iş yerinde çalışanlar arasındaki çatışmalar, çalışanların iş yerine bağlılıklarını olumsuz yönde etkiler mi?

III. Yeni doğmuş maymunların bir süre fiziksel temastan yoksun kalması maymunların yetişkinlikteki tepkilerini etkiler mi?

Yukarıdaki sorulardan hangileri, psikoloji biliminin konusu kapsamındadır?

A) Yalnız I B) Yalnız II C) I ve III

D) II ve III E) I, II ve III

27. Duygularla ilgili aşağıdaki ifadelerden hangisi <u>yanlıştır</u>?

A) Bireyin engellendiği durumlar onda çoğu zaman öfke duygusuna yol açar. Öfke ise saldırgan davranışa neden olabilir.

B) Kaygının aksine korkunun nesnesi yoktur. Birey kendisini korkutanın ne olduğunu somut olarak hiçbir zaman bilemez.

C) Korkuların bir kısmı doğuştan var olsalar da bazı korkular bireyin deneyimleri sonucunda sonradan edinilir.

D) Bireyin duyduğu hazzın kaynağı farklı gelişim dönemleri boyunca değişkenlik gösterebilir.

E) Bazı fizyolojik tepkiler birden çok duygu türünde ortak olarak görülür. Örneğin kalp atım hızı artan bireyin öfkelendiğinden emin olamayız.

28. Sosyal psikologların ilgilendikleri alanlar arasında şemalar, tutumlar, ön yargılar, yüklemeler gibi insanların sosyal bilişlerine yönelik çeşitli konular bulunmaktadır.

Yüklemeler konusunda çalışmalar yürüten bir psikolog, temel olarak aşağıdakilerden hangisine odaklanmaktadır?

A) İnsanların, davranışların nedenlerine yönelik düşüncelerine

B) İnsanların başkalarına hangi koşullarda yardım edeceğine

C) Sosyal uyarıcıların ne olduğuna yönelik kalıplaşmış bilişlere

D) Bir grubun tüm üyeleri tarafından paylaşıldığı düşünülen özelliklerine

E) Kişilere veya gruplara yönelik olumlu ve olumsuz duygulara

ÖSYM
Bu soruların telif hakları ÖSYM'ye aittir. Soruları ÖSYM'nin yazılı izni olmaksızın hiçbir kişi, kurum veya kuruluş tarafından kullanılamaz.

29. Benim engelim konuşamamam, engelliliğim ise benimle nasıl iletişim kuracağını öğrenmek için insanların zaman ayıramaması ya da buna zahmet etmemesi gerçeğidir. Benim engelim yürüyememem, engelliliğim ise belediyenin engelliye uygun kaldırım ve yol yapmaması, toplu taşıma araçlarını engellilerin biniş ve inişine uygun hâle getirmemesidir.

Bu parçadan aşağıdaki yargıların hangisine ulaşılabilir?

A) Engellilere her alanda pozitif ayrımcılık uygulanmalıdır.

B) Engellilerin temel sorunu sosyal engellemelerdir.

C) Sadece engellilerin faydalanabileceği özel otobüsler üretilmelidir.

D) Engelliler arasında işaret dili yaygınlaştırılmalıdır.

E) Engellilerin sağlık hizmetleri ücretsiz olmalıdır.

30. Toplumsal kurallar üzerine temellenen hukuk kurallarının, ahlak kurallarının nesnel boyutunu oluşturduğu söylenebilir. Hırsızlık ve yalan söyleme gibi davranışlar hukuk açısından olduğu gibi ahlak, din ve gelenekler açısından da yaptırımla karşılanır. Hukuk kurallarının ayırt edici özelliği ise yaptırımlarının niteliğidir. Ahlak kurallarından farklı olarak, hukuk içinde tanımlanmış kuralların ihlali durumunda, ihlal eden kişiye yönelik hak yoksunluğu, hapis cezası veya tazminat ödeme gibi yine hukuk içinde tanımlanmış maddi yaptırımlar uygulanır.

Bu parçadan aşağıdaki yargıların hangisine ulaşılabilir?

A) Değerler ve normlar toplumsal yaşamın vazgeçilmez unsurlarıdır.

B) Hukuk kuralları evrensel ilkelere uygun olduğunda varlığını sürdürebilir.

C) Ahlak ve hukuk kurallarının içerikleri, süreç içinde birbirinden farklılaşmıştır.

D) Hukuk kuralları değerler ve normlardan bağımsız değildir ancak resmî yaptırımlara sahiptir.

E) Toplumsal ilişkilerde ahlak kurallarının etkisi hukuk kurallarının önüne geçmiştir.

31. Bazı etkileşim tiplerine ait örnekler şu şekildedir:

- Fizik dersinde Eylül ve arkadaşlarının birlikte bir proje üzerinde çalışması
- Derslerine gerekli özeni göstermeyen Ela'ya ailesinin bilgisayar kullanmasını yasaklaması
- En çok kitap okuyana hediye verileceğini öğrenen Ada'nın her fırsatta kitap okuması
- Köyden kente göç eden bir ailenin kent yaşamına adapte olmaya çalışması

Buna göre aşağıdaki etkileşim tiplerinden hangisine örnek verilmemiştir?

A) Rekabet B) Mübadele C) İş birliği D) Uyum E) Baskı

32. Theseus'un Truvalılara karşı zafer kazandığı gemisi, zaferi onurlandırmak için limanda ziyarete açılır. Fakat zamanla geminin parçaları eskimeye başlar. Eskiyen her bir parça yenisiyle değiştirilir. Yıllar içinde görülür ki geminin tüm parçaları değiştirilmiştir. Bu duruma üzülen görevliler depoda saklanan eski parçaları birleştirerek Theseus'un gemisini tekrar oluştururlar. Limanda şimdi iki gemi vardır: Tümüyle yeni parçalardan oluşmuş gemi ve eski parçaların yeniden birleştirilmesinden oluşmuş gemi. Bu durumda Theseus'un Truvalılara karşı zafer kazanan gemisi hangi gemidir? Yeni parçalardan oluşmuş gemi mi, depodaki eski parçalardan oluşturulmuş gemi mi, her ikisi de mi yoksa hiçbiri mi?

Bu parçada aşağıdaki ilkelerden hangisi tartışılmaktadır?

A) Çelişmezlik

B) Üçüncü hâlin imkânsızlığı

C) Yeter - sebep

D) Özdeşlik

E) Nedensellik

ÖSYM
Bu soruların telif hakları ÖSYM'ye aittir. Sorular ÖSYM'nin yazılı izni olmaksızın kuruluş, şirket veya kuruluş adına kullanılamaz. Hiçbir kişi, kurum veya kuruluş

33. Mantık disipliniyle ilgili,

I. Tartışılan konu üzerinde ortaya konan bilginin doğru olup olmadığını denetler.
II. Tartışılan konuya ilişkin kavramların tanımlarına uygun kullanılıp kullanılmadığını denetler.
III. Tartışılan konuyla ilgili ortaya konan önermeler arası çıkarım ilişkilerini denetler.

yargılarından hangileri söylenebilir?

A) Yalnız I B) Yalnız II C) Yalnız III
D) I ve II E) I ve III

34. Aşağıdakilerden hangisi klasik mantıkta bileşik önerme olarak kabul edilemez?

A) Ali gelirse tüm aile çok sevinir.

B) Ali ya bugün ya da yarın gelecek.

C) Ali pilotluk sınavını kazandı.

D) Ali hem hırslı bir insandır hem de çok çalışır.

E) Ali insanları sevdiği kadar onlara saygı da gösterir.

35.-40. soruları Din Kültürü ve Ahlak Bilgisi dersini yasal olarak almak zorunda olanlar ve İmam Hatip Okulları öğrencileri/mezunları cevaplayacaktır.

35. "Eğer yerde ve gökte Allah'tan başka ilahlar bulunsaydı yer ve gök, (bunların düzeni) kesinlikle bozulup gitmişti. Demek ki arşın Rabb'i olan Allah, onların yakıştırdıkları sıfatlardan uzaktır." (Enbiya, 21:22)

Bu ayette vurgulanan husus aşağıdakilerden hangisidir?

A) Allah'ın, yaratılmış hiçbir varlığa benzemediği

B) Âlemde birden fazla tanrı olmasının imkânsızlığı

C) Kâinattaki düzenin kıyamete kadar süreceği

D) Allah'ın sadece olumlu sıfatlarla nitelenebileceği

E) Allah ile kul arasında aracıların olamayacağı

36. Kur'an-ı Kerim'de; Müslümanın her türlü aşırılıktan uzak, ölçülü, dengeli bir yol, inanç ve yaşam biçimini benimsemesi gerektiği vurgulanmaktadır.
Hz. Muhammed zamanında yaşanan bir olay da bu duruma örnek verilebilir: Sahabelerden birinin; çok sevap kazanmak için sürekli namaz kıldığı, bir diğerinin ise sürekli oruç tutmak üzere yemin ettiği bilgisi Hz. Muhammed'e ulaşır. O, bu durumdan hiç memnun olmaz ve söz konusu sahabelerin yanına giderek "Ben Allah'tan en çok korkanınızım. Ama ben bazen namaz kılar bazen dinlenirim, bazen oruç tutar bazen de yerim." der ve onların da aşırıya gitmekten uzak durmalarını ister.

Bu parçada Hz. Muhammed'in eleştirdiği tutum aşağıdaki kavramlardan hangisiyle ifade edilir?

A) Fitne B) Haset C) İfrat
D) İnkâr E) Taassup

37. "Andolsun, Allah'ın Resulünde sizin için; Allah'a ve ahiret gününe kavuşmayı uman, Allah'ı çok zikreden kimseler için güzel bir örnek vardır." (Ahzab, 33:21)
ayetinde, Hz. Muhammed'in dikkat çekilen yönü aşağıdakilerden hangisidir?

A) Temsil B) Tebyin C) Tevekkül
D) Teşri E) Tefekkür

38. Sınır boylarında İslam'ın ilk dönemlerinden itibaren güvenliği tesis etmek ve yeni fetihlere hazırlık yapmak amacıyla saldırılara karşı korunaklı yapılar inşa edilmiştir. Buralara savaş için gerekli teçhizat ve belli sayıda asker yerleştirilmiştir. Sınır boylarında inşa edilen bu yapılar sınırların genişlemesiyle birlikte iç bölgelerde kalmış, bunların bir kısmı kervansaray olarak hizmet vermiş, birçoğu da tekke ve zaviyeye dönüşerek ilim ve zikir yapılan merkezler hâline gelmiştir. Selçuklulardan itibaren Anadolu ve Balkanlar'a da yayılan bu yapılar sayesinde İslam'ın yayılması hız kazanmıştır.

Bu parçada bahsedilen kurum aşağıdakilerden hangisidir?

A) Dergâh B) Suffe C) Ribat
D) İmarethane E) Külliye

ÖSYM
Bu soruların tek hakkı ÖSYM'ye aittir. Soruları ÖSYM'nin yazılı izni olmaksızın hiçbir kişi, kurum veya kuruluş tarafından kullanılamaz.

39. İslam kültür ve medeniyetinin gelişip zenginleşmesinde çeviri faaliyetlerinin önemli payı olmuştur. Bu faaliyetlerin sistemli bir şekilde yürütülmesi için Abbasiler Dönemi'nde ciddi adımlar atılmış ve Bağdat'ta bir merkez kurulmuştur. Burada çeşitli dillerde kaleme alınmış pek çok eserin çevirisi yapılarak zengin bir kütüphane oluşturulmuştur. İlmî tartışmaların da yapıldığı bu merkez, Orta Çağ'da ilimler akademisi niteliğinde hizmet vermiştir.

Bu parçada bahsedilen kurum aşağıdakilerden hangisidir?

A) Nizamiye Medresesi
B) Daru'l-hadis
C) Daru'l-kurra
D) Rasathane
E) Beytü'l-hikme

40. XX. yüzyıldan itibaren daha çok Batı toplumlarında ortaya çıkan ve Türkiye'de "Milenyum Tarikatları**", "**Kıyamet Tarikatları**" gibi isimlerle anılan yeni dinî hareketlerle ilgili olarak aşağıdakilerden hangisi <u>söylenemez</u>?**

A) Bir kurtarıcının toplumu ıslah edeceği ve böylece geleceğin daha iyi olacağına dair inançları vardır.

B) Grup üyelerinin uymak zorunda olduğu birtakım kurallar söz konusudur.

C) Hızlı modernleşen ve geleneksel değerlerinden uzaklaşan toplumlarda daha yaygın görülür.

D) Grup üyeleri, hiyerarşik yapıdan uzaktır ve eşit haklara sahiptir.

E) Yeni üye kazanabilmek için misyoner faaliyetlere önem verirler.

41.-46. soruları Din Kültürü ve Ahlak Bilgisi dersini yasal olarak almak zorunda olmayan veya farklı müfredat ile alanlar cevaplayacaktır.

41. Sokrates'e göre insanlar doğaları gereği mutlu olmayı ister. Dünyada insanı mutlu kılan ne varsa o şey özce iyi bir şey olduğuna göre insanların mutsuzluğa neden olan kötüyü istemeleri olanaksızdır. Buna karşın insanların sık sık kötü, zararlı ve değersiz bir şeyin peşine düştükleri olur ancak bu durum yalnızca onların bilgisizliklerinden kaynaklanmaktadır. Yani insan kötü bir eylemde bulunduysa o eylemin iyi olduğunu zannettiği için yapmıştır.

Bu parçadan Sokrates'in ahlak anlayışıyla ilgili aşağıdaki yargıların hangisine ulaşılabilir?

A) Ahlaki davranışlar, edinilen alışkanlıkların ürünüdür.

B) Bilgi insanın ahlaklı ve erdemli olmasını sağlar.

C) Ahlaki doğrular toplumsal uzlaşıyla belirlenir.

D) Ahlak doğuştan gelen bir yetidir ve eğitimle kazanılamaz.

E) Ahlaki doğrulara sahip olmadan da bilgi sahibi olunabilir.

ÖSYM
Bu soruların telif hakları ÖSYM'ye aittir. Sorular ÖSYM'nin yazılı izni olmaksızın hiçbir kişi, kurum veya kuruluş tarafından kullanılamaz.

42. Bilimsel devrim dönemlerinde, olağan bilimsel gelenek değiştiği zaman, bilim insanı çevresini algılamayı yeni baştan öğrenmek zorundadır yani tanıdığı koşullar içinde yeni kalıplar görmeyi öğrenmesi gerekmektedir. Bunu yaptıktan sonra araştırma dünyası birçok noktada eskiden yaşadığı dünyayla bağdaşmayan ölçüler taşıyacaktır. Farklı paradigmaların içinde gelişen ekollerin her zaman birbirlerine biraz ters düşen amaçlar benimsemelerinin bir başka nedeni de budur.

Thomas Kuhn'un bu parçada öne sürdüğü bilim anlayışının temel savı aşağıdakilerden hangisidir?

A) Bilim, paradigmaların değişmesi yoluyla sıçramalar ve kopuşlar sergiler.

B) Bilim, ilk teoriden son teoriye kadar paradigmatik devamlılık sergiler.

C) Bilim, burada ve şimdi gerçekleştirilen fakat tarihsel süreklilik taşıyan bir etkinliktir.

D) Bilim, olgular üzerinde yapılan deney ve gözlemlerle birikimsel olarak ilerler.

E) Bilim, bilim insanlarının çalışmaları sonucunda ortaya çıkan ürünlerin paradigmatik bütünüdür.

43. Bir araştırmacı, travmatik anıları hatırlamanın kaygı düzeyi üzerindeki etkisini incelemek ister. Bu amaçla düzenlediği araştırmada, katılımcılara "Şimdi travmatik bir anınızı düşünmenizi istiyorum." yönergesini verir. Katılımcılardan biri geçmişte yaşadığı travmatik bir anıyı düşünürken ağlamaya başlar ve araştırmacıya kendini çok kötü hissettiği için çalışmanın bu kısmını atlamak istediğini söyler. Araştırmacı, katılımcıya tüm kısımları eksiksiz tamamlaması gerektiğini bildirir.

Bu durumda araştırmacı;

I. katılımcının araştırma sırasında yaşayabileceği risklerin azaltılması,

II. katılımcının verdiği cevapların gizliliğinin sağlanması,

III. katılımcının araştırmaya özgür iradesiyle devam etmesi

etik ilkelerinden hangilerini ihlal etmiştir?

A) Yalnız I B) Yalnız II C) I ve III

D) II ve III E) I, II ve III

44. Kast sistemi, bireylerin toplumsal konumunun yaşam boyu belirli olduğu bir toplumsal düzendir. Bu sistemde her birey ailesinin ait olduğu kastın içinde doğar ve yaşamı boyunca da bu kastta kalır. Bundan dolayı kast toplumlarında, kesin olarak belirlenmiş olan farklı toplumsal seviyeler birbirine kapalıdır.

Bu parçadan kast sistemiyle ilgili aşağıdaki yargıların hangisine <u>ulaşılamaz</u>?

A) Kastlar arasındaki ayrımları belirleyen unsurlar değişken değildir.

B) Bireylerin kastlar arasında toplumsal hareketliliği mümkün değildir.

C) Bireylerin toplumsal konumları değişmeden devam eder.

D) Bireylerin farklı kastlarda yer alması toplumsal etkileşimi güçlendirir.

E) Bireylerin statü ve rollerini ait oldukları kast belirler.

45. Toplumsal değişmeyi anlamlı bir biçimde yorumlayabilmek için değişmenin gözlenebileceği çeşitli genel görünümleri anlamamız gerekir. Tüm değişmeler geçicidir. Toplumsal değişme, insanların biyolojik yaşlanma sürecine benzemez; toplum veya kültür ne yorulur ne de güçten düşer. Davranış örüntülerinin yenilenmesi veya terk edilmesi belirli bir sürece bağlıdır.

Bu parçada toplumsal değişmenin hangi unsurla olan ilişkisi vurgulanmaktadır?

A) Ekonomi B) Çevre C) Nüfus

D) Teknoloji E) Zaman

ÖSYM
Bu soruların telif hakkı ÖSYM'ye aittir. Sorular ÖSYM'nin yazılı izni olmaksızın hiçbir kişi, kurum veya kuruluş tarafından kullanılamaz.

46. Klasik mantıkta ters döndürme, bir önermenin niteliğini ve doğruluk değerini değiştirmeden öznesinin karşıt hâlini yüklem, yükleminin karşıt hâlini özne yapma işlemidir.

Buna göre "Bütün martılar kuştur.**" önermesinin ters döndürmesi aşağıdakilerden hangisidir?**

A) Bazı kuş olmayanlar martı olmayandır.

B) Hiçbir kuş martı değildir.

C) Hiçbir martı olmayan kuş olmayan değildir.

D) Bütün kuş olmayanlar martı olmayandır.

E) Bütün kuşlar martıdır.

ÖSYM
Bu soruların telif hakları ÖSYM'ye aittir. Sorular ÖSYM'nin yazılı izni olmaksızın hiçbir kişi, kurum veya kuruluş tarafından kullanılamaz.

SOSYAL BİLİMLER-2 TESTİ BİTTİ.
MATEMATİK TESTİNE GEÇİNİZ.

2020 ALAN YETERLİLİK TESTLERİ (AYT)

YKS 2. OTURUM ALAN YETERLİLİK TESTLERİ (AYT)

28-06-2020

SOSYAL BİLİMLER-2 TESTİ

1. A
2. E
3. D
4. A
5. C
6. D
7. E
8. C
9. B
10. B
11. C
12. A
13. E
14. D
15. B
16. A
17. B
18. E
19. D
20. C
21. C
22. D
23. E
24. C
25. B
26. E
27. B
28. A
29. B
30. D
31. B
32. D
33. C
34. C
35. B
36. C
37. A
38. C
39. E
40. D
41. B
42. A
43. C
44. D
45. E
46. D

ÖSYM
Bu soruların telif hakları ÖSYM'ye aittir. Sorular ÖSYM'nin yazılı izni olmaksızın hiçbir kişi, kurum veya kuruluş tarafından kullanılamaz.

SOSYAL BİLİMLER-2 TESTİ

1. Bu testte sırasıyla, Tarih-2 (1-11), Coğrafya-2 (12-22), Felsefe Grubu (23-34), Din Kültürü ve Ahlak Bilgisi (35-40), Din Kültürü ve Ahlak Bilgisi dersini yasal olarak almak zorunda olmayan veya farklı müfredat ile alanlar için Felsefe Grubu (41-46) alanlarına ait toplam 46 soru vardır.

2. Cevaplarınızı, cevap kâğıdının Sosyal Bilimler-2 Testi için ayrılan kısmına işaretleyiniz.

1. Anadolu'daki Neolitik Dönem köy yerleşkelerinden olan Diyarbakır Çayönü ile ilgili araştırma yapan bir bilim insanı, aşağıdaki tarihe yardımcı bilim dallarının hangisinden yararlanabilir?

A) Antropoloji B) Nümizmatik C) Paleografya

D) Epigrafi E) Diplomatik

2. Göktürklere karşı sık sık ayaklanan, Uygurlar Dönemi'nde uğradıkları baskılar üzerine batıya göç eden ve Karahanlı Devleti'nin kuruluşunda rol oynayan Türk topluluğu aşağıdakilerden hangisidir?

A) Avarlar B) Kıpçaklar C) Kimekler

D) Karluklar E) Peçenekler

3. Timur, "han" soyundan gelmediği için "han, hakan, sultan" yerine "emir" unvanını kullanmıştır.

Bu durumun ortaya çıkmasında;

I. ülüş,
II. kut,
III. töre

kavramlarından hangilerinin etkili olduğu savunulabilir?

A) Yalnız I B) Yalnız II C) Yalnız III

D) I ve II E) II ve III

4. "Biz ki Sultan Murat Han oğlu padişah Sultan Mehmet Han'ız; Galata halkının, bize bağlı olan diğer halklar gibi, âdet ve ibadetlerini serbestçe yapmalarına izin veriyoruz. Halkın barınakları, dükkân, bağ, değirmen, ticarethane ve diğer mallarına dokunulmayacaktır. Bu bölge halkı kiliselerinde diledikleri gibi ayin düzenleyebileceklerdir. Burada yazılı olduğu gibi vergisini verenler, kanunlara uyanlar serbesttir."

Bu metin aşağıda verilen Osmanlı yönetim uygulamasıyla ilgili terimlerden hangisinin karşılığıdır?

A) Müsadere B) Mukataa C) Ahidname

D) İltizam E) İcazetname

5. Orta Çağ sonlarında Avrupa'da bilimin, kilisenin baskı ve denetiminden kurtulmaya başlamasında;

I. Feodal düzen,
II. Haçlı Seferleri,
III. Coğrafi Keşifler

unsurlarından hangilerinin etkili olduğu söylenebilir?

A) Yalnız I B) Yalnız II C) Yalnız III

D) I ve II E) II ve III

6. Aşağıdakilerin hangisi Yavuz Sultan Selim'in Mısır Seferi'nin sonuçlarından biridir?

A) Erbil, Musul ve Kerkük'ün Osmanlı Devleti'nin egemenliğine girmesi

B) Safeviler ile Osmanlı Devleti arasında Amasya Antlaşması'nın imzalanması

C) Şahkulu öncülüğünde Anadolu'da büyük bir isyan çıkması

D) Venediklilerin Kıbrıs için verdikleri vergiyi Osmanlılara ödemeye başlaması

E) Akkoyunlu Devleti'nin siyasi varlığına son verilmesi

7. Osmanlı Devleti'nin Tanzimat Fermanı'nı ilan ederek aşağıdakilerden hangisini amaçladığı <u>söylenemez</u>?

A) Anayasayı ilan ederek parlamenter bir sisteme geçmeyi

B) Farklı dinlere mensup Osmanlı tebaası arasında birlik sağlamayı

C) Mısır Meselesi'nde büyük devletlerin desteğini almayı

D) Ülkedeki ayrılıkçı eğilimlerin önüne geçmeyi

E) Avrupalı devletlerin, ülkenin iç işlerine karışmasını engellemeyi

8. I. Ben size taarruz emretmiyorum, ölmeyi emrediyorum.

II. Hattı müdafaa yoktur, sathı müdafaa vardır. O satıh bütün vatandır.

III. Ordular ilk hedefiniz Akdeniz'dir. İleri!

IV. Geldikleri gibi giderler.

Mustafa Kemal Atatürk'ün birtakım olaylar ve gelişmeler karşısında söylemiş olduğu bu sözlerin kronolojik sıralaması aşağıdakilerin hangisinde doğru olarak verilmiştir?

A) I - IV - II - III

B) I - IV - III - II

C) II - III - IV - I

D) IV - II - I - III

E) IV - I - III - II

9. Aşağıdakilerden hangisi Millî Mücadele Dönemi'nde faaliyet gösteren Temsil Heyeti'nin özelliklerinden biridir?

A) İstanbul Hükûmeti'nin isteğiyle kurulmuştur.

B) TBMM ile uyum içerisinde çalışmıştır.

C) Başkanlığını Kazım Karabekir Paşa yapmıştır.

D) Erzurum Kongresi'nde oluşturulmuştur.

E) İstanbul'un resmen işgali üzerine dağıtılmıştır.

10. Türkiye'de ekonomiyle ilgili yapılan aşağıdaki yasal düzenlemelerden hangisi, Atatürk Dönemi'nde <u>gerçekleştirilmemiştir</u>?

A) Yol Mükellefiyeti Kanunu

B) Teşvik-i Sanayi Kanunu

C) Kabotaj Kanunu

D) Millî Korunma Kanunu

E) Türk Ticaret Kanunu

11. Türk kadınının 1930'da belediye, 1933'te muhtarlık ve 1934'te milletvekili seçimlerine katılma hakkı kazanması;

I. Cumhuriyetçilik,
II. Devletçilik,
III. İnkılapçılık

ilkelerinden hangileriyle ilişkilidir?

A) Yalnız I B) I ve II C) I ve III

D) II ve III E) I, II ve III

12. Yıllık ortalama yağışın 200 mm'nin altına düştüğü alanlarda bitkilerin pek çoğu yaşayamaz.

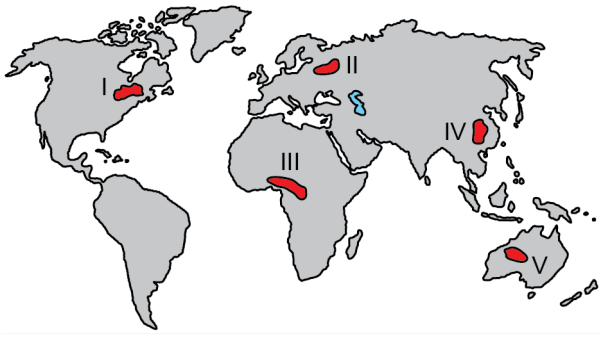

Haritada numaralandırılan alanların hangisinde belirtilen koşuldan dolayı bitki yaşamının <u>daha sınırlı</u> olduğu söylenebilir?

A) I B) II C) III D) IV E) V

13. Jeolojik ve jeomorfolojik kökenli ekstrem doğa olayları ortaya çıkardığı sonuçlar nedeniyle doğal ve beşerî süreçlerin işleyişini önemli oranda etkilemektedir.

Aşağıdakilerden hangisi bu türdeki ekstrem olaylar ve sonuçlarından biri <u>değildir</u>?

A) Buz fırtınalarının enerji nakil hatlarına zarar vermesi

B) Tsunamilerin çok sayıda can ve mal kaybına neden olması

C) Volkanlarla püsküren küllerin hava ulaşımını engellemesi

D) Depremlerin yerleşmeleri tahrip etmesi

E) Kütle hareketlerinin kara yolu ulaşımını engellemesi

14. Bir coğrafya öğretmeni, dersinde sanayi faaliyetlerinin dağılışını etkileyen faktörleri anlatırken: "Türkiye'de genellikle tarım ürünlerini işleyen sanayi tesisleri, ürünlerin yetiştirildiği alanlara yakın yerlerde kurulmaktadır." demiştir.

Öğretmen, bu ifadesinde sanayi tesislerinin aşağıdaki kuruluş koşullarından hangisini vurgulamıştır?

A) Enerji kaynakları B) Pazar

C) Ham madde D) İş gücü

E) Sermaye

15. Eski göl tabanlarındaki tortul depolar içerisinde gerçekleşen birtakım süreçlerin ürünü olarak ortaya çıkan ve enerji üretiminden kimya sanayisine kadar çok geniş bir alanda kullanılmakta olan bir madendir. Metalik olmayan söz konusu madene ait bilinen Dünya rezervlerinin % 70'inden fazlası Türkiye'de yer almakta ve ülke genelinde farklı sahalardan çıkarılmaktadır.

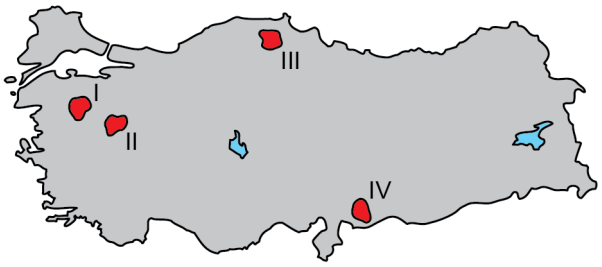

Haritada numaralandırılan alanların hangilerinde bu maden rezervi bulunur?

A) I ve II B) I ve III C) II ve III

D) II ve IV E) III ve IV

16. Nüfusun fazla, sanayi ve hizmet sektörünün ağırlıkta olduğu kentlerde yaşayanlar; kentin sıkıcı yaşamından kurtulmak, eğlenmek, dinlenmek ve kendilerini geliştirmek amacıyla çeşitli sosyal ve kültürel faaliyetlere katılabilirler.

Bu faaliyetlere;

I. boş zamanlarında sanatsal veya sportif etkinliklere katılmaları,
II. zorunlu çalışma zamanlarının dışında daha fazla gelir için ek işler yapmaları,
III. kendini geliştirmek isteyenlerin beceri ve hobi kurslarına devam etmeleri

durumlarından hangileri örnek <u>gösterilemez</u>?

A) Yalnız I B) Yalnız II C) Yalnız III

D) I ve II E) II ve III

17. Tarıma dayalı ekonominin ön planda olduğu Doğu Anadolu'da; çok parçalı tarım alanlarının, düşük verimliliğin, iklime bağlı olarak özellikle ulaşım hizmetlerinde sorunlar yaşanmasının ve kırsal kesimin pazar ekonomisi ile bütünleşememesinin önüne geçmek için Doğu Anadolu Projesi geliştirilmiştir.

Aşağıdakilerden hangisi bu kalkınma projesinin temel amaçlarından biri <u>değildir</u>?

A) Kentleşme, altyapı ve çevre sorunlarını azaltmak

B) Tarım ve hayvancılık sektöründe verim ve gelir artışı sağlamak

C) Bölge dışına göçü azaltmak ve göçlere bağlı olarak gelişen sorunları en aza indirmek

D) Bölge halkının refah seviyesini yükseltip bölgeler arası dengesizliği azaltmak

E) Bölgede ağır sanayiye bağlı bir ekonomiye geçiş yapmak

18. I. Kuzey Atlantik Antlaşması Örgütü
II. Petrol İhraç Eden Ülkeler Örgütü
III. Bağımsız Devletler Topluluğu

Yukarıdaki örgütlerin hangilerinde üye ülkelerin ekonomik iş birliğini artırmak ve ekonomik çıkarlarını korumak amaçları bulunmaktadır?

A) Yalnız I B) Yalnız II C) Yalnız III

D) I ve II E) II ve III

19. Kapladığı alan bakımından dünyanın önemli kültür bölgelerinden birini oluşturan Avrupa Kültür Bölgesi, geçmişte sadece Avrupa kıtası ile sınırlı iken daha sonra Amerika, Avustralya ve Yeni Zelanda'yı içine alarak genişlemiştir.

Bu kültür bölgesinin genişlemesinde aşağıdakilerden hangisi etkili olmuştur?

A) Tarımda makineleşme

B) Ulaşımdaki gelişmeler

C) Turizmin çeşitlenmesi

D) Uluslararası ticaretin artışı

E) Dünya nüfusunun artması

20. Gelişmekte olan bir ülkede, sektörlerin ekonomiye olan katkılarının son on yıla ait dağılımını gösteren bir tablo incelendiğinde tarım sektörünün ekonomideki payının azaldığı, sanayi ve özellikle de hizmet sektörlerinin paylarının arttığı görülmüştür.

Bu ülkenin sosyal ve ekonomik yapısıyla ilgili olarak aşağıdaki yargılardan hangisine <u>ulaşılamaz</u>?

A) Enerji tüketimi artmaktadır.

B) Kentleşme oranı artmaktadır.

C) Ekonomik bakımdan gelişmektedir.

D) Tarımsal üretim miktarı azalmaktadır.

E) Eğitimli nüfus oranı yükselmektedir.

21. I. Meralarda planlamaya dayalı dönüşümlü otlatma yapılması

II. Tarım arazilerinin yerleşim alanına dönüştürülmesi

III. Ormanlık arazilerde gençleştirme için bazı ağaçların kesilmesi

IV. Sulak alanların kurutularak tarıma açılması

Yukarıdaki uygulamalardan hangileri arazi potansiyeline uygun olmayan yanlış arazi kullanım uygulamalarına örnek gösterilebilir?

A) I ve II B) I ve III C) II ve III

D) II ve IV E) III ve IV

22. Gelişmiş ülkeler; çevre sorunlarının önlenmesine yönelik etkili politikalar, yasal önlemler ve çeşitli uygulamalar geliştirmiştir. Bu politika ve uygulamalar, küresel ekosistemin korunması ve sürdürülebilirliği açısından da önemlidir.

Aşağıdakilerden hangisi bu ülkelerin uygulamalarına örnek <u>gösterilemez</u>?

A) Çevre sorunlarına karşı bütüncül ve katılıma dayalı bir çevre politikası geliştirmeleri

B) Sürdürülebilir doğal kaynak kullanımı için düzenlemeler yapmaları

C) Kirleten öder ilkesi gereği çevre sorunlarına neden olanlara yasal yaptırımlar uygulamaları

D) Kamu ve özel sektör ile toplumun çevre sorunlarına karşı sorumluluk almalarını sağlamaları

E) Koruma alanlarındaki ekonomik değer taşıyan maden rezervlerini işletmeleri

23. Determinist evren modelinde gerçeklik, nedenin sonuç üzerindeki istisnasız etkisiyle ifade edilir. Yani eğer başlangıç koşulları ve fizik yasaları hakkında yeterli bilgiye sahipseniz bilardo masasında, topa vurmadan önce, topların birbirlerine hangi kuvvetle çarpacağını, topların hareket yönlerini ve masanın neresinde duracağını öngörebilirsiniz. Bilginiz yeterli ise sizin için masada hiçbir belirsizlik yoktur. Burada belirsizlik, sizin gerçekliği kuşatan ve belirleyen tüm koşulları bilmeniz veya bilmemeniz arasındaki farktan doğmaktadır.

Bu parçada söz edilen belirsizliğin nedeni aşağıdakilerden hangisidir?

A) Ön kabullerin ispatlanamazlığı

B) Epistemik eksiklik

C) Neden - sonuç ilişkisindeki kırılmalar

D) Gerçekliğin ontolojik yapısı

E) Kuramsal hatalar

24. Nasıl ki duyusal algı konusunda insanın bireysel algısı doğrunun tek ölçüsü ise aynı şekilde insan; hakikatin, ahlaki iyinin ve adaletin de ölçüsüdür. Güzel veya çirkin, iyi veya kötü, adil veya adaletsiz olan bir şey, onu bu şekilde gören insan için öyledir. Bu konularda bireyden bireye olduğu gibi toplumdan topluma da bir bilgelik farkı yoktur. Bu yüzden ahlaki ilkeler de ne ilahi bir otoritenin değişmez buyruğudur ne de herkes için geçerlidir. Onlar sadece ve sadece toplumsal uzlaşının ürünüdür ve bu iradenin değişmesine paralel olarak da değişirler.

Bu parçadaki görüşleriyle Protagoras'ın aşağıdaki sorulardan hangisini tartıştığı söylenebilir?

A) Evrensel bir ahlak yasasından bahsedilebilir mi?

B) Ahlaki eylemlerin bir amacı var mıdır?

C) Neden ahlaklı olmak gerekir?

D) Eylemleri ahlaki kılan özellikler nelerdir?

E) Ahlaki yargıları diğer yargılardan ayıran nedir?

25. H. G. Gadamer'e göre hermeneutik, tarihin ve kültürün bütünü hakkında konuşmanın olanağı olarak "anlamın anlamı" üzerine düşünmeyi ifade etmektedir. Bu düşünmeyi gerçekleştiren özne; düşünmesini belirleyen koşullardan bağımsız değildir, öznenin tarihi ve kültürü anlamasını sağlayacak araçlar olan dilsel eserler ve metinler de aynı koşullar içinde şekillenmektedir. Dolayısıyla hermeneutik, öznenin sahip olduğu anlam oluşturma araçlarının ve kendisine nüfuz edilecek kültürle tarihin bir arada ele alınmasını gerektirmektedir.

Bu parçadan hermeneutikle ilgili aşağıdaki yargıların hangisine <u>ulaşılamaz</u>?

A) Öznenin düşünsel süreçlerini dikkate alır.

B) Yazılı kültür ürünlerini anlamın kaynağı olarak görür.

C) Geçmiş ve günümüz arasında köprü kurulmasını sağlar.

D) Özneyi bağımsız ve kendi içinde anlamlandırmayı hedefler.

E) Tarih üzerine refleksiyonda bulunma olanağı sağlar.

26. Psikolojide tanımlanan "güdü" ve "dürtü" kavramlarıyla ilgili aşağıdakilerden hangisi <u>yanlıştır</u>?

A) Açlık, susuzluk gibi fizyolojik kökenli güdülere dürtü denir.

B) Sosyal güdüler, yaşantılar sonucunda öğrenilir.

C) Dürtüler, organizmanın yapısında doğuştan bulunur.

D) Sevgi görme ve başarılı olma birer sosyal güdüdür.

E) Her güdü aynı zamanda bir dürtüdür.

27. Şiddetli bir baş ağrısı yaşayan Yonca, ağrı kesici alır ve baş ağrısı kısa sürede hafifler. Yonca, o günden sonra şiddetli baş ağrısı çektiği her zaman ağrı kesici alarak baş ağrısından kurtulmaya çalışır.

Yonca'nın ağrı kesici alarak baş ağrısından kurtulması, aşağıdaki öğrenme kavramlarından hangisine örnektir?

A) Sönme
B) Genelleme
C) Ayırt etme
D) Olumsuz pekiştirme
E) Kendiliğinden geri gelme

28. Kişiler bazen rahatsız edici buldukları, hoşa gitmeyen veya tehdit edici içerikli duygu ve düşüncelerini başkalarına yöneltirler. Bu durum, kişinin benliğini kaygıdan koruyan savunma mekanizmaları içinde yer alır ve yansıtma olarak adlandırılır.

Buna göre aşağıdakilerden hangisi "yansıtma**"ya örnektir?**

A) Bir kişinin eşine yalan söylediği için yoğun suçluluk ve utanç duygusu yaşaması

B) Arkadaşına karşı sevgi dolu hisler besleyen birinin arkadaşının kendisinden hoşlanmadığını düşünmesi

C) İş yerinde çalışma arkadaşıyla tartışma yaşayan bir kişinin evde çocuğunu nedensiz yere azarlaması

D) Komşusunun yeni aldığı arabayı çekemeyen bir kişinin komşusunun sürekli onu kıskandığını söylemesi

E) Hangi işi seçeceğine bir türlü karar veremeyen birinin psikolojik destek almaya karar vermesi

29. Sosyal davranış belirli bir yer ve zamandaki bireyler arasında gerçekleşir ve somut olarak gözlemlenebilir. Ancak sosyologlar bu davranışı analiz edebilmek için nerede gerçekleşmiş olursa olsun davranış biçimlerindeki benzerliği belirginleştiren kavramları formlaştırmak zorundadır. Örneğin Kanada'da veya Çin'de eğitime dair pratikler farklılaşsa da eğitim sistemi kavramıyla ne demek istendiği bilinir. Fransız köylülerinin aile içi davranışları, Amerikan gettolarında oturan ailelerin davranışlarından farklı olsa da ailenin ne olduğu ana hatlarıyla bellidir.

Bu parçadan sosyologlarla ilgili aşağıdaki yargıların hangisine ulaşılabilir?

A) Kişisel düzeydeki davranışları geleneksel farklılıklara göre yorumlar.

B) Sosyal davranışları çözümleyerek toplumsal ilişkilerin oluşumunu inceler.

C) İnsanların özel ve farklı etkinlikleri üzerinden soyutlama ve genellemeler yapar.

D) Sosyal davranışı oluşturan bireysel unsurların toplumsal yapıya etkilerini araştırır.

E) Farklı kültürel verilerin yardımıyla ideal toplumsal davranışları tanımlar.

30. Sanayi öncesi toplumlarda ev ve çalışma hayatı iç içeydi. Üretim, zaten içinde yaşanılan çiftlik veya atölyelerde yapılıyordu. Ancak sanayileşmeyle birlikte büyük çaplı üretim alanları, fabrikalar ve ofisler yaygınlaştı; evde iş yapanların sayısı hızlı bir biçimde azaldı. Son dönemdeki teknolojik gelişmeler ise birçok iş alanının uzaktan yapılabilmesine olanak sağlayarak evden çalışma örneklerini yeniden çoğalttı. Covid-19 salgınının insanları evde kalmaya mecbur etmesi iş yaşamındaki bu dönüşümü hızlandırarak gelecekteki çalışma deneyimlerini de etkileyecek köklü değişimlere neden oldu.

Bu parçadan toplumsal değişimle ilgili aşağıdaki yargıların hangisine ulaşılabilir?

A) Toplumsal gelişmeyi sağlayan, toplumların sahip olduğu kültürel değerlerdir.

B) Toplumsal yaşam ile ekonomik koşullar arasında karşılıklı etkileşim vardır.

C) Teknolojik gelişmeler her toplumda mesleki farklılaşmalara neden olur.

D) Modernleşme sürecinde çalışma hayatı daha konforlu hâle gelmiştir.

E) Sanayileşme sonrasında toplumlar gelişimlerini teknolojik bilgiye dayandırmıştır.

31. Uzak coğrafyalarda farklı dinlere mensup, başka dilleri konuşan ve çok değişik yaşam biçimleri olan milyarlarca insan var. Yalnız başka ülkelerde değil, aynı şehirde hatta oturduğumuz apartmanda bile bizden farklı giyinen, konuşan ve bizimkinden farklı davranışlara sahip insanları görebiliriz. “Burada değil, orada doğmuş olsaydım.” diye düşünmek, bizim kendi kültürümüzü anlamlı ve değerli bulduğumuz ölçüde başkalarının da kendi kültürlerini anlamlı ve değerli bulduklarını fark etmemizi sağlar.

Bu parçadan aşağıdaki yargıların hangisine ulaşılabilir?

A) Başka kültürleri tanıma sürecinde kendi kültür ögelerini benimsemek doğaldır.

B) Çeşitli yaşam biçimleriyle empati kurmak, kültürel farklılıkları anlamayı kolaylaştırır.

C) Başka kültürleri değerlendirirken kültürün maddi ögelerine odaklanmak gerekir.

D) Nesnel bir bakış açısıyla kıyaslamak, kültürler hakkında hüküm vermeye yardımcıdır.

E) Farklı yaşam biçimlerine sahip bireyler, içinde yaşadıkları baskın kültüre uyum sağlar.

32. Aşağıdaki akıl yürütmelerden hangisi geçerli bir kıyas örneğidir?

A) Bazı insanlar mutludur. Bazı insanlar da neşelidir. O hâlde bazı insanlar hem neşeli hem mutludur.

B) Bazı meyveler tatlıdır. Bazı meyveler ekşidir. O hâlde hiçbir meyve acı değildir.

C) Hiçbir insan hayvan değildir. Hiçbir hayvan bitki değildir. O hâlde hiçbir insan bitki değildir.

D) Mantık dersi alanlar nitelikli düşünen insanlardır. Ali nitelikli düşünen bir insandır. O hâlde Ali, mantık dersi alandır.

E) Bazı çiçekler papatyadır. Bütün papatyalar beyazdır. O hâlde bazı çiçekler beyazdır.

33. J. L. Austin, dilin görevleriyle ilgili görüşlerini Söz Edimleri Teorisi'nde açıklar. Bu teoriye göre bazen bir şey söylemek, aynı zamanda bir şey yapmaktır. Örneğin, nikah salonunda gelin veya damat "Evet, bu kişiyi eş olarak kabul ediyorum." dediğinde hem bir şey söylüyor hem de evlenme işlemini gerçekleştiriyordur.

Bu parçada dilin görevlerinden hangileri vurgulanmaktadır?

A) Bildirme ve Eylemsel
B) Belirtme ve Törensel
C) Bildirme ve Yaptırma
D) Belirtme ve Eylemsel
E) Eylemsel ve Törensel

34. Birden fazla önermenin birbiriyle tutarlı olması, bu önermeleri birlikte doğru kılan ortak doğrulayıcı yorumun bulunmasıyla mümkündür.

Buna göre bir arada tutarsız olan,

I. Ali evdedir veya iş yerindedir.
II. Ali evde değildir.
III. Ali iş yerinde değildir.

önermelerinde aşağıdaki değişikliklerden hangisi yapılırsa önermeler birbirleri ile tutarlı hâle gelir?

A) I. önerme "Ali hem evdedir, hem iş yerindedir." olursa
B) I. önerme "Ali evde değildir ama iş yerindedir." olursa
C) II. önerme "Ali evdedir." olursa
D) II. ve III. önermeler yer değiştirilirse
E) III. önerme "Ali evde olmadığı için iş yerinde değildir." olursa

35-40. soruları Din Kültürü ve Ahlak Bilgisi dersini yasal olarak almak zorunda olanlar ve İmam Hatip Okulları öğrencileri/mezunları cevaplayacaktır.

35. Hicri II. ve III. yüzyıllar İslam hukuku gelişimi açısından önemli bir dönemdir. Abbasilerin hükümdarlığı dönemine denk gelen bu süreçte önemli âlimler yetişmiştir. Bunlardan biri ehli rey ve ehli hadisin birikimini özümsemiş ve ardından Mısır'da kendisine ait görüşleri açıklamıştır. Adına nispet edilen fıkhi mezhebi kuran bu âlim, İslam hukuk metodolojisinde ilk eser olarak kabul edilen *er-Risale* isimli kitabı yazmıştır. Ülkemizde de mensupları bulunan bu mezhep imamının görüşleri günümüzde de geçerliliğini korumaktadır.

Bu parçada anlatılan âlim aşağıdakilerden hangisidir?

A) Ebu Hanife
B) Şafii
C) Malik b. Enes
D) Ahmet b. Hanbel
E) Maturidi

36. Allah geçmişi, şimdiki zamanı ve geleceği açık ve gizli olan her şeyi bilir. İnsanın bilgisi bazı araçlara ve belli şartlara bağlı iken, Allah'ın bir şeyi bilmesi hiçbir şeye ihtiyaç duymadan gerçekleşir. Âlemdeki ahenk ve düzen O'nun sonsuz bilgisinin göstergesidir. Cehalet ise Allah için söz konusu değildir.

Bu parçada bahsedilen Allah'ın sıfatı aşağıdakilerden hangisidir?

A) Hayat
B) İlim
C) Semi
D) Basar
E) Tekvin

37. Teizm; tek bir Tanrı'nın varlığını, şuurlu ve iradeli bir varlık olduğunu kabul eder. Tanrı'nın âlemi var ettiğine, vahiy göndererek insanlarla iletişime geçtiğine, âleme ve insana daima müdahil olduğuna vurgu yapar. Başka bir ifadeyle teizm, Tanrı'nın mutlak kudret sahibi olduğuna, her şeyi bildiğine, gördüğüne, duyduğuna ve takdir ettiğine inanır. Nitekim teist düşünceye göre Tanrı, değerin kaynağı ve koruyucusudur; insanın kendisine ibadet ve itaat etmesini ister. Bunlar, teizmi diğer Tanrı anlayışlarından ayıran temel özelliklerdir.

Bu parçadan hareketle teizmle ilgili aşağıdakilerden hangisi söylenemez?

A) Tanrı yarattıklarını yeniden diriltip hesaba çekecektir.

B) Tanrı'nın âlemle ilişkisi her an devam etmektedir.

C) Tanrı, insanlara ne yapmaları gerektiğini bildirir.

D) Tanrı'nın yaratma sıfatını kabul etmektedir.

E) Tanrı, üstün niteliklere sahiptir.

38. Akif, babasının namaz kıldıktan sonra şu duayı yaptığını duyar: "Rahman ve Rahim olan Allah'ın adıyla! Rabbim beni, senin yoluna, dosdoğru yola ilet. Sana iman edip emirlerine uyan, yasaklarından ve sana karşı gelmekten sakınan kullarından eyle. İbadetlerimi riyadan uzak, sadece senin rızanı gözeterek yapmamı ve seni görüyormuş gibi yaşamayı nasip eyle."

Bu parçada verilen duadan aşağıdaki kavramlardan hangisi çıkarılamaz?

A) İhsan B) Sırat-ı müstakim

C) İnfak D) İhlas

E) Takva

39.

Kavram	Tanım
Farz	Yapılması kesin olarak emredilen; yerine getirilmesi sevaba, özürsüz olarak terki günaha, inkârı ise küfre sebep olan davranışlardır.
Sünnet	Hz. Muhammed'in söz, davranış ve onaylarıdır.
İcma	Yapılması dinen hoş karşılanmayan fakat kesin ve açık delillerle de yasaklanmayan eylemlerdir.
Mübah	Mükellefin yapıp yapmamakta özgür bırakıldığı fiillerdir.
Mekruh	Hz. Muhammed'in vefatından sonra herhangi bir asırda müçtehitlerin bir meselenin dinî hükmü üzerinde ittifak etmeleridir.

Yukarıda verilen kavram-tanım eşleştirmelerinin doğru olabilmesi için hangi kavramların birbiriyle yer değiştirmesi gerekir?

A) Farz ve icma B) Farz ve mübah

C) Sünnet ve mübah D) Sünnet ve mekruh

E) İcma ve mekruh

40. İslam dininin inanç esaslarını; ayet, hadis ve akıl ışığında açıklayan, yorumlayan, ispat eden ve başka din mensuplarından gelebilecek eleştirilere karşı savunan ilim dalı aşağıdakilerden hangisidir?

A) Tefsir B) Kelam C) Hadis

D) Tasavvuf E) Fıkıh

41-46. soruları Din Kültürü ve Ahlak Bilgisi dersini yasal olarak almak zorunda olmayan veya farklı müfredat ile alanlar cevaplayacaktır.

41. Descartes, *Felsefenin İlkeleri* adlı eserinde: "Gerçeği arayanın yaşamında bir kez tüm şeylerden gücü yettiği ölçüde kuşku duyması gerekir." ve "Bu nedenle kendilerinden kuşku duyulan tüm şeylere yanlış gözüyle bakmak da yararlı olur." der. Böylelikle o, en ufak bir kuşku içeren her şeyin yanlış kabul edildiği bir başlangıç noktası belirler. Bu, hiçbir konuda kesin ve doğru bilgi diye bir şeyin olmadığını öne süren İlk Çağ kuşkucularının yaklaşımından farklıdır.

Buna göre Descartes'ı İlk Çağ kuşkucularından ayıran özelliği aşağıdakilerden hangisidir?

A) Duyu deneyiminden kuşku duymuyor olması

B) Kuşkuyu doğru bilgiye ulaşmak için bir yöntem olarak kullanması

C) Gerçekliğin bilinemez olduğunu savunması

D) Tüm bilgi iddialarının yanlış olduğunu düşünmesi

E) Bilgi edinmede aklın tek başına yetersiz olduğunu öne sürmesi

42. "İnsanın sıkıntılı olduğu durumlarda zaman sanki duruyor, hiç geçmiyor." diyen Can'a, öğretmeni "Zaman her durumda aynıdır; anlar, saniyeler, dakikalar, saatlerden vb. oluşur. On dakika her durumda 'on dakika'dır." şeklinde yanıt verir. Buna karşılık Can "Ama bu dersteki on dakika benim için bir ömür gibi!" der.

Bu parçadaki öğretmen, zamanın her durumda aynı olduğunu savunarak Bergson'un felsefesindeki hangi görüşe karşı çıkmaktadır?

A) Yaşam ve zaman bir ilk atılımla başlar.

B) İnsan bilincinin dışındaki şeyler süre geçirmezler.

C) Bilim şeyleri mekâna göre, felsefe ise oluşum hâlindeki süreye göre kavrar.

D) Ölçülebilir zaman ile yaşanan zaman yani süre arasında ayrım yapmak zorunludur.

E) Mekânda süre yoktur, sadece zamandaşlıklar vardır.

43. Bir araştırmacı, televizyonda şiddet sahneleri izlemenin çocuklarda vurma, tekmeleme gibi saldırgan davranışları artırdığını düşünmektedir. Bu düşüncesini doğrulamak amacıyla tasarladığı deneyde araştırmacı, bir grup çocuğu bir deney odasına alır. Burada çocukların yarısı şiddet içerikli sahnelerin bulunduğu, diğer yarısı ise şiddet içerikli olmayan sahnelerin bulunduğu birer kısa film izler. Filmin ardından araştırmacı, her iki gruptaki çocukların deney odasında bulunan bir oyuncak bebeğe kaç kez vurduklarını gözlemler.

Bu araştırmada bağımlı değişken aşağıdakilerden hangisidir?

A) Çocuğun araştırmacıyla olan etkileşimi

B) Çocuğun deney odasında geçirdiği zaman

C) Çocuğun oyuncak bebeğe kaç kez vurduğu

D) Çocuğun sunulan filmi izleyip izlemediği

E) Çocuğun ne kadar süre televizyon izlediği

44. Suç ve sapma bütün toplumlarda kaçınılmaz olarak görülen sosyal gerçekliklerdir. Pek çok durumda birbiriyle örtüşseler de suç, kanunları ihlal edenleri tanımlamakla sınırlıdır. Sapma ise bir topluluk veya toplumdaki insanların çoğu tarafından kabul edilen yerleşik kurallara uymama olarak tanımlanabilir. Çocukluk dönemindeki sosyalleşmenin bir sonucu olarak sosyal kurallara genellikle uymamıza rağmen bazen genel kabul görmüş kuralları ihlal ederiz.

Bu parçadan toplumsal sapma ile ilgili aşağıdaki yargıların hangisine ulaşılabilir?

A) Sıra dışı değerleri içselleştirmekle ilgilidir.

B) Sağlıklı sosyalleşememiş bireyin edimidir.

C) Suç kavramına göre çok daha kapsayıcıdır.

D) Yetersiz toplumsal denetimin bir sonucudur.

E) Suç oranının yüksek olduğu gruplarda işlevsizdir.

45. Bazı kavramlara örnek oluşturabilecek durumlar şu şekildedir:

- Bir banka müdürünün eğitim amacıyla uzun süre yurt dışına çıkması
- Bir öğretmenin doktorasını tamamlayıp üniversitede öğretim üyesi olması
- Sanayileşmeyle birlikte şehirde yaşayan nüfusun artması
- Yeni uzmanlık alanlarının ortaya çıkmasıyla birlikte orta sınıfın güç kazanması

Bu parçada aşağıdaki kavramların hangisine örnek verilmemiştir?

A) Toplumsal tabakalaşma
B) Kentleşme
C) Dikey hareketlilik
D) Yatay hareketlilik
E) Toplumsal bütünleşme

46. Elçin ile Yalçın çeşitli yönlerden birbirine benzemektedir: İkisi de solak ve resim yapmaya yeteneklidir. Elçin'in bir özelliği daha vardır: Renkler içinde en çok kırmızıyı sevmektedir. O hâlde Yalçın da kırmızıyı sevmektedir.

Bu parçada kullanılan akıl yürütme yöntemi aşağıdakilerden hangisidir?

A) Tümevarım
B) Tümdengelim
C) Analoji
D) Kıyas
E) Karşı olum

SOSYAL BİLİMLER-2 TESTİ BİTTİ.
MATEMATİK TESTİNE GEÇİNİZ.

2021 ALAN YETERLİLİK TESTLERİ (AYT)

YKS 2. OTURUM ALAN YETERLİLİK TESTLERİ (AYT)

27-06-2021

SOSYAL BİLİMLER-2 TESTİ

1. A
2. D
3. E
4. C
5. E
6. D
7. A
8. A
9. D
10. D
11. C
12. E
13. A
14. C
15. A
16. B
17. E
18. E
19. B
20. D
21. D
22. E
23. B
24. A
25. D
26. E
27. D
28. D
29. C
30. B
31. B
32. E
33. A
34. C
35. B
36. B
37. A
38. C
39. E
40. B
41. B
42. D
43. C
44. C
45. E
46. C

1. Bu testte sırasıyla, Tarih-2 (1-11), Coğrafya-2 (12-22), Felsefe Grubu (23-34), Din Kültürü ve Ahlak Bilgisi (35-40), Din Kültürü ve Ahlak Bilgisi dersini yasal olarak almak zorunda olmayan veya farklı müfredat ile alanlar için Felsefe Grubu (41-46) alanlarına ait toplam 46 soru vardır.

2. Cevaplarınızı, cevap kâğıdının Sosyal Bilimler-2 Testi için ayrılan kısmına işaretleyiniz.

1. Mısır'da bulunan ve Rosetta Taşı adı verilen bir kitabede aynı metin; Grek alfabesi, demotik yazı ve hiyeroglif olarak yazılmıştır. Taşın üç farklı yazı tipi ile yazılması o güne kadar okunamayan hiyerogliflerin sırrının çözülmesini sağlamıştır.

Buna göre hiyerogliflerin çözümlenmesinde kullanılan tarihe yardımcı bilim dalı aşağıdakilerden hangisidir?

A) Heraldik B) Etnografya C) Nümizmatik

D) Kronoloji E) Paleografya

2. Bögü Kağan'dan (759-779) sonra başa geçen Uygur kağanlarının çoğu, Göktürk hükümdarlarının unvanlarında yer alan "Gök Tengride kut bulmuş" ibaresi yerine, "Ay Tengride kut bulmuş" ibaresini kullanmışlardır.

Uygur kağanlarının unvanlarında "Ay Tengride kut bulmuş**" ibaresinin kullanılmasının nedeni aşağıdaki inançlardan hangisiyle ilgilidir?**

A) Maniheizm B) Şamanizm C) Hristiyanlık

D) İslamiyet E) Zerdüştlük

3. Selçuklu veziri Nizamülmülk, ikta dağıtımı yaparken askerlere ülkenin farklı yerlerinden vergi gelirleri tahsis ederdi. Örneğin bir ikta sahibine gelirinin yarısını Rum bölgesinden diğer yarısını ise Horasan bölgesinden aktarırdı.

Nizamülmülk'ün iktaları hisseler hâlinde dağıtmasının amacı aşağıdakilerden hangisidir?

A) Merkezî otoriteyi güçlendirmek

B) Yeni bölgelerin fethini kolaylaştırmak

C) Gayrimüslimleri vergiden muaf tutmak

D) Para ekonomisini geliştirmek

E) Yaya ordusuna asker toplamak

4. Osmanlı Devleti'nde Fetret Devri'nin yaşanmasına sebep olan savaş, aşağıdakilerden hangisidir?

A) Varna B) Kosova C) Ankara

D) Niğbolu E) Mohaç

5. Klasik Dönem'de Osmanlı padişahının ferman ve berat gibi emirnameleri üzerine tuğra çeken Divan görevlisi aşağıdakilerden hangisidir?

A) Kazasker B) Nişancı C) Defterdar

D) Reisülküttap E) Kaptanıderya

6. Osmanlı Devleti'nin Kutsal İttifak'a karşı on altı yıl süren savaşını sona erdiren Karlofça Antlaşması'ndan sonra XVIII. yüzyılın başında Ruslarla imzaladığı ve Rus Çarlığı'nın Azak'ı ele geçirerek Karadeniz'e ulaşmasını sağlayan antlaşma aşağıdakilerden hangisidir?

A) İstanbul Antlaşması

B) Prut Antlaşması

C) Pasarofça Antlaşması

D) Küçük Kaynarca Antlaşması

E) Yaş Antlaşması

7. Timar sisteminin;

I. tarım üretiminde istikrarın gözetilmesi,

II. dirlik alanlarında güvenliğin sağlanması,

III. taşrada nüfuzlu ailelerin desteklenmesi

hedeflerinden hangilerine yönelik olduğu savunulabilir?

A) Yalnız I B) Yalnız II C) Yalnız III

D) I ve II E) I, II ve III

8. 16 Mart 1921 tarihinde TBMM Hükûmeti ile Sovyet Rusya arasında imzalanan Moskova Antlaşması'yla ilgili aşağıdakilerden hangisi söylenebilir?

A) Sovyet Rusya'nın Anadolu'ya asker göndermesi kabul edilmiştir.

B) Sovyet Rusya'nın Misakımillî'yi tanıması gerçekleşmiştir.

C) Sakarya zaferi sonrasındaki görüşmeler sonucunda imzalanmıştır.

D) Antlaşma sonrasında Ali Fuat Paşa Moskova'ya elçi olarak gönderilmiştir.

E) TBMM Hükûmeti adına antlaşmayı Rauf Bey imzalamıştır.

9. Mustafa Kemal Paşa Başkomutan sıfatıyla "Hattı müdafaa yoktur, sathı müdafaa vardır. O satıh bütün vatandır. Vatanın her karış toprağı vatandaşın kanıyla sulanmadıkça terk olunamaz." **şeklindeki ifadeyi aşağıdaki savaşlardan hangisinde kullanmıştır?**

A) Büyük Taarruz B) Sakarya

C) Kütahya - Eskişehir D) Birinci İnönü

E) İkinci İnönü

10. 1921 Anayasası'nın bazı maddeleri aşağıda verilmiştir:

- Hâkimiyet kayıtsız şartsız milletindir. Yönetim şekli, halkın mukadderatını bizzat ve fiilî olarak yönetmesi ilkesine dayanır.
- Yürütme kudreti ve yasama yetkisi, milletin tek ve gerçek temsilcisi olan Büyük Millet Meclisinde belirir ve toplanır.
- Türkiye Devleti, Büyük Millet Meclisi tarafından idare olunur ve hükûmeti "Türkiye Büyük Millet Meclisi Hükûmeti" adını taşır.

Bu maddelere göre 1921 Anayasası ile ilgili aşağıdakilerden hangisi <u>söylenemez</u>?

A) Cumhuriyet rejimine geçişte önemli bir aşamadır.

B) Güçler ayrılığını esas almaktadır.

C) İstanbul Hükûmetini yok saymaktadır.

D) Meclis Hükûmeti sistemini öngörmektedir.

E) Ulusal egemenlik kavramına dayanmaktadır.

11. Aşağıdakilerden hangisi savaşa fiilen girilmemesine rağmen İkinci Dünya Savaşı'nın Türk ekonomisini olumsuz etkilemesinin nedenlerinden biri <u>değildir</u>?

A) Yaklaşık bir milyon kişinin silahaltına alınması

B) Yeni sanayi işletmelerinin açılmasının ertelenmesi

C) Uluslararası ticaretin yavaşlaması

D) Tarımsal üretimin azalması

E) Yabancı devletlerin ambargo uygulaması

12. Bir ekosistemde canlıların yaşamı için gerekli döngülerden biri de karbon döngüsüdür. Atmosfer, su ve yer kabuğu gibi farklı ortamlardaki karbon çeşitli olaylar sonucu bir ortamdan diğerine geçebilmektedir.

Bu döngü sırasında karbonun açığa çıkması;

I. fosil yakıtların yanması,

II. kireç taşının ayrışması,

III. bitkilerin fotosentez yapması

olaylarından hangileri sonucu gerçekleşir?

A) Yalnız I B) Yalnız II C) Yalnız III

D) I ve II E) II ve III

13. Kurak ve yarı kurak alanlarda, iklim değişiklikleri ve insan faaliyetlerinin etkisiyle toprakta ve ekolojik şartlarda bozulmalar oluşabilir. Arazinin niteliğindeki bu tür bozulmaların son aşaması ise çölleşme olarak adlandırılır. Çölleşme sonucunda ekolojik ve ekonomik yapıda çeşitli kayıplar meydana gelir.

Bu arazilerde aşağıdaki uygulamalardan hangisinin yapılması, çölleşmeye karşı alınacak bir önlem olarak <u>gösterilemez</u>?

A) Çayır ve meraların ıslah edilmesi

B) Yer altı suyu kullanımının kontrol altına alınması

C) Sazlık ve bataklık alanların kurutulması

D) Çölleşmenin zararlarına dönük eğitim çalışmaları yapılması

E) Bölgenin iklimine uygun tarım ürünlerinin yetiştirilmesi

14. Bazı tarımsal ürünlerin çabuk bozulabilecek nitelikte olması bu ürünlerin pazara hızlıca sevk edilmesini gerektirmektedir. Ancak günümüzde bozulabilir nitelikteki bu ürünlerin daha uzak pazarlara götürülebildiği, sözü edilen ürünlerin pazarlanmasında pazara yakın olma zorunluluğunun yer yer ortadan kalktığı görülmektedir.

Bu ürünlerin günümüzde uzak pazarlara taşınabilmesinde;

I. tüketim alışkanlıklarının değişmesi,

II. tarımsal üretimin giderek artması,

III. soğutmalı ulaşım araçlarının yaygınlaşması,

IV. paketleme sistemlerinin gelişmesi

faktörlerinden hangileri <u>daha fazla</u> etkili olmuştur?

A) I ve II B) I ve III C) II ve III

D) II ve IV E) III ve IV

15. Uluslararası ticaret, borsa, bankacılık gibi ekonomik faaliyetlerin yoğun olarak yapıldığı şehirler aynı zamanda küresel etkiye de sahiptir.

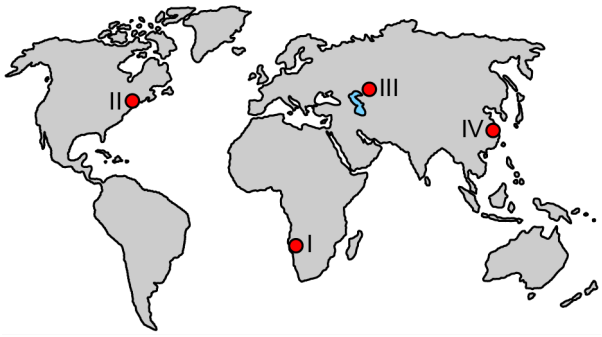

Haritada numaralandırılarak gösterilen yerlerden hangilerinde bu niteliklere sahip bir şehir bulunur?

A) I ve II B) I ve III C) II ve III

D) II ve IV E) III ve IV

16. I. Kara yolu yapımında engebeli alanlarda tünellerin inşa edilmesi

II. Sis, yoğun kar yağışı ve çığ gibi nedenlerle ulaşımın kesintiye uğraması

III. Teknolojik gelişmelerin ulaşım hizmetlerinin süresini kısaltması

Yukarıdakilerden hangileri doğal faktörlerin ulaşım üzerindeki etkilerine örnek gösterilebilir?

A) Yalnız I B) Yalnız II C) Yalnız III

D) I ve II E) II ve III

17. I. Kış turizmi potansiyelinin artması

II. Tarımsal ürün çeşitliliğinin ve verimin artması

III. Organize Sanayi Bölgesi sayısının artması

Yukarıdakilerden hangileri Güneydoğu Anadolu Projesi'nin, bölgenin ekonomik kalkınması üzerindeki etkilerine örnek gösterilebilir?

A) Yalnız I B) Yalnız II C) Yalnız III

D) I ve II E) II ve III

18. Dünyanın en eski kültürlerinden biri olan Türk kültürü, ilk olarak Orta Asya'da şekillenmiş olup göçebe yaşam tarzı ve hayvancılık faaliyetleri bu kültürün önemli ögeleri olarak ön plana çıkmıştır.

Bu iki ögenin ön plana çıkmasında aşağıdakilerden hangisi <u>daha fazla</u> etkili olmuştur?

A) Coğrafi özellikler

B) İpek yolu

C) Dini inanış

D) Sosyal yapı

E) Diğer kültürlere olan yakınlık

19. Dünyadaki ham madde, üretim ve pazar alanlarının özellikleriyle ilgili, öğrenciler arasında şu konuşmalar yaşanmıştır:

Özge: Kömür, petrol, doğal gaz gibi kaynakların çıkarıldığı alanlar, enerji kaynağı üretim bölgelerindendir.

Ali: Gelişmiş ülkeler, sanayi ürünleri bakımından hem üretim hem de pazar alanı durumundadır.

Büşra: Tarımsal ham madde üretiminin tamamı gelişmekte olan ülkeler tarafından karşılanır.

Tuna: Bir bölgenin pazar alanı olarak nitelendirilebilmesi için yer altı kaynaklarının zengin olması gerekir.

Bu öğrencilerin hangileri doğru yorum yapmıştır?

A) Özge ve Ali B) Özge ve Büşra

C) Ali ve Büşra D) Ali ve Tuna

E) Büşra ve Tuna

20. Gemilerin geçişi için insanlar tarafından oluşturulan su yolları, yeni ulaşım güzergâhlarının ortaya çıkmasını sağlamıştır. Bu durum, bazı eski ulaşım güzergâhlarının öneminin azalmasına neden olmuştur.

Buna göre Panama Kanalı açıldıktan sonra aşağıdaki su yollarından hangisinin önemi azalmıştır?

A) Malakka Boğazı B) Cebelitarık Boğazı

C) Macellan Boğazı D) Hürmüz Boğazı

E) Dover Boğazı

21. Dünya genelinde yaşanmakta olan deniz seviyesindeki yükselmeler, kıyı şeritleri ile okyanuslardaki yükseltisi az olan birçok adanın su altında kalma riskini beraberinde getirmiştir. Ayrıca kıyılardaki sulak alanların tuzlu su altında kalması, kıyı erozyonunun artması ve deniz suyunun tatlı yer altı sularına karışarak bu suların tuzlanmasına yol açması kıyı bölgelerinde yaşanabilecek sorunlar arasında bulunur.

Bu durumun ortaya çıkmasında aşağıdakilerden hangisi doğrudan etkilidir?

A) Aşırı yağışlar

B) Hava kirliliği

C) Buzulların erimesi

D) Ormanların tahrip edilmesi

E) Fosil yakıtların tüketimi

22. Hızlı sanayileşme ve kentleşme doğal kaynaklar üzerindeki baskıyı büyük oranda artırır. Bu durum özellikle büyük nüfuslu kent merkezleri ile yakın çevresinde daha belirgindir.

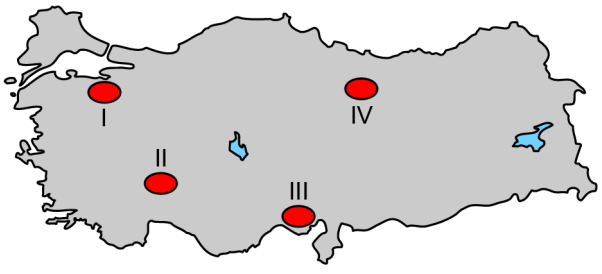

Buna göre haritada numaralandırılan alanların hangilerinde doğal kaynaklar üzerindeki bu baskının <u>daha fazla</u> olması beklenir?

A) I ve II B) I ve III C) II ve III

D) II ve IV E) III ve IV

23. Bilgi ve enformasyon kavramları genellikle eş anlamlı olarak kullanılsa da bu kullanım oldukça yanıltıcıdır. Enformasyon, insan bilgisine temel oluşturan bilişsel bir ham maddeye işaret ederken bilgi ise "bilmek" fiilinin işaret ettiği üzere bir eylemin ürünü olan zihinsel bir durumdur. Örneğin herhangi bir konu hakkında kitaplardan, *İnternet*'ten veya kişilerden enformasyon parçaları elde edebiliriz ama bunların gerçekliğin taşıyıcısı olup olmadığını veya başka enformasyonlarla nasıl ilişkilendirilebileceği türünden soruları yanıtlamadan, yani kişi çoklu bir zihinsel işleyiş sürecinin aktif öznesi olmadan, bu enformasyonlara bilgi diyemeyiz.

Bu parçadan aşağıdaki yargıların hangisine ulaşılabilir?

A) Enformasyon pratik, bilgi ise kuramsal bir etkinliktir.

B) Doğruluk değerine sahip enformasyon, bilgi olarak adlandırılır.

C) Enformasyon kanallarının zenginliği bilginin güvenilirliğini belirler.

D) Bilgi sahibi olmadan enformasyon sahibi olmak mümkündür.

E) Enformasyon, karmaşık zihinsel işleyişlerle ortaya çıkar.

24. Felsefenin gelişiminde onu çok farklı şekillerde algılayan ve kullanan birçok medeniyetin katkısı olmuştur. Kuşkusuz bunlar arasında en büyük pay Antik Yunan medeniyetine aittir. Diğer medeniyetlerde genellikle felsefe, halkın dinî gereksinimlerini besleyen ve zaman zaman da pratik bilgiler sağlayan bir özelliğe sahip olmuştur. Antik Yunan'da ise akıl yoluyla elde edilmiş, temellendirilmiş bilgiler bir birlik içinde derlenip sistemleştirilmiştir. Bu anlamda onlar, doğruya ve bilgiye sadece doğrunun ve bilginin kendisi için yönelerek bilinen felsefenin temellerini atmışlardır.

Bu parçadan aşağıdaki yargıların hangisine ulaşılabilir?

A) Felsefe, rasyonel ve sistematik olduğunda felsefe olmuştur.

B) Felsefe pratik amaçlarla kullanılmamalıdır.

C) Yunan felsefesi diğer kültürlerden etkilenmiştir.

D) Bilimin gelişmesiyle din yerini felsefeye bırakmıştır.

E) Felsefe, dinin ve bilimin etkisinden kurtulduğunda gelişme göstermiştir.

25. Nicolai Hartmann, modern felsefeyle başlayan özne merkezli varlık anlayışına karşı çıkarak "yeni ontoloji" adını verdiği öğretisini ortaya koyar. Ona göre insanın kendisini dünyanın merkezine koyarak varlıklara yaklaştığı eski ontolojilerin en büyük yanılgısı, varlığa dolayımlı bakarak var olanların nesnelliğini gözden kaçırmalarıdır. Hartmann; insana dünyanın merkezi değil, yalnızca bir parçası olarak yaklaşıldığında nesnelerin varlığının insana bağlı olmadığının anlaşılacağını ileri sürer. O, sadece bu yolla varlığa ve bilgiye dair çözülemez görünen sorunların üstesinden gelinebileceği düşüncesindedir.

Bu parçadan aşağıdaki yargıların hangisine ulaşılabilir?

A) Metafizik problemlerle uğraşmaktan vazgeçmek gerekir.

B) Varlık ve bilgi sorunlarına aynı perspektiften yaklaşılmamalıdır.

C) Var olanların doğasına yönelik bir incelemede zihin esas alınmalıdır.

D) Varlığın bilgisine, düşünülen nesneden yola çıkarak ulaşılabilir.

E) Dünyaya yönelimimiz daima subjektif olmak zorundadır.

26. Uluslararası bir şirkette psikolog olarak çalışan Cansu, belirli aralıklarla çalışanların performans kayıtlarını inceler ve çalışma koşullarıyla ilgili bireysel görüşmeler yapar. Yaptığı görüşmelerden elde ettiği bilgiler ışığında çalışma koşullarında yapılabilecek değişiklikler hakkında yönetime görüş bildirir. Cansu'nun görevi, şirket çalışanlarının performansını ve iş memnuniyetini artırarak şirketin gelirini artırmaktır.

Cansu, psikolojinin aşağıdaki alt dallarının hangisinde uzmanlaşmıştır?

A) Sağlık

B) Endüstri ve örgüt

C) Klinik

D) Gelişim

E) Bilişsel

27. Algı, büyük oranda algılayanın kendisinden kaynaklanan özelliklerden etkilenir. Algılayan kişinin kişilik özellikleri, içinde bulunduğu ortam/çevre, tutumları, deneyimleri ve ihtiyaçları/güdüleri uyaranları nasıl algılayacağını etkiler.

Aşağıdakilerin hangisinde algıyı etkileyen faktöre doğru örnek <u>verilmemiştir</u>?

A) Kişilik özellikleri - Kaygılı bir yapıya sahip birinin bütün yüksek sesleri tehlike olarak algılaması

B) Ortam/Çevre - Beyaz önlüklü birinin hastanede doktor, okulda öğretmen olarak algılanması

C) Tutumlar - İneğin Hindistan'da kutsal kabul edilirken diğer ülkelerde herhangi bir hayvan olarak algılanması

D) Deneyimler - Yetişkinlerin verdiği sözleri çoğu zaman yerine getirmediğini gören bir çocuğun yetişkinleri güvenilmez olarak algılaması

E) İhtiyaçlar/Güdüler - Bir insanın karnı açken önünden geçtiği fırından gelen ekmek kokusunu alırken karnı tokken bu kokuyu fark etmemesi

28. Ömer, bir arkadaşının kendisiyle ilgili herkesin içinde yaptığı eleştirel yorumdan çok rahatsız olmuş ve arkadaşına öfkelenmiştir. Ömer, önce arkadaşına fiziksel saldırıda bulunarak öfkesini göstermek istemiş olsa da diğer arkadaşlarının tepkisinden çekindiği için kendini kontrol etmiştir. Bu arkadaşına saldırmak yerine ona tepkisini alaycı bir fıkra anlatarak göstermiş, hem onun kabalığına fiziksel saldırıya kıyasla daha uygun bir şekilde cevap vermiş hem de anlattığı fıkrayla diğer arkadaşlarının beğenisini kazanmıştır.

Psikanalitik kurama göre Ömer'in öfkesini daha uygun bir şekilde ifade etmesini sağlayan kişilik yapısı aşağıdakilerden hangisidir?

A) Ego B) İd C) Bilinç öncesi

D) Süperego E) Bilinçaltı

29. "Ne yapmam gerekir?" sorusu, "Kendimi hangi hikâye ya da hikâyelerin bir parçası olarak görüyorum?" sorusunun cevabına bağlıdır. Yani topluma, bize verilmiş karakterle ve bize biçilmiş rollerle katılırız. Birinin oğlu veya kızıyım, bir başkasının yeğeni veya amcası, bu veya şu şehrin yurttaşıyım, bir kabileye veya ulusa aitim. Buna göre benim için iyi olan, bu rolleri taşıyan için de iyi olmak zorundadır. Böyle biri olarak ailemin, şehrimin, kabilemin ve ulusumun geçmişinden çeşitli borçluluklar, meşru beklentiler ve yükümlülükler alırım.

Bu parçada aşağıdaki sorulardan hangisine cevap aranmaktadır?

A) Bizi biz yapan karakterimiz mi, yoksa bireysel kararlarımız mı?

B) Davranışları doğru yapan mutlak olana uygunluk mudur?

C) Topluma uygun olmayan davranışlar ne zaman bir yaptırım gerektirir?

D) Sosyalleşme belli kalıplara göre mi gerçekleşir?

E) Davranışlarımızın temelinde aslında ne vardır?

30. Bugün, geçmişle kıyaslandığında çok daha kapsamlı ve yıkıcı olabilen ve her birimizin karşılaşma olasılığı son derece yüksek risklerle dolu bir dünyada yaşıyoruz. Söz konusu risklerin önemli bir bölümü, insanoğlunun modernleşme çabasının ya da kapitalist sistemde daha çok kâr elde etme hırsının bir sonucu olarak karşımıza çıkmaktadır. Modernleşmeyle birlikte ortaya çıkan teknolojik araçlar, her geçen gün doğanın daha fazla kirlenmesine neden olmaktadır. İklim değişiklikleri ve küresel ısınmanın bizi hangi tehlikelerle yüz yüze bırakacağı konusunda belirgin bir tahminimiz de bulunmamaktadır.

Bu parçada modernleşmenin ortaya çıkardığı olumsuzluklardan hangisine <u>değinilmemiştir</u>?

A) Modern yaşam koşulları, insanlığı tehdit eden yeni riskler doğurmuştur.

B) Modernlik, gelecekteki olası tehlikelere ilişkin belirsizliklerin kaynağıdır.

C) Modernleşmenin sonuçlarından birisi de insanoğlunun doğal çevreye müdahalesidir.

D) Modernleşme, insanoğlunun doğal yaşam alanlarından uzaklaşmasına neden olmuştur.

E) Modern kapitalist sistemde sınırsız kazanç peşinde koşma büyük riskler yaratmaktadır.

31. Geleneksel toplumlarda bireyin toplumsal konumunu belirleyen en temel unsur ailedir. Ancak modern toplumlarda toplumsal konum sadece aileden devralınmaz. Ailenin içinde bulunduğu sosyal çevre ile toplumsal sınıf, bireyin toplumsallaşma kalıplarını etkiler. Çocuklar, anne babalarının yanı sıra yaşadıkları mahalle veya topluluk içindeki kişilerin de davranış biçimlerinden etkilenirler.

Bu parçada aşağıdakilerden hangisine vurgu yapılmaktadır?

A) Toplumsal bir kurum olarak aile, her toplumda aynı işleve sahiptir.

B) Ailenin toplumsal konumu, içinde bulunduğu sosyal çevreyle ilgilidir.

C) Toplumsal tabakalaşma ve eşitsizliklerin temelini, aile kurumu oluşturmaktadır.

D) Modernleşmeyle birlikte ailenin sosyalleşme sürecine etkisi azalır.

E) Modern toplumlarda aile ilişkileri geleneksel toplumlara göre daha yoğundur.

32. Mantıkta çeşitli akıl yürütme biçimleri vardır. Bu biçimlerin her birinin uygulanma alanları bulunmaktadır. Söz gelimi birden çok örneği ya da bileşeni bulunan bir olay veya olgu hakkında genel bir yargıya varabilmek için yeterli miktarda verinin ortaya konulması gerekir. Tümevarım olarak da adlandırılan bu akıl yürütme, eksik ve tam tümevarım olarak ikiye ayrılmaktadır.

Aşağıdakilerden hangisi eksik tümevarıma örnek olabilecek bir akıl yürütmedir?

A) Üç öğrencisi olan bir sınıfta her bir öğrencinin sarışın olmasından yola çıkarak sınıftaki bütün öğrencilerin sarışın olduğu sonucuna ulaşmak

B) Haftanın günlerini saydıktan sonra her hafta yedi gündür sonucuna varmak

C) O güne kadar görülen kurtların gri renkte olmasından kurtların hepsinin renginin gri olduğu yargısına ulaşmak

D) Yılın 12 ayını tek tek gözlemledikten sonra herhangi bir ayın 28, 29, 30 ya da 31 günden oluştuğu çıkarımını yapmak

E) Dört kişilik bir ailede baba, anne ve iki çocuğun tiyatro sevmesinden yola çıkarak ailenin tiyatro sevdiği yargısına ulaşmak

33. Aşağıdakilerden hangisi önerme <u>değildir</u>?

A) Güneş Dünya'yı ısıtır.

B) Keşke hava hep güneşli olsa.

C) Güneş güneyden doğar.

D) Bugün hava güneşlidir.

E) Güneş ışınları Dünya'ya 8 dakikada ulaşır.

34. I. Bir önerme, doğru ve yanlış dışında başka bir değer daha alabilir.

II. Bütün tümel önermeler geçersizdir.

III. Geçerlilik denetimi yapılamaz.

IV. Bir önermenin doğruluk değeri, olasılık olarak ifade edilebilir.

Yukarıdaki ifadelerden hangileri çok değerli mantığın özelliklerindendir?

A) I ve II B) I ve III C) I ve IV

D) II ve III E) II ve IV

35 - 40. soruları Din Kültürü ve Ahlak Bilgisi dersini yasal olarak almak zorunda olanlar ve İmam Hatip Okulları öğrencileri/mezunları cevaplayacaktır.

35. I. Felsefi yönden hiçbir gerçek kabul etmeyen, sosyal yönden de toplumsal düzeni benimsemeyen, hayatın anlamını boşluk ve hiçlik üzerine kuran

II. Tanrı hakkında kesin bilgi elde etmenin mümkün olmadığını dolayısıyla bilinemeyeceğini savunan

III. Tanrının yaratıcı olduğunu kabul etmekle birlikte evrene müdahale etmediğini iddia eden

Bu felsefi yaklaşımları benimseyen inanç sistemlerinin doğru sıralaması aşağıdakilerden hangisidir?

A) Nihilizm - ateizm - deizm

B) Deizm - agnostisizm - teizm

C) Nihilizm - agnostisizm - deizm

D) Deizm - materyalizm - agnostisizm

E) Nihilizm - materyalizm - teizm

36. Hristiyanlık inancında Baba, Oğul ve Kutsal Ruh'tan meydana gelen üçlü bir anlayış mevcuttur. Baba, mutlak güç sahibi olan tanrıdır. Oğul, tanrının oğlu olarak kabul edilen Hz. İsa'dır. Kutsal Ruh ise ruhları idare eden tanrı gücüdür. Bu üç unsurdan Baba yaratıcı, Oğul kurtarıcı, Kutsal Ruh ise tasdik edicidir. Hristiyanlar bu inancı şöyle ifade eder: Baba'dan (ve Oğul'dan) gelen, yaşam veren Rabb'e, Kutsal Ruh'a iman ediyoruz. Baba ve Oğul'la birlikte ona da tapınıp onu yüceltiyoruz.

Bu parçada anlatılan inanç aşağıdakilerden hangisidir?

A) Vaftiz B) Paskalya C) Evharistiya

D) Teslis E) Konfirmasyon

37. "... Dünya hayatı, gökten indirdiğimiz bir su gibidir ki, bu su sayesinde yeryüzünün bitkisi (önce gelişip) birbirine karışmış, arkasından rüzgârın savurduğu çer çöp hâline gelmiştir ..." (Kehf, 18:45)

Bu ayette aşağıdakilerden hangisi vurgulanmaktadır?

A) Dünyanın geçiciliği

B) Allah'ın rahmetinin genişliği

C) Dünya ve ahiret dengesi

D) Dünyanın ahirete açılan bir kapı olduğu

E) İnsanın nankörlüğü

38. İslam dininde, özellikle çaba göstererek elde edilen kazancın değerli olduğunu ve hiç kimsenin çabasının zayi edilmemesi gerektiğini belirten birçok ayet ve hadis bulunmaktadır.

Aşağıdakilerden hangisi bunlara örnek <u>verilemez</u>?

A) "Bilsin ki insan için kendi çalışmasından başka bir şey yoktur. Şüphesiz onun çalışması ileride görülecektir. Sonra çalışmasının karşılığı kendisine tastamam verilecektir." (Necm, 53:39-41)

B) "Kişi kendi elinin emeğinden daha temiz bir kazanç elde etmemiştir." (Hadis-i şerif)

C) "Çalışana emeğinin karşılığını alın teri kurumadan veriniz." (Hadis-i şerif)

D) "Ücretle bir kişiyi çalıştırıp da onun ücretini ödemeyen kimsenin kıyamet gününde düşmanıyım." (Hadis-i şerif)

E) "Yalnız zenginler arasında dolaşan bir servet ve güç olmaması için Allah'ın savaşılmaksızın peygamberine kazandırdığı mallar; ... yetimlere, yoksullara ve yolda kalmışlara aittir." (Haşr, 59:7)

39. Rasathanelerle ilgili aşağıdakilerden hangisi yanlıştır?

A) Medreselerin ayrılmaz bir parçası kabul edilmiştir.

B) Sistemli hâle gelmesinde ve süreklilik kazanmasında Müslümanlar önemli rol oynamıştır.

C) Modern astronomi ve matematiğin gelişmesine önemli katkıları olmuştur.

D) İnşa edilmeleri ve gelişmelerinde yöneticilerin bilime verdiği desteğin etkisi olmuştur.

E) Dinî ve bilimsel gerekçelerle inşa edilmiştir.

40. Mahallesindeki camide bulunan kitaplığı inceleyen bir kişi burada sırasıyla şu eserlerin bulunduğunu gözlemlemiştir: Ayetlerin açıklamaları ve yorumlarının yer aldığı Elmalılı Hamdi Yazır'ın *Hak Dini Kuran Dili* adlı eseri, Hz. Muhammed'in sözlerinin bulunduğu Buhari'nin *Sahih*'ini, ağırlıklı olarak ibadet ve sosyal hayatla ilgili konuların bulunduğu Diyanet İşleri Başkanlığı tarafından hazırlanan *İslam İlmihal*'ini ve inanç konularının tartışıldığı Maturidi'nin *Kitabu't-Tevhid*'ini görmüştür.

Bu kitaplıkta aşağıdaki İslami ilimlerin hangisiyle ilgili bir eser bulunmamaktadır?

A) Hadis B) Tasavvuf C) Fıkıh

D) Kelam E) Tefsir

41 - 46. soruları Din Kültürü ve Ahlak Bilgisi dersini yasal olarak almak zorunda olmayan veya farklı müfredat ile alanlar cevaplayacaktır.

41. Hemen hemen herkesin felsefi problemler üzerine düşündüğü zamanlar olmuştur. Zihnimizin bedenimiz olmadan var olup olmayacağını veya yaşadığımız her şeyin bir rüya olup olmadığını kim merak etmemiştir? Felsefi sorular son derece ilginçtir ancak hiç de kolay değildir. Onları, daha önce aynı sorunları ele almış başka insanların görüşlerinden faydalanmadan sadece kendi kendimize düşünmeye çalışmak yıldırıcı bir uğraştır. Bu biraz başka dağcıların deneyimlerinden yararlanmadan ve herhangi bir ekipman kullanmadan düz bir kayaya tırmanmak gibidir. Böyle bir girişimde yerden birkaç metre sonra bu kayaya "yapışıp kalma" ihtimalimiz hayli fazladır.

Bu parçada felsefi düşüncenin hangi özellikleri üzerinde durulmaktadır?

A) Refleksif olma - Evrensel olma

B) Sorgulayıcı olma - Yığılımlı olma

C) Sistemli olma - Tutarlı olma

D) Evrensel olma - Sistemli olma

E) Eleştirel olma - Rasyonel olma

42. Hümanizm; yazgısını kendisi dışında hiçbir güce emanet etmemesi gereken insanın, “insana yaraşır bir yaşam”a ancak kendi çabasıyla, kendi aklıyla ulaşabileceğini savunan görüş olarak betimlenebilir. Her şeyden önce, hümanizm salt bir düşünce okulu değildir; daha çok, salt insan olmayı bir “değer” olarak başköşeye yerleştiren bir dünya görüşüdür. Buna göre tüm yapıp etmelerde insanın söz konusu değeri her zaman göz önünde tutulmalıdır. Bu değerin göz ardı edilmesi insanın karşılaştığı pek çok entelektüel sorunun kökenini oluşturmaktadır.

Buna göre aşağıdakilerden hangisi Hümanizm düşüncesiyle çelişen bir yargıdır?

A) Felsefi ve bilimsel problemler, köken ve sonuçları açısından insana verilen değerle ilgilidir.

B) Gerçekliğe dair tüm çıkarımlarımızın kaynağı, insan deneyimi ve aklıdır.

C) İnsan haklarının evrenselliği ve insanlar arası eşitlik, akıl ile temellendirilebilir.

D) İnsan yaşamının değeri, insana aşkın bir kaynaktan gelmektedir.

E) Her bilgi ve hakikat iddiası, diğer tüm insanların şüphesine ve eleştirisine açıktır.

43. Korkuların deneyimler sonucu nasıl öğrenildiğini anlamak için beyaz farelerden ve beyaz tavşanlardan korkmayan bir grup çocuk üzerinde bir araştırma yapılmıştır. Küçük çocukların yüksek sesli uyaranlardan kendiliğinden korktuğu bilinmektedir. Öncelikle, çocuklara beyaz fare gösterilirken aniden yüksek sesli bir uyaran verilmiştir. Bu eşleştirme bir süre tekrarlandıktan sonra çocuklar yüksek sesli uyaran olmadan da beyaz fareyi tek başına gördüklerinde korkmuşlardır. Ardından çocuklara beyaz tavşan tek başına gösterilmiş ve çocuklar beyaz tavşanı görünce de korkmuşlardır.

Buna göre çocukların beyaz farelerden ve beyaz tavşanlardan korkmaya başlaması sırasıyla aşağıdakilerden hangisine örnektir?

A) Edimsel koşullanma yoluyla öğrenme - Olumsuz pekiştirme

B) Klasik koşullanma yoluyla öğrenme - Kendiliğinden geri gelme

C) Klasik koşullanma yoluyla öğrenme - Sönme

D) Klasik koşullanma yoluyla öğrenme - Genelleme

E) Edimsel koşullanma yoluyla öğrenme - Olumlu pekiştirme

44. Eğitim düzeyi ve suç işleme davranışı arasındaki nedenselliği açıklamaya çalışan toplumsal bir araştırma yapacağımızı düşünelim. Eğer verilerimizi sadece ilkokul ve ortaokul mezunlarından toplarsak okuryazar olmayanlar, okuryazar olup herhangi bir diploması olmayanlar, lise ve üniversite mezunları kapsam dışında kalacaktır. Bu durumda araştırmamızın sonuçları eğitim ve suç arasındaki ilişkiyi yansıtmaktan uzak olacak, bulgular genellendiği takdirde de toplumsal gerçeklik yanlış yansıtılmış olacaktır.

Bu parçada toplumsal araştırma sürecinde dikkat edilmesi gereken hangi unsur vurgulanmaktadır?

A) Seçilen örneklemin evreni temsil etmesi

B) Uygun istatistiksel analiz yöntemlerinin kullanılması

C) Araştırma hipotezlerinin oluşturulması

D) Araştırmada nesnel davranılması

E) Uygun veri toplama tekniklerinin seçilmesi

45. Çoğu zaman bir insanın dışardan görünümü bedeni de dâhil olmak üzere onun sahip olduğu kültürü ve hayatı algılama biçimini yansıtır. Kimi zaman giydiği bir kıyafetten, jest ve mimiklerinden veya yürüyüşünden hatta sadece gülüşünden bile bir insanın hangi kültürde yetiştiğini, hangi dine mensup olduğunu, hangi siyasi görüşe sahip olduğunu hatta hangi takımı tuttuğunu anlayabiliriz.

Bu parçadan aşağıdaki yargıların hangisine ulaşılabilir?

A) Kültür, üyelerinin fiziksel ve zihinsel dünyalarına gözlenebilir anlamlar yükler.

B) Kültür, giyim kuşam beğenilerini yönlendiren moda üzerinden kendini gösterir.

C) Kültürel yozlaşmayı engellemek için yerel kıyafetler tercih edilmelidir.

D) İnsanın dış görünümü her zaman toplumun baskın kültürünü yansıtır.

E) İnsan, içinde doğduğu kültürü kendi düşünceleriyle yeniden üretir.

46. Önermeler mantığı tanımlarına göre aşağıdaki ifadelerden hangisi <u>yanlıştır</u>?

A) Öncülleri birbiri ile tutarsız olan bütün çıkarımlar geçerlidir.

B) Her geçerli önerme aynı zamanda tutarlı bir önermedir.

C) Her geçerli önermenin değili tutarsız bir önermedir.

D) Ön bileşeni geçerli bir önerme olan bütün koşullu önermeler doğrudur.

E) Art bileşeni geçerli bir önerme olan bütün koşullu önermeler doğrudur.

SOSYAL BİLİMLER-2 TESTİ BİTTİ.
MATEMATİK TESTİNE GEÇİNİZ.

2022 ALAN YETERLİLİK TESTLERİ (AYT)

2022 YKS 2. OTURUM ALAN YETERLİLİK TESTLERİ (AYT)

19-06-2022

SOSYAL BİLİMLER-2 TESTİ

1. E
2. A
3. A
4. C
5. B
6. A
7. D
8. B
9. B
10. B
11. E
12. D
13. C
14. E
15. D
16. D
17. E
18. A
19. A
20. C
21. C
22. B
23. D
24. A
25. D
26. B
27. C
28. A
29. E
30. D
31. D
32. C
33. B
34. C
35. C
36. D
37. A
38. E
39. A
40. B
41. B
42. D
43. D
44. A
45. A
46. D

1. Bu testte sırasıyla, Tarih-2 (1-11), Coğrafya-2 (12-22), Felsefe Grubu (23-34), Din Kültürü ve Ahlak Bilgisi (35-40), Din Kültürü ve Ahlak Bilgisi dersini yasal olarak almak zorunda olmayan veya farklı müfredat ile alanlar için Felsefe Grubu (41-46) alanlarına ait toplam 46 soru vardır.

2. Cevaplarınızı, cevap kâğıdının Sosyal Bilimler-2 Testi için ayrılan kısmına işaretleyiniz.

1. Tarih araştırmalarında kullanılan kaynaklardan, olayın geçtiği döneme ait belge ve buluntular "birinci el kaynak"; o döneme yakın ya da o dönemin kaynaklarından faydalanılarak meydana getirilen eserler ise "ikinci el kaynak" olarak nitelendirilir.

Buna göre aşağıdakilerden hangisi birinci el kaynak olarak nitelendirilemez?

A) Kadeş Antlaşması metninin yer aldığı tablet

B) Roma İmparatorluğu Dönemi'ne ait altın sikke

C) II. Abdülhamit Dönemi'nde çekilen İstanbul fotoğrafları

D) Balkan savaşlarına katılmış olan bir askerin günlüğü

E) Tanzimat Dönemi üzerine yazılmış olan makale

2. Tarihçi Jordanes; "Muncuk'un oğlu, bütün kahraman kavimlerin hâkimi, sen tek başına daha önce hiç kimsenin yapamadığı tarzda Hunların ve Cermenlerin ülkesinde hüküm sürdün. İmparatorluğu korku içinde bıraktın, onların şehirlerini zapt ettin. Onların hepsi senin kölen olmadan önce onların yalvarışlarına acıdın ve onlardan yıllık vergi aldın." demiştir.

Bu ifadelerde söz edilen hükümdar aşağıdakilerden hangisidir?

A) Attila B) Mete C) Teoman

D) Cengiz E) Bumin

3. Malazgirt Savaşı'ndan sonra Anadolu'ya yapılan Türk akınları sonucunda Selçuklu sultanlarının hizmetindeki Türk komutanlar tarafından kurulan ve özellikle Anadolu'nun doğu ve güneydoğusunun Türkleşmesinde etkili olan ilk dönem Türk beylikleri arasında aşağıdakilerden hangisi yer almaz?

A) Artuklular B) Danişmentliler

C) Ahlatşahlar D) Eretnalılar

E) Mengücekler

4. Osmanlı Devleti'nde Klasik Dönem'in sonunda aşağıdakilerden hangisinin, merkezî hazinenin masraflarını artırdığı söylenebilir?

A) Konar-göçerlerin yerleşik hayata geçirilmesinin

B) Taşrada dirliklerin sayısının artırılmasının

C) Fethedilen bölgelerin tahririnin yapılmasının

D) Vakıf topraklarının mirî araziye çevrilmesinin

E) Kapıkulu askerlerinin sayısının çoğalmasının

5. II. Bayezit Dönemi'nde Karamanoğulları, Memlûkler ve Rodos Şövalyelerinin de desteklemesi sonucu Osmanlı Devleti'nin iç ve dış politikasını etkileyen gelişme aşağıdakilerden hangisidir?

A) Şeyh Bedreddin'in Anadolu'da fikirlerini yayarak kargaşa çıkarması

B) Şehzade Cem'in tahtta hak iddia ederek isyan etmesi

C) Haçlı donanmasının İnebahtı'da Osmanlı donanmasını bozguna uğratması

D) Şahkulu İsyanı'nın Anadolu'nun çeşitli yerlerinde asayişi bozması

E) Germiyanoğullarının Osmanlılara karşı topraklarını genişletmek istemesi

6. “Bundan sonra Avrupa, kendi yasalarına göre hareket eden, kendi siyasal ve ekonomik çıkarlarını izleyen, serbestlik içinde ittifaklar kuran ve bozan, savaş ile barış arasında, güç dengesi kurallarına göre durum değiştiren, elçi gönderip kabul eden bağımsız ve özgür devletlerden oluşacaktır. Devletlerin üzerinde, onların ilişkilerini düzenleyen herhangi bir üstün otorite yoktur.”

Vestfalya Antlaşması’ndan alıntılanan bu ifadeler dikkate alındığında aşağıdakilerden hangisine ulaşılabilir?

A) Katolik kilisesinin gücünü giderek artırdığına

B) Devletler arası ilişkilerde yeni bir dönemin başladığına

C) Mezhep temelli çatışmalara zemin hazırlandığına

D) Barışı sağlayan uluslararası bir örgütün kurulduğuna

E) Devletlerin iç politikasında demokrasinin öncelik kazandığına

7. Osmanlı Devleti XVIII-XIX. yüzyıllarda Avrupa’nın büyük devletleri ile ilişkilerini bir denge politikası çerçevesinde yürütmüştür.

Osmanlı Devleti bu politika ile aşağıdakilerden hangisini amaçlamıştır?

A) Mevcut sınırlarını koruyarak varlığını sürdürmeyi

B) Viyana Kongresi’yle oluşan siyasi dengeyi değiştirmeyi

C) Millet sistemini değiştirerek ulus devlet yapısına geçmeyi

D) Avrupa devletlerine tanıdığı imtiyazları kaldırmayı

E) Sömürgecilik yapan devletler arasına katılmayı

8. Mustafa Kemal’in “Minnet borcum var, bana yeni bir ufuk açtı.**” diyerek tarih öğretmeni Kolağası Mehmet Tevfik Efendi’nin etkisinden söz ettiği ve Namık Kemal ile Tevfik Fikret'in eserlerini okuyarak vatan ve hürriyet fikirlerini geliştirdiği okul aşağıdakilerden hangisidir?**

A) Harbiye

B) Manastır Askerî İdadisi

C) Harp Akademisi

D) Şemsi Efendi Mektebi

E) Selanik Askerî Rüştiyesi

9. Amasya Genelgesi’nde yer alan “Bütün illerin her sancağından, halkın güvenini kazanmış üç temsilcinin hemen yola çıkarılması gerekmektedir. Her olasılığa karşı bu durum millî bir sır gibi tutulmalı ve temsilciler gerekli görülen yerlerde kimliklerini gizleyerek gelmelidir.**” ifadeleri aşağıdakilerden hangisi için kullanılmıştır?**

A) Osmanlı Mebusan Meclisinde yer alacak mebuslar

B) Sultanahmet mitingine katılacak sivil ve askerî görevliler

C) Sivas’ta toplanacak kongreye gönderilecek delegeler

D) Merkez Ordusu'nda görev yapacak komutanlar

E) Saltanat Şurasında seçilecek yerel yöneticiler

10. Millî Mücadele yıllarında Birinci ve İkinci İnönü Muharebelerinde kazanılan zaferlerle ortaya çıkan iyimser hava, Kütahya-Eskişehir Muharebesi sonucu yerini kısmî bir karamsarlığa bırakmıştır. Türk ordusunun Sakarya Nehri'nin doğusuna çekildiği bu dönemde Yunan ordusu yeni bir saldırı hazırlığına girişmiştir.

Yunan saldırısına karşı Türk tarafının hazırlıklar yaptığı bu sırada, aşağıdakilerden hangisi gündeme gelmiştir?

A) Ali Fuat Paşa'nın Moskova'ya elçi olarak atanması

B) Ankara Müftüsü Rıfat (Börekçi) Efendi'den mücadele için fetva alınması

C) Türkiye Büyük Millet Meclisinin Ankara'dan Kayseri'ye taşınması

D) İsmet Paşa'nın Batı Cephesi Komutanlığı'na getirilmesi

E) Kuvayımilliye'nin yerine düzenli ordunun kurulması

11. 18 Eylül 1922'de Anadolu'nun düşman işgalinden tümüyle temizlenmesi sonrasında Mustafa Kemal Paşa'nın teklifiyle Fevzi (Çakmak) Paşa'ya üstün hizmetlerinden dolayı "mareşallik" rütbesi verilmiştir.

Fevzi (Çakmak) Paşa'ya bu rütbe aşağıdaki hizmetlerinin hangisi üzerine verilmiştir?

A) İstanbul'un işgal edilmesi üzerine TBMM'ye katılması

B) Birinci Dünya Savaşı sırasında önemli görevler üstlenmesi

C) Bir süre Millî Savunma Bakanlığı görevini yürütmüş olması

D) Başkomutan Meydan Muharebesi'nin kazanılmasında rol oynaması

E) Osmanlı Hükûmetindeki görevinden istifa etmesi

12. I. Kıyıya yakın kesimler canlı çeşitliliği açısından zengindir.
II. Akıntılar canlı türlerinin dağılışında önemlidir.
III. Işığın ulaşamadığı derinliklerde canlı yaşamı yoktur.

Denizel ekosistemlerle ilgili yukarıdaki ifadelerden hangileri doğrudur?

A) Yalnız I B) Yalnız II C) Yalnız III

D) I ve II E) II ve III

13. Sıcaklık değerlerinin mevsim normallerinin altına düşmesi ve bir süre devam etmesi soğuk hava dalgası olarak ifade edilir. Bu hava dalgası ekstrem hava olayı olarak kabul edilir ve pek çok doğal, beşerî ve ekonomik etkiye neden olur.

Bu ekstrem hava olayının yarattığı etkiler arasında;

I. enerji tüketiminin artması,
II. bitki türlerinin yok olması,
III. üretim faaliyetlerinin aksaması

durumlarından hangileri <u>yer almaz</u>?

A) Yalnız I B) Yalnız II C) Yalnız III

D) I ve II E) II ve III

14. Türkiye'de son yıllarda küresel iklim değişikliğinin etkileri görülmektedir. Bu etkiler zaman içerisinde bazı alanlarda çölleşme riskinin artmasına neden olacaktır.

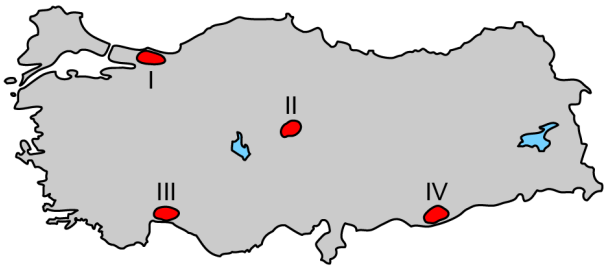

Haritada numaralandırılan alanların hangilerinde bu risk daha azdır?

A) I ve II B) I ve III C) II ve III

D) II ve IV E) III ve IV

15. Cumhuriyet Dönemi'nde; Türkiye'de, farklı dönemlerde çeşitli nüfus politikaları uygulanmıştır. Cumhuriyet'in ilk yıllarında nüfus artışına yönelik politikalar, 1960'lı yıllardan sonra artış hızını azaltacak politikalar, 2014 yılından sonra ise artış hızını yükseltme yönünde nüfus politikaları uygulanmıştır.

2014 yılı sonrasında uygulanan bu politikanın temel amacı aşağıdakilerden hangisidir?

A) Dinamik genç nüfusun korunması

B) Bebek ölüm oranlarının azaltılması

C) Ülke dışına göçlerin sınırlandırılması

D) Boşanma oranlarının azaltılması

E) Eğitimli nüfusun artırılması

16. Organik tarım, tohumun toprağa bırakılmasından hasada kadar olan süreçte kimyasal girdi kullanmadan her aşaması kontrollü ve sertifikalı bir üretim biçimidir. Türkiye'de bu üretim biçimi son yıllarda artarak devam etmektedir.

Aşağıdakilerden hangisi bu tarımsal üretim biçiminin temel amaçlarından biri <u>değildir</u>?

A) Sertifikalı ürün temini B) Toprağın korunması

C) Yer altı sularını koruma D) Güvenilir gıdaya erişim

E) Tarımsal verimi artırma

17. Türkiye'de elektrik elde etmek için kullanılan enerji kaynakları giderek çeşitlenmekle birlikte yenilenebilir enerji kaynaklarının toplam enerji üretimi içerisindeki payı da giderek artmaktadır.

Buna göre günümüzde yenilenebilir enerji kaynakları içerisinde en fazla pay aşağıdakilerden hangisine aittir?

A) Rüzgâr enerjisi B) Hidrolik enerji

C) Güneş enerjisi D) Biyoenerji

E) Jeotermal enerji

18. Cumhuriyet'in ilk yıllarında hemen her alanda olduğu gibi sanayi alanında da önemli yatırımlar yapılmış ve bazı kırsal yerleşmeler hızla büyüyerek bir şehre dönüşmüştür.

Aşağıdakilerden hangisi bu duruma örnek gösterilebilir?

A) Batman B) Denizli C) Gaziantep

D) Konya E) Bursa

19. Türkiye ekonomisinde önemli bir yere sahip olan turizm, bu sektörün doğrudan sağladığı gelir ve istihdamın yanında çeşitli alanları harekete geçirerek ekonomiye katkı sağlamaktadır.

Bu sektörün, aşağıdakilerden hangisi üzerinde etkisi daha azdır?

A) Seyahat şirketlerinin sayısı

B) Konaklama tesislerinin kapasitesi

C) Ulaşım sektörünün gelişimi

D) Eğlence sektörünün yaygınlaşması

E) Hastanelerin dağılışı

20. Aşağıdaki haritada bazı alanlar kırmızı renkle gösterilmiştir.

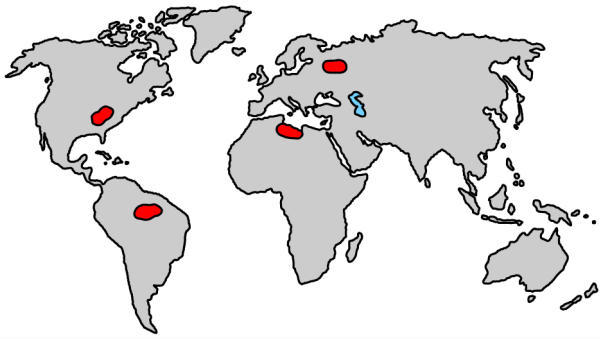

Buna göre haritada aşağıdaki hangi büyük kültür bölgesini temsil edecek alan bulunmaz?

A) Batı Avrupa Kültür Bölgesi

B) Slav-Rus Kültür Bölgesi

C) Latin Amerika Kültür Bölgesi

D) Afrika Kültür Bölgesi

E) İslam Kültür Bölgesi

21. Az gelişmiş ülkelerin büyük bölümünde tarım, genellikle temel ihtiyaçların karşılanmasına yönelik olarak ve çoğunlukla geleneksel yöntemlerle yapılmaktadır.

Aşağıdakilerden hangisi bu ülkelerdeki tarımsal faaliyetlere ilişkin özelliklerden biridir?

A) Üretimin büyük ölçüde doğal koşullara bağlı olması

B) Tarıma dayalı sanayinin gelişmiş olması

C) Üretimin çoğunlukla ihracata yönelik olması

D) Daha az insan gücüne ihtiyaç duyulması

E) Zararlılarla mücadelenin modern tekniklerle yapılması

22. Sanayileşme ile birlikte artan enerji ve ham madde ihtiyacı; doğal kaynakların aşırı ve hızlı tüketimine, buna bağlı olarak pek çok çevre sorununun ortaya çıkmasına yol açmıştır. Bu nedenle doğal kaynakların kullanımında sürdürülebilirlik yaklaşımı giderek daha önemli hâle gelmiştir.

Aşağıdakilerden hangisi bu yaklaşıma örnek gösterilemez?

A) Yenilenebilir enerji kaynaklarının, toplam enerji üretimi içindeki payının artırılması

B) Binalarda ısı kaybını azaltmak amacıyla yalıtım yapılması

C) Enerji ihtiyacını karşılamak için fosil enerji kaynaklarının kullanımının yaygınlaştırılması

D) Enerji verimliliği konusunda toplumun her kesiminin bilinçlendirilmesi

E) Evsel atıkların, geri dönüşümünün sağlanması amacıyla kaynağında gruplandırılması

23. Nietzsche, “Filozoflar, kendilerine verilen kavramları, yalnızca onları temizleyip cilalamak üzere kabullenmekle yetinmemeli, onları üretmek, yaratmak, ortaya koymakla işe başlamalı ve insanları bu kavramlara başvurmaya ikna etmelidir.” sözleriyle kendisinden önceki felsefe yapma biçimlerini de ciddi anlamda sorgular. Ona göre kavramlar koşulsuz güvenilecek mucizevi varlıklar değildir. Bir filozofun yapması gereken şey, kavramlar konusunda güvenin yerine güvensizliği koymaktır.

Nietzsche’nin bu düşünceleri dikkate alındığında aşağıdakilerden hangisi bir filozoftan beklenebilecek bir yaklaşımdır?

A) Hakikatin yapısını keşfetmeye çalışmalıdır.

B) Kullandığı bütün kavramları kendisi yaratmalıdır.

C) Topluma uygun felsefe yapmalıdır.

D) Yerleşmiş kavramları sorgulamalıdır.

E) Belirsiz kavramları netleştirmelidir.

24. Bu dünyadaki en iyi şeyin mutluluk olduğu konusunda insanlar uzlaşmış gibi görünmekteyken mutluluğun ne olduğu veya nasıl elde edileceği konusunda tam bir fikir birliğinden söz etmek mümkün değildir. Aristoteles'e göre de mutluluk, insan için en iyi şeydir. Herhangi bir şeyin iyi olabilmesi için de özünün gerektirdiği işi doğru yapması gerekir. Peki "İnsanın işi nedir?". Marangozun, ayakkabıcının belli işleri ve yaptıkları vardır da, insanın bir işi yok mudur? Bu iş yaşamak olsa bitkiler de yaşıyor, besleniyor, büyüyor ve çoğalıyor. Duyumsama ise hayvanlarda da olan bir özellik. O hâlde insana bir tek düşünerek eylemde bulunmasını sağlayan akıl kalıyor.

Aristoteles'in bu düşüncelerine göre insan nasıl mutlu olur?

A) Arzularını gerçekleştirdiğinde

B) Diğer insanlara faydalı olduğunda

C) Duyumsaması zenginleştiğinde

D) Ayırt edici niteliğini gerçekleştirdiğinde

E) Doğayla uyumlu yaşadığında

25. Nurettin Topçu, Batı felsefesinin yöntem ve kavramlarını kullanmasına rağmen meselelere kendi ahlaki ve kültürel problemlerimiz açısından yaklaşmıştır. "İsyan ahlakı" olarak adlandırdığı felsefesinde onun amacı; kendi buhranlarımız karşısında geçmişe övgüler düzmek ya da ağıt yakmaktan daha çok, görev bilinciyle evrensel standartlarda, bugün yaşayan insanımız için yepyeni bir dünya kurma idealini harekete geçirmektir. Bu bağlamda Topçu'ya göre insandan başlayarak tabiatla ve hatta kâinatla dost olup yeni bir dünya görüşü ve toplum düzeni kurmak temel hedef olmalıdır.

Buna göre aşağıdakilerden hangisi "isyan ahlakı**"nın bir özelliği olarak <u>gösterilemez</u>?**

A) Evrensel olması

B) Toplumun beklentilerini karşılaması

C) Yerel problemlerden hareket etmesi

D) Sorumluluk temelinde hareket etmesi

E) Yenilikçi olması

26. Psikoloji araştırmalarında kullanılan deneysel yöntemle ilgili aşağıdaki bilgilerden hangisi <u>yanlıştır</u>?

A) Sebep-sonuç ilişkisini ortaya koymayı hedefler.

B) Değişkenler arasındaki ilişkinin düzeyini ve yönünü belirlemeyi amaçlar.

C) Araştırmacı tarafından kontrol altına alınmış değişkenlerle uygulanır.

D) Bilimin açıklama amacına hizmet eder.

E) Deneyde etkisi araştırılan değişken, bağımsız değişkendir.

27. Alışma ve duyarlılaşma kavramlarıyla ilgili;

I. Alışma ve duyarlılaşmadaki ortak unsur uyarıcıların tekrarıdır.
II. Alışmada uyarıcıya verilen tepki artarken duyarlılaşmada azalır.
III. Duyarlılaşma hâlinde kişi, ilgili uyarıcıya karşı daha hassas hâle gelir.

ifadelerinden hangileri doğrudur?

A) Yalnız I B) Yalnız II C) Yalnız III

D) I ve III E) II ve III

28. Uzun süredir aktif olarak araç kullanan bir şoför biraz ileride trafik lambasını fark eder ve kırmızı ışığın yandığını görerek yavaşlar. Trafik lambasının ışığı kırmızıdan sarıya döner ancak sonrasında yeşil ışık yanmaz. Şoför trafik lambasının bozuk olduğunu anlar ve geçiş hakkının kendisinde olduğunu bilerek yoluna devam eder.

Trafik lambasının bozuk olmasına rağmen şoförün sıradaki ışığın yeşil olacağını bilmesi, aşağıdaki algı prensiplerinden hangisine örnektir?

A) Şekil-zemin ilişkisi B) Tamamlama

C) Yakınlık D) Benzerlik

E) Süreklilik

29. Bizi yüksek statü arayışına yönelten karşı konulmaz isteklerin neler olduğu konusunda yaygın birtakım yargılar vardır. İlk akla gelenler para, ün ve itibar edinme hırsıdır. Alain de Botton, *Statü Endişesi* adlı kitabında bu arayışın asıl sebebinin sevilme ihtiyacı olduğunu söyler. Seviliyorsak eğer varlığımızın farkına varılır, görüşlerimiz dinlenir, başarısızlıklarımıza hoşgörüyle bakılır, ihtiyaçlarımız karşılanır. Böylece ilgi odağı olan bizler kabul görmenin hazzını yaşar, yaşamın keyfine varırız. Statümüzden dolayı sevgi gösterenlerin beklentileri farklı olabilir ama yine de sevilen kişi başkalarının iyi niyetli ve sevgi dolu bakışları altında korunuyor olmanın huzurunu duyar.

Bu parçaya göre statü arayışında aşağıdakilerden hangisi amaçlanmaktadır?

A) Bulunulan statünün prestijini artırmak

B) Doğuştan gelen statüleri değiştirmek

C) Kendi belirleyebileceği toplumsal rolleri oynamak

D) Toplumsal hiyerarşide onaylanacağı bir yer edinmek

E) Sahip olunan statüler arasından anahtar statü belirlemek

30. Köyden kente göç, genellikle bir umut hikâyesidir. Bu nedenle göç edenler için kent; “modernlik”, “özgürlük”, “tüketim”, “zenginlik” ve “çeşitlilik” gibi pozitif anlamlar yüklenmiş kavramlarla anılmıştır. Fakat sonraki süreçte göç eden herkes için aynı algı devam etmemiştir. Bazıları için kent; “yalnızlık”, “samimiyetsizlik”, “karmaşa”, “düzensizlik”, “yoksulluk” ve “suç” gibi olumsuz kavramlarla ilişkilendirilmeye başlamıştır.

Bu parçadaki durumun yaşanmasında kentlerin aşağıdaki özelliklerinden hangisinin etkisinden <u>söz edilemez</u>?

A) Bireysellik

B) Ekonomik unsurlar

C) İkincil ilişkiler

D) Heterojen kültür

E) Uzmanlaşma

31. Her toplum, onu diğer toplumlardan ayıran belli ortak imge ve temsillere sahiptir. Bu imgeler toplumun üyelerine değerli idealler olarak aktarılır ve bunlarla duygusal bağlar kurmaları sağlanır. Toplumsal aidiyet duygusunun gelişimi ve ortak bir kimliğin oluşumu bu bağlar üzerinden gerçekleşir. Böylece ortak imgeler toplumun üyelerini kaynaştıran ve birlikteliği sağlayan bir çimento vazifesi görür.

Bu parçaya göre ortak imgelerin toplumsal işlevi aşağıdakilerden hangisidir?

A) Toplumsal dayanışma

B) Toplumsal tabakalaşma

C) Toplumsal bütünleşme

D) Toplumsal iş bölümü

E) Toplumsal kontrol

32. Yazarlar; eserlerinde karakterlerini, onların duygu durumlarını ya da yaşanan olayları betimlerken etkileyici olmak için birlikte kullanılması uygun olmayan zıt anlamlı sözcükleri bir arada kullanarak oksimoron oluşturur. Oysa dikkatli bir okuyucu mantıksal ilkelere ve tanımlama kurallarına aykırı olan bu ifadeleri hemen fark edebilir. Örneğin “İlerlemiş yaşına rağmen sapasağlam olan yetmişlik bir delikanlı, sonsuzluğun sınırında hiç kimsenin duymadığı ama derinden hissettiği sessiz çığlıklarıyla etrafına seslenir, ne var ki kimse bu adamı ne tanır ne görür ne de işitir.” ifadesi birden fazla oksimoron içermektedir.

Bu durumda oksimoron, mantıkta

I. özdeşlik,
II. çelişmezlik,
III. üçüncü hâlin imkânsızlığı,
IV. yeter-sebep

akıl ilkelerinden hangilerine aykırıdır?

A) Yalnız I

B) Yalnız II

C) Yalnız III

D) I ve III

E) III ve IV

33. Platon insan için "İki ayaklı ve tüysüz bir canlıdır." diye bir tanım getirip bununla büyük bir övgü toplayınca Diogenes bir horoz bulup tüylerini yoldu ve okula getirip "İşte Platon'un insanı!" diye gösterdi.

Bu kısa hikâyede Diogenes'in Platon'un insan tanımına yönelik eleştirisi aşağıdakilerden hangisiyle ifade edilebilir?

A) Tanımda kısır döngü bulunmamalıdır.

B) İlgili tüm fertler tanımın içinde, dâhil olmayanlar da dışarıda bırakılmalıdır.

C) Üstün cinslerin tanımı yapılamaz.

D) Tanımda anlatılmak istenen ne çok uzun ne de çok kısa olmalıdır.

E) Bir şey kendisinden daha açık olmayan başka bir şey ile tanımlanmamalıdır.

34. Doktorluğun insanlara özgü bir meslek olduğunu "Tüm doktorlar insandır." şeklinde ifade edebiliriz. Sadece bu bilgiden "Bazı insanlar doktordur." önermesine kolaylıkla akıl yürüterek ulaşabiliriz. Benzer şekilde "Hiçbir doktor bitki olmadığına göre hiçbir bitki de doktor olamaz." diyebiliriz.

Bu parçadaki akıl yürütme aşağıdakilerden hangisidir?

A) Tümdengelim

B) Tümevarım

C) Döndürme

D) Kıyas

E) Analoji

35 - 40. soruları Din Kültürü ve Ahlak Bilgisi dersini yasal olarak almak zorunda olanlar ve İmam Hatip Okulları öğrencileri/mezunları cevaplayacaktır.

35. İslam dininde ibadetlerin yapısı ve uygulanışına dair bazı temel ilkeler vardır. Bu temel ilkeler Allah tarafından belirlenmiş ancak ibadetlerin nasıl yapılacağı çoğunlukla Hz. Muhammed'in rehberliğine ve uygulamasına bırakılmıştır. Bu nedenle bir kimse kendi bakış açısına göre herhangi bir ibadet biçimi ortaya koyamaz ve farklı uygulama biçimleri geliştiremez.

Bu parçada ibadetlerin taşıması gereken ilkelerin hangisinden söz edilmiştir?

A) İstekli yapılıyor olması

B) Toplumu birleştirici olması

C) Niyet gözetilerek yerine getirilmesi

D) Kur'an-ı Kerim ve Sünnet'e uygun olması

E) Devamlılığın esas olması

36. Günlük hayatta birçok kişi yaptığı iyiliğin karşılığında bir takdir veya benzer bir karşılık görmek ister. Bunu göremediğinde ise "Ama ben ona iyilik yapmıştım. O neden bana iyilik yapmadı?" diye şikâyet eder. İnsanlar iyilik yaptıklarında iyilik bekleyebilirler. Ancak böyle bir beklenti içine girmek iyilik kavramının anlamını yitirmesine yol açar. Bundan dolayı İslam'da her iyiliğin Allah rızası için yapılması istenir. Hz. Muhammed'in "'İnsanlar iyilik yaparlarsa biz de iyilik yaparız, zulmederlerse biz de zulmederiz.' diyen zayıf karakterli kimseler olmayın. Bilakis iyilik yaptıklarında insanlara iyilik yapmayı, kötülük yaptıklarında ise onlara zulmetmemeyi alışkanlık hâline getirin." sözü de bu noktaya dikkat çekmektedir.

Bu parçada asıl anlatılmak istenen aşağıdakilerden hangisidir?

A) İyiliği değerli kılan, dünyevi karşılık beklemeden yapılmasıdır.

B) İyiliğin niceliğinden çok niteliğine önem verilmelidir.

C) İyilik yapmanın toplumu birleştirici rolü bulunmaktadır.

D) Gösteriş için yapılan iyiliğin, Allah katında bir değeri yoktur.

E) İnsan kendine yapılmasını istemediği davranışları başkasına da yapmamalıdır.

37. Müslüman âlimler, Kur'an-ı Kerim'in ve Hz. Muhammed'in bilime teşvik mesajlarının rehberliğinde hem din bilimlerinde hem de pozitif ilimlerde önemli çalışmalar yapmıştır. Bu âlimlerden biri, matematik alanında yaptığı çalışmalarla öne çıkmıştır. Logaritmayı geliştirmiş, sıfırlı ondalık sayıyı bulmuştur. Yaptığı çalışmalarla cebir ilminin kurucusu kabul edilmiştir.

Bu parçada bahsedilen âlim aşağıdakilerden hangisidir?

A) Harizmi
B) Farabi
C) İbn Sina
D) Ebu Bekir Razi
E) Biruni

38. Yahudilik ile ilgili proje ödevi hazırlamak isteyen bir öğrenci cumartesi günü bu dinin ibadet mekânına gider. İçeriye girdiğinde cemaatin de orada olduğunu fark eder. O dine mensup kişilerin dinlenme ve ibadet günü olduğunu anlar. Ayinin bitmesini beklerken bu mekânı inceleme fırsatı bulur. Ayinde bulunan erkeklerin, üzerinde altı köşeli yıldız bulunan bir şapka taktığını görür. Ayrıca yedi kollu bir şamdanda mumların yandığını fark eder.

Bu parçada Yahudilikle ilgili aşağıdakilerin hangisinden <u>söz edilmemiştir</u>?

A) Şabat
B) Kipa
C) Menora
D) Sinagog
E) Tora

39. Hz. Muhammed hicretten sonra Medine'de ilk iş olarak Mescid-i Nebî'yi inşa ettirmiştir. Bu mescidin bitişiğinde yer alan suffe denilen bölümde eğitim öğretim faaliyeti sürdürülmüştür. Suffede başlayan bu faaliyet, Hz. Muhammed'in vefatından sonra daha çok cami merkezli olarak devam etmiştir. Buralarda Kuran-ı Kerim, tefsir, hadis, fıkıh, siyer gibi dinî ilimler okutulmuş ve bu dersler ders halkası şeklinde yürütülmüştür. Eğitim öğretim faaliyetleri daha sonra darü'l-hadis, darü'l-kurra ve medreselerde de gerçekleştirilmiştir.

Bu parçadan aşağıdaki yargıların hangisine ulaşılabilir?

A) Hicretten sonra eğitimde kurumsallaşma süreci başlamıştır.

B) Yeni eğitim merkezlerinin açılmasıyla camiler sadece ibadet mekânı olarak kullanılmıştır.

C) Suffede tüm ilmî alanlarla ilgili eğitim verilmiştir.

D) Cami dışındaki kurumlarda eğitim yaş gruplarına göre düzenlenmiştir.

E) Ders halkaları eğitim seviyelerine göre oluşturulmuştur.

40. Ahilik teşkilatının kurulmasında fütüvvet anlayışının önemli bir etkisi vardır. Abbasiler tarafından sistematik hâle getirilen ve Anadolu Selçukluları tarafından da sürdürülen bu teşkilatın beylikler döneminde pek çok alanda önemli hizmetleri olmuştur.

Aşağıdakilerden hangisi bu hizmetler arasında <u>yer almaz</u>?

A) Anadolu'da İslamiyet'in yayılması

B) Göçebe Türklerin yerleşik hayata geçmesi

C) Devlet adamlarının yetiştirilmesi

D) Gençlere meslek kazandırılması

E) Toplumsal birlik ve düzenin sürdürülmesi

41 - 46. soruları Din Kültürü ve Ahlak Bilgisi dersini yasal olarak almak zorunda olmayan veya farklı müfredat ile alanlar cevaplayacaktır.

41. Her düşünsel dönemin var olana bakışında, birbirine benzer ve farklı yönler bulunabilir. Bir dönemi anlayabilmenin yolu, onu diğer dönemlerden benzersiz kılan yönleriyle ele almak ve önceki dönemlerin bakış açılarından neleri aldığını tespit etmekten geçer. Örneğin Orta Çağ'da Antik Çağ'a göre "yeni" olan nedir? Dahası Orta Çağ, sonraki dönemler için neler hazırlamıştır? Bu doğrultuda E. Gilson; Batı'nın, Orta Çağ'ı inkâr ettiğinde aslında kendini ve tarihini inkâr ettiğini söyleyerek dönemlerin birbirinden bağımsız ele alınamayacağını ifade eder.

Buna göre düşünce tarihindeki dönemlerle ilgili olarak aşağıdaki yargıların hangisine ulaşılabilir?

A) Bir dönemi tüm yönleriyle betimlemek mümkün değildir.

B) Dönemler arasındaki sınırlar net bir şekilde belirlenmiştir.

C) Tarihsel açıklamalarda belli dönemler göz ardı edilebilir.

D) Orta Çağ felsefesi, Batı felsefesinin en önemli dönemidir.

E) Dönemler süreklilik ve farklılaşmayı birlikte içerir.

42. İdeal bir toplum arayışının kurgusal bir sonucu olan ütopyalar, dönemlerinin var olan siyasal ve toplumsal kurumlarını eleştirerek toplumları kötülüklerden arındırıp huzurlu kılacak değişmez değerler ve ilkeler ortaya koymayı amaçlamışlardır. Ancak 20. asırda yaşanan büyük savaşlar, bilimsel ve teknolojik gelişmelerin insan yaşamında meydana getirdiği olumsuz etkiler, insanların daha iyi bir topluma olan inançlarını köreltmiş ve iyimser bir ütopya anlayışı yerini karamsar olan istenmeyen ütopyalara bırakmıştır.

Buna göre "istenmeyen ütopya**"lara aşağıdakilerden hangisi neden olmuştur?**

A) Demokrasinin yaygınlaşmasıyla ideal devlet modellerine gerek kalmaması

B) Bilim ve teknolojinin gelişmesiyle bütün devlet modellerinin birbirine benzemesi

C) Daha iyi bir dünyanın var olabileceğine dair umutların yitirilmesi

D) Bireyselleşmenin artmasıyla ortak yaşam arzusunun zayıflaması

E) Toplumların zenginleşmesiyle devletlerin küçülmesi

43. Ceren, futbol taraftarlarının stadyumda maç izlerken gösterdikleri davranışların rakip takım taraftarlarının yaptığı tezahüratlar ve taraftar kimliğinden nasıl etkilendiğini incelemektedir. Bu amaçla farklı futbol takımlarının taraftarlarıyla maç çıkışlarında görüşmeler yapmaktadır.

Buna göre Ceren, psikolojinin aşağıdaki alt dallarından hangisinde araştırma yapmaktadır?

A) Bilişsel B) Gelişim C) Sosyal

D) Klinik E) Deneysel

44. Sosyologlar, insanların yaşadığı bireysel olayların daha geniş olguların yansıması olduğunu gösterir ve insanların deneyimleri arasındaki benzerlikleri ve bu benzerliklerin arasındaki farklılıkları ortaya koyarlar. Sosyoloji bizi deneyimlerimizi yeniden değerlendirmeye yöneltir; toplumsal olgu ve olayların, olduğunu zannettiğimiz şekilde olmadığını düşünmemizi, başka yorumlarının da olduğunu görebilmemizi sağlar. Sosyolojik düşünmenin bireye sağlayacağı en önemli fayda, şimdiye kadar düşündüğünden farklı bir şekilde düşünmeye başlamasını ve böylece o güne kadar tanıdığını düşündüğü dünyanın şimdi olduğundan daha farklı bir dünya olabileceğini keşfetmesini sağlamasıdır.

Buna göre sosyolojinin bireye kazandırmayı amaçladığı özellik aşağıdakilerden hangisidir?

A) Bireysel bilgi ve deneyimlerin önemini kavramak

B) Toplumsal olay ve olguları öznel bir bakış açısıyla ele almak

C) Dünyadaki farklı toplumlar hakkında bilinç oluşturabilmek

D) Konuları bilimsel akıl yürütmelerle ele almak

E) Topluma farklı ve geniş açılardan bakabilmek

45. Televizyon karşısında uzun zaman geçiren çocuk, izlediklerinden dolayı pek çok şey öğrenmekle birlikte onun gelişim aşamasıyla uyuşmayan ya da onu istenmeyen davranışlara yönlendirebilecek çeşitli olumsuz mesajlara da maruz kalabilmektedir. Bu mesajların çocuğun sosyalleşmesinde merkeze oturması endişe vericidir. Örneğin sosyalleşme sürecinde aile ya da okuldan değil de sürekli bir biçimde şiddeti meşrulaştıran, temel toplumsal değerleri zaafa uğratan ve bireylere renkli bir dünya sunan televizyondan etkilenmesi; çocuğun hem benliğinin gelişmesinde hem de yaşam algısında önemli hasarlar oluşturabilecektir.

Bu parçada aşağıdaki kavramlardan hangisinin önemine vurgu yapılmaktadır?

A) Ailede sosyalleşme

B) Sağlıklı sosyalleşme

C) Yetişkinlikte sosyalleşme

D) Hayat boyu sosyalleşme

E) Okulda sosyalleşme

46. Aşağıdakilerden hangisi tümdengelim akıl yürütmesine örnek olabilir?

A) Mengenlilerin tamamı aşçı değildir. Öyleyse bazı Mengenliler aşçı değildir.

B) Güzel olmayan çiçek yoktur. Seninki de çiçek olduğuna göre o da güzeldir.

C) Her insan birini sever. Kimisi az kimisi çok sever.

D) Bütün gün çalıştın. Çok çalışmaktan yorgun düşeceksin.

E) Tüm yeşil gömlekler bana yakışıyor. Yeşil tişört giysem o da yakışacak demek ki.

SOSYAL BİLİMLER-2 TESTİ BİTTİ.
MATEMATİK TESTİNE GEÇİNİZ.

2023 ALAN YETERLİLİK TESTLERİ (AYT)

2023 YKS 2. OTURUM ALAN YETERLİLİK TESTLERİ (AYT)

18-06-2023

SOSYAL BİLİMLER-2 TESTİ

1. E
2. A
3. D
4. E
5. B
6. B
7. A
8. B
9. C
10. C
11. D
12. D
13. B
14. B
15. A
16. E
17. B
18. A
19. E
20. D
21. A
22. C
23. D
24. D
25. B
26. B
27. D
28. B
29. D
30. E
31. C
32. B
33. B
34. C
35. D
36. A
37. A
38. E
39. A
40. C
41. E
42. C
43. C
44. E
45. B
46. B